新驾考通关宝典

轻松拿下科目一

适用车型：C1、C2、C3、C4

全彩印刷

更多通关利器尽在：www.automobilism.cn

◎ 主编　姚时俊

- 方法技巧归纳总结，试题考点全面解析
- 在线模拟随时练习，轻松学习顺利通关

机械工业出版社
CHINA MACHINE PRESS

新驾考通关宝典：

轻松拿下科目一

主　编　姚时俊

副主编　闫　彬

参　编　杨　明　毛　红　李　涛　黎才武　王泗禹

李菡露　徐瑞瑞　张　伟　姚媛媛

主　审　李　畅

机械工业出版社

CHINA MACHINE PRESS

本书分为新驾考科目一考试巧学、巧记与巧答，科目一考试考点与题库试题两大部分。第一部分主要介绍了科目一考试学习、记忆与答题技巧；第二部分对科目一考试的各知识点进行了全面讲解，并收集了近千道新题库中的试题进行练习，可供初次申请小型汽车驾驶证的考生学习。

本书语言精练，通俗易懂，实用性强，是驾校学员顺利、快速通过科目一考试的良师益友。

图书在版编目 (CIP) 数据

新驾考通关宝典 . 轻松拿下科目一 / 姚时俊主编 .—北京：机械工业出版社，2015.3
ISBN 978-7-111-49388-4

Ⅰ . ①新…　Ⅱ . ①姚…　Ⅲ . ①汽车驾驶员—资格考试—自学参考资料
Ⅳ . ① U471. 3

中国版本图书馆 CIP 数据核字 (2015) 第 033666 号

机械工业出版社 (北京市百万庄大街 22 号　邮政编码 100037)
策划编辑：陈玉芝　责任编辑：陈玉芝
版式设计：赵颖喆　责任校对：崔兴娜
封面设计：张　静　责任印制：乔　宇
保定市中画美凯印刷有限公司印刷
2015 年 4 月第 1 版第 1 次印
169mm×239mm·10.75 印张·216 千字
0001—4000册
标准书号：ISBN 978-7-111-49388-4
定价：39. 80元

凡购本书，如有缺页、倒页、脱页，由本社发行部调换

电话服务　　网络服务
服务咨询热线：010-88361066　机工官网：www. cmpbook. com
读者购书热线：010-68326294　机工官博：weibo. com/cmp1952
010-88379203　金书网：www. golden-book. com
封面无防伪标均为盗版　教育服务网：www. cmpedu. com

前　言

PREFACE

目前，我国私家车保有量已接近 1 亿辆，并仍在以年均 1400 多万辆的速度迅猛增长。随着私家车的普及，准备学习汽车驾驶技术，考取机动车驾驶证的人员越来越多，为帮助新驾驶人学习和掌握汽车理论知识及实际驾驶技能，顺利考取机动车驾驶证，我们组织编写了“新驾考通关宝典”丛书。该丛书包括：《轻松拿下科目一》《轻松拿下科目二、科目三》及《轻松拿下科目四》三本。

科目一考试内容主要包括道路交通安全法律、法规和规章，道路交通信号，安全行车、文明驾驶基础知识，机动车驾驶操作相关基础知识，以及地方性法规。这些内容涉及面广，专业性强，若不采取正确的学习与记忆方法，考试将难以过关。

本书依据《机动车驾驶证申领和使用规定》（公安部令第 123 号）、行业标准《机动车驾驶人考试内容和方法》（GA1026—2012）中有关小型汽车科目一考试内容的要求，对科目一考试的各知识点（简称“考点”）进行了全面讲解，并介绍了科目一考试内容的学习、记忆及答题技巧，还收集了近千道新题库中的试题供读者练习，旨在帮助初次申请小型汽车驾照的考生一次通过科目一考试。

本书由姚时俊主编，闫彬为副主编，杨明、毛红、李涛、黎才武、王泗禹、李菡露、徐瑞瑞、张伟、姚媛媛参加编写，李畅主审。

由于本书作者水平有限，书中难免有不足、欠妥和错误之处，敬请读者批评指正。

编　者

目录 CONTENTS

第一部分

新驾考科目一考试巧学、巧记与巧答 / 001

前言

一、巧学……002

（一）快捷学习法……002

（二）分类学习法……002

（三）反向学习法……002

（四）过筛学习法……002

二、巧记……002

（一）巧记与数字相关的试题……002

（二）巧记与记分相关的试题……003

（三）巧记与车速相关的试题……004

1. 一般道路车速规定……004

2. 高速公路车速规定……004

（四）巧记交通标志……005

1. 抓住主要特征……005

2. 去简记繁……007

3. 重点记住容易混淆的交通标志……007

（五）巧记交通标线……007

1. 记住基本形式和颜色……007

2. 记住容易混淆的交通标线……009

（六）巧记交通警察指挥手势……009

1. 停止信号和靠边停车信号……009

2. 左转弯信号和右转弯信号……010

3. 变道信号和慢行信号……010

4. 直行信号和左转弯待转信号……010

（七）巧记汽车仪表……011

1. 看表中方框……011

2. 看表中标记……011

（八）巧记汽车指示灯……011

三、巧答……012

（一）巧答判断题……012

1. “安全第一”原则……012

2. “正错反对”原则……012

目录

CONTENTS

3. “一错全错”原则 ……012
（二）巧答选择题 ……012
1. 反选法 ……013
2. 对比法 ……013
3. 优选法 ……013
4. 去同存异法 ……013
5. 印象认定法 ……014
（三）巧答图片题 ……014
1. 找到重点要素 ……014
2. 找到关键要素 ……014
3. 找到异常要素 ……015

一、道路交通安全法律、法规和规章 ……017
（一）道路交通安全法与实施条例 ……017
1. 机动车管理规定 ……017
2. 驾驶人管理规定 ……018
3. 道路交通信号规定 ……020
4. 机动车道规定 ……021
5. 行车间距与行驶速度规定 ……022
6. 交叉路口通行规定 ……025
7. 铁路道口与人行横道通行规定 ……029
8. 会车与超车规定 ……030
9. 掉头与停车规定 ……034
10. 车灯使用规定 ……037
11. 安全保护与驾车行为规定 ……039
12. 特殊情况通行规定 ……041
13. 高速公路通行规定 ……043
14. 违法行为处罚规定 ……048
（二）机动车驾驶证申领和使用规定 ……049
1. 机动车驾驶证申请 ……049
2. 机动车驾驶人考试 ……051
3. 发证、换证和补证 ……052
4. 记分 ……054
5. 审验 ……058
6. 监督管理 ……059

第二部分
科目一考试考点与题库试题
018

目录 CONTENTS

7. 对违法行为的处罚 …… 060
（三）机动车登记规定 …… 061
（四）道路交通安全违法行为处理程序规定 …… 062
（五）交通事故处理程序规定 …… 064
（六）刑法 …… 066
二、 道路交通信号 …… 067
（一）交通信号灯 …… 067
（二）交通标志 …… 073
1. 警告标志 …… 073
2. 禁令标志 …… 083
3. 指示标志 …… 087
4. 一般道路指路标志 …… 092
5. 高速公路、城市快速路指路标志 …… 096
6. 旅游区标志 …… 100
（三）交通标线 …… 101
1. 指示标线 …… 101
2. 禁止标线 …… 110
3. 警告标线 …… 115
（四）交通警察手势信号 …… 116
三、安全行车、文明驾驶知识 …… 119
（一）一般道路安全行车 …… 119
（二）特殊路段安全行车 …… 124
（三）山区道路安全行车 …… 126
（四）高速公路安全行车 …… 129
（五）恶劣气候条件下安全行车 …… 132
（六）夜间安全行车 …… 136
（七）轮胎爆裂避险知识 …… 138
（八）文明行车 …… 139
四、机动车驾驶操作相关基础知识 …… 144
（一）汽车仪表 …… 144
（二）汽车指示灯 …… 145
（三）汽车操纵件 …… 152
（四）汽车开关 …… 154
1. 点火开关 …… 154
2. 灯光、信号组合开关 …… 154
3. 刮水器开关 …… 155
4. 除雾器开关 …… 155
（五）汽车安全装置 …… 158

附录 2015 年科目一考试有什么变化 …… 161

第一部分

新驾考科目一考试巧学、巧记与巧答

一、巧学

（一）快捷学习法

科目一考试涉及的内容非常多，主要包括交通法规、交通信号、汽车常识、驾驶基础、安全行车、应急避险及文明驾驶等。面对如此多的内容，怎样以最快的速度、最简捷的方法来学习和掌握呢？其技巧就是以题库为主攻目标。官方的新驾考理论题库内容保密，不对社会公开，且不断处于增补、修订状态。为方便考生学习和考试，本书收集了新驾考科目一考试题库中的近一千道试题，这些试题分布在各章的【相关试题】中，可作为参考题库使用。

（二）分类学习法

科目一考试题库中经常有几道、甚至十几道题都反复围绕一个知识点（本书简称考点）进行考核，考过选择题后，再用判断题考，所以科目一考试的考点也就一百多个，实际上题库压缩一下，也就二三百题。为方便学习和记忆，可将相关联的试题进行集中分类，记住一个考点，便会做多道试题。题库中试题很多，分类工作量很大，为节省考生时间，本书已对试题进行了细分，考生直接进行学习即可。

（三）反向学习法

一般的学习方法都是先学习基础理论知识，然后再进行试题练习。驾考学习方法正好与之相反，它是先做题，对于不会的题，再反过来找相关的基础知识，直到弄懂为止。为方便考生学习，本书将与试题相关的基础知识进行了归纳，集中放在各“考点”中，可为考生节省大量查阅资料的时间。

（四）过筛学习法

过筛学习法就是将题库中的试题从头到尾一遍遍地做，每做一遍都把做错、不会做、不能确定的试题标上记号，然后将这些试题搞懂弄通，在理解的基础上加深记忆。经过反复练习，题库中记号会越来越少，直到没有记号，这时便可去考试了。

二、巧记

（一）巧记与数字相关的试题

题库中有很多试题带有数字，可对数字进行归纳，这样不仅容易记，而且记

得牢。如：

1）能见度小于 200 米时，开启雾灯、近光灯、示廓灯和前后位灯，车速不得超过每小时 60 千米，与同车道前车保持 100 米以上的距离。

2）能见度小于 100 米时，开启雾灯、近光灯、示廓灯、前后位灯和危险报警闪光灯，车速不得超过每小时 40 千米，与同车道前车保持 50 米以上的距离。

3）能见度小于 50 米时，开启雾灯、近光灯、示廓灯、前后位灯和危险报警闪光灯，车速不得超过每小时 20 千米，并从最近的出口尽快驶离高速公路。

记忆技巧：

对于这三种情况，只要记住：261、145、520 便可。学习时，也可按照自己的记忆方式进行归纳。

（二）巧记与记分相关的试题

机动车驾驶人违反交通安全时，依据违法行为的严重程度，一次记分的分值为：12 分、6 分、3 分、2 分、1 分五种，题库中所有与记分分值相关的试题只涉及 12 分和 6 分两种，其中涉及 6 分的只有六题（选择题和判断题各三题），其余均为 12 分。

记忆技巧：

1）只要将 12 分和 6 分所对应的违法行为记住即可应付考试。

2）记住六道 6 分题，其余与记分分值相关的试题（共 15 题）可以不记，因为答案都是 12 分。六道 6 分题如下：

例题 1. 驾驶人有下列哪种违法行为一次记 6 分？

A. 使用其他车辆行驶证

B. 车速超过规定时速 50% 以上

C. 违法占用应急车道行驶

D. 饮酒后驾驶机动车

答案：C

例题 2. 驾驶人驾驶机动车违反道路交通信号灯通行一次记多少分？

A. 2 分　　B. 3 分

C. 6 分　　D. 12 分

答案：C

例题 3. 有下列哪种违法行为的机动车驾驶人将被一次记 6 分？

A. 驾驶机动车违反道路交通信号灯

B. 未取得校车驾驶资格驾驶校车

C. 驾驶与准驾车型不符的机动车

D. 饮酒后驾驶机动车

答案：A

例题 4. 违反交通信号灯通行的一次记 6 分。

答案：√

例题 5. 驾驶机动车在高速公路违法占用应急车道行驶的一次记 6 分。

答案：√

例题 6. 驾驶机动车不按照规定避让校车的，一次记 6 分。

答案：√

（三）巧记与车速相关的试题

1. 一般道路车速规定

一般道路没有最低车速限制，只对最高车速进行了规定，见表 1-2-1。

记忆技巧：

最高车速简单的记忆方法是记住 3、4、5、7、3。

表 1-2-1　一般道路最高车速规定

类　别	运行条件（道路、气候等）	最高车速 /（km/ 小时）
没有道路中心线的道路	城市道路	30
	公路	40
同方向只有 1 条机动车道的道路	城市道路	50
	公路	70
特殊情形	1）进出非机动车道，通过铁路道口、急弯路、窄路、窄桥时 2）掉头、转弯、下陡坡时 3）遇雾、雨、雪、沙尘、冰雹，能见度在 50 米以内时 4）在冰雪、泥泞的道路上行驶时 5）牵引发生故障的机动车时	30

2. 高速公路车速规定

1）高速公路最高车速不得超过 120 公里 / 小时，最低车速不得低于 60 公里 / 小时。

记忆技巧：

最低车速是最高车速的一半。

2）在高速公路上行驶的小型载客汽车最高车速不得超过 120 公里 / 小时，其他机动车不得超过 100 公里 / 小时，摩托车不得超过 80 公里 / 小时。

记忆技巧：

不同车种的最高车速数字依次递减 20。

3）同方向有两条车道的，左侧车道的最低车速为 100 公里 / 小时；同方向

有三条以上车道的，最左侧车道的最低车速为 110 公里 / 小时，中间车道的最低车速为 90 公里 / 小时。

记忆技巧：

两条车道记住 100，三条以上车道一个数字是 100 加 10，另一个数字是 100 减 10。

（四）巧记交通标志

交通标志不仅数量多，而且形状和颜色多种多样，但只要掌握以下技巧，记住交通标志也不难。

1. 抓住主要特征

（1）形状特征

交通标志的形状特征见表 1-2-2。

（2）颜色特征

交通标志的颜色特征见表 1-2-3。

表 1-2-2　交通标志形状特征

序号	交通标志形状	使用规则	图　例
1	正等边三角形	用于警告标志	
2	圆形	用于禁令和指示标志	
3	倒等边三角形	用于“减速让行”禁令标志	
4	八角形	用于“停车让行”禁令标志	
5	叉形	用于“铁路平交道口叉形符号”警告标志	

（续）

序号	交通标志形状	使用规则	图例
6	方形	用于指路标志，部分警告、禁令和指示标志，旅游区标志，辅助标志，告示标志等	

表 1-2-3　交通标志颜色特征

序号	交通标志颜色	基本含义	图例
1	红色	表示禁止、停止、危险，用于禁令标志的边框、底色、斜杠，也用于叉形符号和斜杠符号、警告性线形诱导标的底色等	
2	黄色或荧光黄色	表示警告，用于警告标志的底色	
3	蓝色	表示指令、遵循，用于指示标志的底色；表示地名、路线、方向等的行车信息，用于一般道路指路标志的底色	
4	绿色	表示地名、路线、方向等的行车信息，用于高速公路和城市快速路指路标志的底色	
5	棕色	表示旅游区及景点项目的指示，用于旅游区标志的底色	
6	黑色	用于标志的文字、图形符号和部分标志的边框	
7	白色	用于标志的底色、文字和图形符号以及部分标志的边框	
8	荧光黄绿色	表示警告，用于注意行人、注意儿童警告标志	

2. 去简记繁

交通标志中有一大半标志其图案与表达的含义非常接近，如图 1-2-1 所示。此类标志只要看一二遍便能轻松记住，对题库中此类简单试题会做后，在试题旁做个标记，复习时不必再看，这就是“去简”。

图 1-2-1　图案直接表达含义的标志

交通标志中，有些标志的图案不能直接表达含义，如图 1-2-2 所示。对此类繁杂标志要多看几遍，多做试题，加强记忆，这就是“记繁”。



图 1-2-2　图案不能直接表达含义的标志

3. 重点记住容易混淆的交通标志

容易混淆的交通标志如图 1-2-3 所示。

（五）巧记交通标线

1. 记住基本形式和颜色

道路交通标线的种类很多，图案各异，但只要记住了标线的基本形式和颜色，具体的标线就非常容易记住了。道路交通标线的基本形式包括实线、虚线、双实线、双虚线和虚实线五种，颜色主要有白色、黄色、蓝色和橙色四种，路面图形标记中可出现红色或黑色的图案或文字。道路交通标线的基本形式、颜色及含义见表 1-2-4。

图 1-2-3　容易混淆的交通标志

表 1-2-4　道路交通标线的形式、颜色及含义

编号	名　称	图　例	含　义
1	白色虚线		划于路段中时，用以分隔同向行驶的交通流；划于路口时，用以引导车辆行进
2	白色实线		划于路段中时，用以分隔同向行驶的机动车、机动车和非机动车，或指示车行道的边缘；划于路口时，用作导向车道线或停止线，或用以引导车辆行驶轨迹；划为停车位标线时，指示收费停车位

（续）

编号	名　称	图　例	含　义
3	黄色虚线		划于路段中时，用以分隔对向行驶的交通流或作为公交车专用车道线；划于交叉口时，用以告示非机动车禁止驶入的范围或用于连接相邻道路中心线的路口导向线；划于路侧或缘石上时，表示禁止路边长时停放车辆
4	黄色实线		划于路段中时，用以分隔对向行驶的交通流或作为公交车、校车专用停靠站标线；划于路侧或缘石上时，表示禁止路边停放车辆；划为网格线时，标示禁止停车的区域；划为停车位标线时，表示专属停车位
5	双白虚线		划于路口，作为减速让行线
6	双白实线		划于路口，作为停车让行线
7	白色虚实线		用于指示车辆可临时跨线行驶的车行道边缘，虚线侧允许车辆临时跨越，实线侧禁止车辆跨越
8	双黄实线		划于路段中，用以分隔对向行驶的交通流
9	双黄虚线		划于城市道路路段中，用于指示潮汐车道
10	黄色虚实线		划于路段中时，用以分隔对向行驶的交通流。实线侧禁止车辆越线，虚线侧准许车辆临时越线
11	橙色虚、实线		用于作业区标线
12	蓝色虚、实线		作为非机动车专用道标线；划为停车位标线时，指示免费停车位

2. 记住容易混淆的交通标线

容易混淆的交通标线如图 1-2-4 所示。

（六）巧记交通警察指挥手势

1. 停止信号和靠边停车信号

（1）口诀

左手过头勿前行——停止信号

右手摆动靠边停——靠边停车信号

（2）巧记方法

左手举过头顶 —— 右手不动 ⟶ 停止信号

左手举过头顶 —— 右手摆动 ⟶ 靠边停车信号

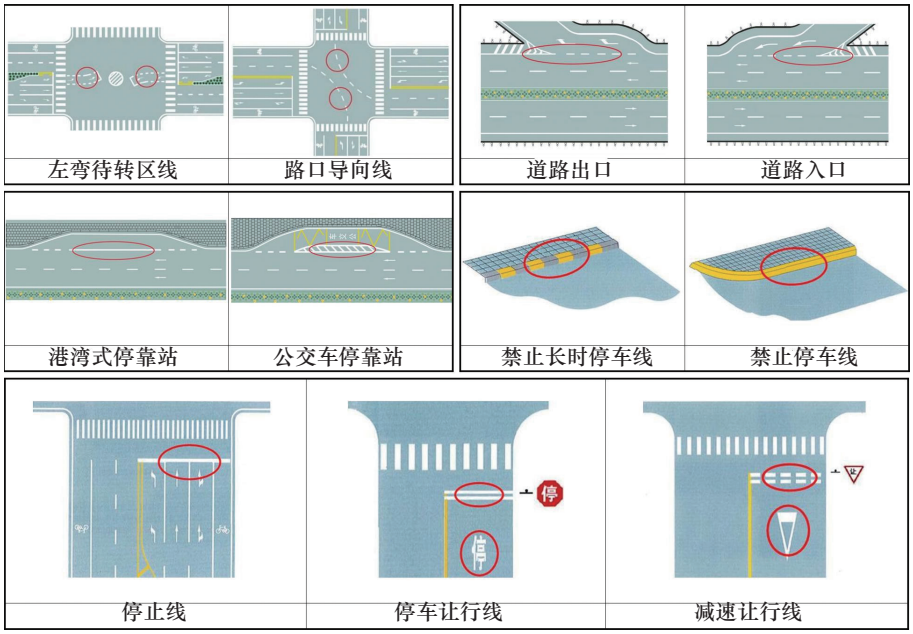

图 1-2-4　容易混淆的交通标线

2. 左转弯信号和右转弯信号

（1）口诀

手臂平伸掌向前
哪手摆动向哪行　} 左、右转弯信号

（2）巧记方法

一只手掌心向前，手臂平伸——另一只手
- 左手摆动 ⟶ 左转弯信号
- 右手摆动 ⟶ 右转弯信号

3. 变道信号和慢行信号

（1）口诀

右手横摆道变更——变道信号

右手下摆要慢行——慢行信号

（2）巧记方法

左手不动
- 右手横摆 ⟶ 变道信号
- 右手下摆 ⟶ 慢行信号

4. 直行信号和左转弯待转信号

口诀

两手平伸右手摆——直行信号

左手侧摆须待转——左转弯待转信号

（七）巧记汽车仪表

汽车上仪表的样式多种多样，比较难记，但科目一考试题库中的汽车仪表题有一定规律，掌握这个规律便可巧记。

1. 看表中方框

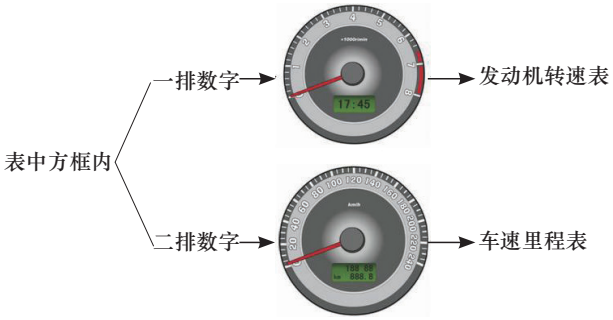

2. 看表中标记

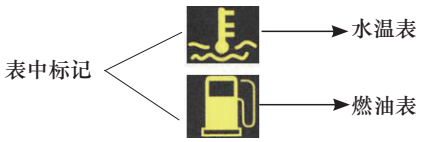

（八）巧记汽车指示灯

汽车指示灯中显示的图案与表达的含义都很接近，非常便于记忆。**值得注意的是，有些图案之间只有微小差别，容易造成混淆，考生应重点记住其不同点。**容易混淆的汽车指示灯如图 1-2-5 所示。

图 1-2-5　容易混淆的汽车指示灯

三、巧答

（一）巧答判断题

判断题是通过对一句话进行判断，得出正确或错误答案的考试形式。答判断题应掌握以下几点原则：

1. “安全第一”原则

命题中的做法有利于行车安全，这道题很可能是正确的。这类题往往会出现“减速”、“低速”、“让行”等词，如“夜间行车，驾驶人的视野受限，很难观察到灯光照射区域以外的交通情况，因此要减速行驶”，“车辆通过学校和小区应注意观察标志标线，低速行驶”，“行车中遇到执行紧急任务的消防车、救护车、工程救险车时要及时让行”等，这些题都是正确的。

命题中的做法不利于行车安全，这道题很可能是错误的。这类题往往会出现“加速”、“尽快”、“迅速”等词，如“驾驶机动车通过漫水路时要加速行驶”，“驾驶机动车在没有交通信号的路口要尽快通过”，“变更车道时只需开启转向灯，便可迅速转向驶入相应的行车道”等，这些题都是错误的。

用“安全第一”原则判断正误在选择题中同样适用。

2. “正错反对”原则

题库中很多采用正向命题的试题，答案却是错的，即为“正错”。这类题中往往会出现“可以”、“允许”等词，如“机动车可以选择交叉路口进行倒车”，“驾驶机动车行经城市没有列车通过的铁路道口时允许超车”等，这些题都是正向命题，但答案都是错误。

题库中还有很多采用反向命题的试题，答案却是对的，即为“反对”。这类题中往往会出现“不得”、“不能”等词，如“不得驾驶具有安全隐患的机动车上道路行驶”，“距离桥梁、陡坡、隧道 50 米以内的路段不能停车” 等，这些题都是反向命题，但答案都是正确。

3. “一错全错”原则

命题中只要有一处错误，该道题就全错。如“驾驶机动车上坡时，在将要到达坡道顶端时要加速并鸣喇叭”，此题中机动车将要到达坡道顶端时“鸣喇叭”是对的，但是“加速”是错误的，依据“一错全错” 原则，这道题的答案为错误。

（二）巧答选择题

选择题由题干和四个选项组成，科目一考试试题都是单项选择题，每题只有一个正确选项，其他选项都是错误的，要求考生对四个选项进行比较，选出其正

确的。选择题答题技巧如下：

1. 反选法

当正确选项难以确定时，先选出明显是荒诞、拙劣或不正确的选项，最后剩下的选项就是正确的选项。

例题：机动车在道路边临时停车时，应怎样做？

A. 可逆向停放

B. 可并列停放

C. 不得逆向或并列停放

D. 只要出去方便，可随意停放

分析：“逆向停放”、“并列停放”、“随意停放”都是法规不允许的，所以选项ABD都是错误的，用反选法，最后剩下的选项C就是正确。

2. 对比法

即通过对相近选项进行对比，从而确定正确选项的方法。答题时可直接把各项选择答案加以比较并分析它们之间的不同点，集中考虑正确选项和错误选项的关键所在。

例题：车辆涉水后，应保持低速行驶，怎样操作制动踏板，以恢复制动效果？

A. 持续重踏　　B. 间断重踏

C. 持续轻踏　　D. 间断轻踏

分析：涉水后，车轮制动器内有水，影响制动效果，此时应通过踩踏制动踏板，使制动器摩擦生热蒸发水分，恢复制动效果。题中四个选项是四种不同的踩踏制动踏板的方法，通过对比，只有间断轻踏制动踏板，才能做到既可恢复制动效果，又不会对车辆行驶产生很大的影响，所以该题选D。

3. 优选法

有些题看上去几个答案都正确或在某一程度上正确，但最佳的答案只有一个，此时就要选择最符合题意的答案。

例题：驾驶机动车在道路上违反道路交通安全法的行为，属于什么行为？

A. 过失行为　　B. 违规行为

C. 违章行为　　D. 违法行为

分析：此题的四个选项看上去都是正确的，尤其是答案“C”是过去常用的说法，但从《道路交通安全法》颁布后提法应该统一为“违法行为”，所以通过优选正确答案应为“D”。

4. 去同存异法

这种解题技巧适用于考生对题目不能做出准确判断的情况。当考生在阅读完试题题干和所有选项后，如果发现选项中有内容或者特征大致相同的，就可以将其排除掉，并保留那些差别较大的选择项，再将剩余的选项进行比较、判断，最终确定符合题意的答案。这样做的目的是缩小目标，提高答题的准确率。

例题：在实习期内驾驶机动车的，应当在车身后部粘贴或者悬挂哪种标志？

A. 注意避让标志

B. 注意新手标志

C. 统一式样的实习标志

D. 注意车距标志

分析：此题的选项中“A”、“B”、“D”内容都大致相同，都是未经统一规定，车主自行在车身后部粘贴的标志，可以将其排除掉，最后保留的是“统一式样的实习标志”，所以正确答案是“C”。

5. 印象认定法

印象认定法是指根据印象的深刻来选择答案。应试者在读完一道试题的题干和各项选择项后，各选择项对于考生大脑的刺激强度是不同的，有的较强，有的较弱，那些似曾熟悉的内容必然会在头脑中最先形成正确选项的印象，因此，据此做出判断的命中率还是比较高的。

例题：驾驶车辆通过无人看守的铁路道口时，应怎样做？

A. 减速通过

B. 匀速通过

C. 一停、二看、三通过

D. 加速通过

分析：人们经常在铁路道口看到这样的标语“一停、二看、三通过”，在头脑中已形成很深的印象，因此由印象便可认定答案“C”是正确的。

（三）巧答图片题

新驾考题库中增加了很多有模拟场景图片的试题，做这类试题首先要看懂图片。所谓“看懂”就是要找到图片中所提供的交通信息与题干、选项之间的联系，其技巧有以下几点：

1. 找到重点要素

例题：怎样通过这样的路口？

A. 不减速通过

B. 加速尽快通过

C. 空档滑行通过

D. 减速或停车观察

分析：一般情况下，图片中出现交通信号灯、交通标志、交通标线等要素都是重点要素。此题图片中有无人看守铁路道口标志，告诉驾驶人前方是无人看守的铁路道口，应减速或停车观察，所以正确答案为“D”。

2. 找到关键要素

例题：在这段城市道路上行驶的最高速度不能超过多少？

A. 40 公里 / 小时

B. 30 公里 / 小时

C. 50 公里 / 小时

D. 70 公里 / 小时

分析：这幅图片中有道路、车辆、行人和骑自行车的人，在这些要素中关键要素是道路没有中心线。《道路交通安全法实施条例》第45条规定：……没有道路中心线的道路，城市道路为30公里/小时，公路为40公里/小时。所以，在这段城市道路上行驶的最高速度不能超过30公里/小时，正确答案应是“B”。

3. 找到异常要素

例题：这辆在道路上行驶的机动车有下列哪种违法行为？

A. 未按规定悬挂号牌

B. 故意遮挡号牌

C. 占用非机动车道

D. 逆向行驶

分析：从图中可以看到号牌被遮挡，这是一个异常要素。《道路交通安全法》第11条规定：机动车号牌应当按照规定悬挂并保持清晰、完整，不得故意遮挡、污损，所以正确答案应是“B”。

第二部分

科目一考试考点与题库试题

一、道路交通安全法律、法规和规章

（一）道路交通安全法与实施条例

1. 机动车管理规定

【考点归纳】机动车管理规定考点见表 2-1-1。

表 2-1-1 机动车管理规定考点

序 号	规 定	考 点	来 源
1	机动车行驶凭证	（1）驾驶机动车上道路行驶，应当悬挂机动车号牌、放置检验合格标志、保险标志，并随车携带机动车行驶证 （2）机动车号牌应当按照规定悬挂并保持清晰、完整，不得故意遮挡、污损	《道路交通安全法》第 11 条
2	机动车报废与拼装	（1）达到报废标准的机动车不得上道路行驶 （2）任何单位或者个人不得拼装机动车	《道路交通安全法》第 14、16 条

【相关试题】

题 1 下列哪种标志是驾驶机动车上路行驶应当在车上放置的标志？

A. 保持车距标志

B. 提醒危险标志

C. 检验合格标志

D. 产品合格标志

答案：C

题 2 下列哪种证件是驾驶机动车上路行驶应当随车携带？

A. 机动车保险单

B. 机动车行驶证

C. 出厂合格证明

D. 机动车登记证

答案：B

题 3 这辆在道路上行驶的机动车有下列哪种违法行为？

A. 未按规定悬挂号牌

B. 故意遮挡号牌

C. 占用非机动车道

D. 逆向行驶

答案：B

题 4 驾驶机动车上路行驶应当按规定悬挂号牌。

答案：√

题 5 驾驶机动车未放置保险标志，可以上路行驶。

答案：×

题 6 驾驶这种机动车上路行驶属于什么行为？

A. 违章行为　　B. 违规行为
C. 违法行为　　D. 犯罪行为

答案：C

题 7　已经达到报废标准的机动车经大修后可以上路行驶。

答案：×

解析：依据《道路交通安全法》第 14 条，达到报废标准的机动车不得上道路行驶，为此已经达到报废标准的机动车经大修后也不能上路行驶。

题 8　拼装的机动车只要认为安全就可以上路行驶。

答案：×

解析：依据《道路交通安全法》第 16 条，任何单位或者个人不得拼装机动车，为此即使认为安全，也不能驾驶拼装的机动车上路行驶。

2. 驾驶人管理规定

【考点归纳】驾驶人管理规定考点见表 2-1-2。

表 2-1-2　驾驶人管理规定考点

序　号	规　定	考　点	来　源
1	驾驶证管理	驾驶人应当按照驾驶证载明的准驾车型驾驶机动车；驾驶机动车时，应当随身携带机动车驾驶证	《道路交通安全法》第 19 条
		在道路上学习机动车驾驶技能应当使用教练车，在教练员随车指导下进行，与教学无关的人员不得乘坐教练车	《实施条例》第 20 条
		机动车驾驶人初次申领机动车驾驶证后的12个月为实习期。在实习期内驾驶机动车的，应当在车身后部粘贴或者悬挂统一式样的实习标志	《实施条例》第 22 条
		公安机关交通管理部门对机动车驾驶人的道路交通安全违法行为除给予行政处罚外，实行道路交通安全违法行为累积记分制度，记分周期为 12 个月	《实施条例》第 23 条
		有效期满换发机动车驾驶证时，公安机关交通管理部门应当对机动车驾驶证进行审验	《实施条例》第 26 条
		机动车驾驶人在机动车驾驶证丢失、损毁、超过有效期或者被依法扣留、暂扣期间以及记分达到 12 分的，不得驾驶机动车	《实施条例》第 28 条
2	机动车行驶前检查	驾驶人驾驶机动车上道路行驶前，应当对机动车的安全技术性能进行认真检查；不得驾驶安全设施不全或者机件不符合技术标准等具有安全隐患的机动车	《道路交通安全法》第 21 条
3	驾驶人遵章守纪	饮酒、服用国家管制的精神药品或者麻醉药品，或者患有妨碍安全驾驶机动车的疾病，或者过度疲劳影响安全驾驶的，不得驾驶机动车	《道路交通安全法》第 22 条

【相关试题】

题 9　驾驶机动车应当随身携带哪种证件？

A. 职业资格证　　B. 身份证
C. 驾驶证　　D. 工作证

答案：C

题 10　驾驶人要按照驾驶证载明的准驾车型驾驶车辆。

答案：√

题 11　驾驶机动车上路前应当检查车辆安全技术性能。

答案：√

题 12　不得驾驶具有安全隐患的机动车上道路行驶。

答案：√

题 13　服用国家管制的精神药品可以短途驾驶机动车。

答案：×

解析：依据《道路交通安全法》第 22 条，服用国家管制的精神药品不得驾驶机动车。

题 14　饮酒后只要不影响驾驶操作可以短距离驾驶机动车。

答案：×

解析：依据《道路交通安全法》第 22 条，饮酒后不得驾驶机动车。

题 15　未取得驾驶证的学员在道路上学习驾驶技能，下列哪种做法是正确的？

A. 使用所学车型的教练车由教练员随车指导

B. 使用所学车型的教练车单独驾驶学习

C. 使用所学车型的教练车由非教练员的驾驶人随车指导

D. 使用私家车由教练员随车指导

答案：A

题 16　机动车驾驶人初次申领驾驶证后的实习期是多长时间？

A. 18 个月　　B. 16 个月

C. 12 个月　　D. 6 个月

答案：C

题17　在实习期内驾驶机动车的，应当在车身后部粘贴或者悬挂哪种标志？

A. 注意避让标志

B. 注意新手标志

C. 统一式样的实习标志

D. 注意车距标志

答案：C

题 18　机动车驾驶人在实习期内驾驶机动车不得牵引挂车。

答案：√

题 19　持小型汽车驾驶证的驾驶人在下列哪种情况下需要接受审验？

A. 一个记分周期末

B. 有效期满换发驾驶证时

C. 记分周期未满分

D. 记分周期满 12 分

答案：B

题20　驾驶人出现下列哪种情况，不得驾驶机动车？

A. 记分达到 10 分

B. 记分达到 6 分

C. 驾驶证丢失、损毁

D. 驾驶证接近有效期

答案：C

题 21　驾驶人在驾驶证丢失后 3 个月内还可以驾驶机动车。

答案：×

解析：依据《实施条例》第 28 条，机动车驾驶人在机动车驾驶证丢失期间不得驾驶机动车。

题 22　驾驶人持超过有效期的驾驶证可以在 1 年内驾驶机动车。

答案：×

解析：依据《实施条例》第 28 条，机动车驾驶人在机动车驾驶证超过有效期期间，不得驾驶机动车。

题 23　驾驶人的驾驶证损毁后不得驾驶机动车。

答案：√

题 24　驾驶人的机动车驾驶证被依法扣留、暂扣的情况下不得驾驶机动车。

答案：√

3. 道路交通信号规定

【考点归纳】道路交通信号规定考点见表 2-1-3。

表 2-1-3　道路交通信号规定考点

序　号	规　　定	考　　点	来　　源
1	交通信号	交通信号包括交通信号灯、交通标志、交通标线和交通警察的指挥	《道路交通安全法》第 25 条
2	交通信号灯	交通信号灯由红灯、绿灯、黄灯组成。红灯表示禁止通行，绿灯表示准许通行，黄灯表示警示	《道路交通安全法》第 26 条
3	交通标志与标线	交通标志分为：指示标志、警告标志、禁令标志、指路标志、旅游区标志、道路施工安全标志和辅助标志 道路交通标线分为：指示标线、警告标线、禁止标线	《实施条例》第 30 条
4	交通警察指挥	车辆、行人应当按照交通信号通行；遇有交通警察现场指挥时，应当按照交通警察的指挥通行；在没有交通信号的道路上，应当在确保安全、畅通的原则下通行	《道路交通安全法》第 38 条

【相关试题】

题 25　交通信号包括交通信号灯、交通标志、交通标线和交通警察的指挥。

答案：√

题 26　交通标志和交通标线不属于交通信号。

答案：×

解析：依据《道路交通安全法》第 25 条，交通信号包括交通标志和交通标线。

题 27　交通信号灯由红灯、绿灯和黄灯组成。

答案：√

题 28　道路交通标线分为指示标线、警告标线、禁止标线。

答案：√

题 29　在有交通警察指挥的路口，应按照什么通行。

A. 交通信号灯　B. 交通标志

C. 交通标线　D. 交通警察指挥

答案：D

题 30　在路口遇有交通信号灯和交通警察指挥不一致时，按照交通信号灯通行。

答案：×

解析：依据《道路交通安全法》第 38 条，在路口遇有交通信号灯和交通警察指挥不一致时，按照交通警察指挥通行。

4. 机动车道规定

【考点归纳】机动车道规定考点见表 2-1-4。

表 2-1-4 机动车道规定考点

序号	规定	考点	来源
1	车道划分	（1）在道路同方向划有 2 条以上机动车道的，左侧为快速车道，右侧为慢速车道。在快速车道行驶的机动车应当按照快速车道规定的速度行驶，未达到快速车道规定的行驶速度的，应当在慢速车道行驶。摩托车应当在最右侧车道行驶。有交通标志标明行驶速度的，按照标明的行驶速度行驶。慢速车道内的机动车超越前车时，可以借用快速车道行驶 （2）在道路同方向划有 2 条以上机动车道的，变更车道的机动车不得影响相关车道内行驶的机动车的正常行驶	《实施条例》第 44 条
2	专用车道	道路划设专用车道的，在专用车道内，只准许规定的车辆通行，其他车辆不得进入专用车道内行驶	《道路交通安全法》第 37 条

【相关试题】

题 31　这段道路红车所在车道是什么车道？

A. 快速车道　　B. 慢速车道

C. 应急车道　　D. 专用车道

答案：A

题 32　机动车在道路上变更车道需要注意什么？

A. 开启转向灯迅速向左转向

B. 进入左侧车道时适当减速

C. 不能影响其他车辆正常行驶

D. 尽快加速进入左侧车道

答案：C

题 33　遇到这种情况时，要加速从红车前变更车道。

答案：×

解析：依据《实施条例》第 44 条，机动车在道路上变更车道，不能影响其他车辆正常行驶。遇到图中情况，如加速从红车前变更车道，将对红车行驶产生影响，所以是错误的。

题 34　在这种情况下可以借右侧公交车道超车。

答案：×

解析：依据《道路交通安全法》第 37 条，公交车道为专用车道，除公交车外，其他车辆不得进入专用车道内行驶。

5. 行车间距与行驶速度规定

【考点归纳】行车间距与行驶速度规定考点见表 2-1-5。

表 2-1-5　行车间距与行驶速度规定考点

序　号	规　定	考　点	来　源
1	行车间距	同车道行驶的机动车，后车应当与前车保持足以采取紧急制动措施的安全距离	《道路交通安全法》第 43 条
2	行驶速度	机动车在道路上行驶不得超过限速标志、标线标明的速度。在没有限速标志、标线的道路上，机动车不得超过下列最高行驶速度： （1）没有道路中心线的道路，城市道路为 30 公里 / 小时，公路为 40 公里 / 小时 （2）同方向只有 1 条机动车道的道路，城市道路为 50 公里 / 小时，公路为 70 公里 / 小时	《实施条例》第 45 条
		机动车行驶中遇有下列情形之一的，最高行驶速度不得超过 30 公里 / 小时： （1）进出非机动车道，通过铁路道口、急弯路、窄路、窄桥时 （2）掉头、转弯、下陡坡时 （3）遇雾、雨、雪、沙尘、冰雹，能见度在 50 米以内时 （4）在冰雪、泥泞的道路上行驶时 （5）牵引发生故障的机动车时	《实施条例》第 46 条

【相关试题】

题 35　这两辆车发生追尾的主要原因是什么？

A. 前车采取制动时没看后视镜

B. 前车采取制动过急

C. 后车超车时距离前车太近

D. 后车未与前车保持安全距离

答案：D

题 36　在这条高速公路上行驶时的最高速度不能超过多少？

A. 110 公里 / 小时

B. 120 公里 / 小时

C. 90 公里 / 小时

D. 100 公里 / 小时

答案：A

题 37　在这段路的最高时速为 50 公里 / 小时。

答案：×

解析：注意图中有红圈的标志是最高限速标志，蓝底的标志是最低限速标志。依据《实施条例》第 45 条，图中段路的最高时速应为 80 公里 / 小时。

题 38　在这段城市道路上行驶的最高速度不能超过多少？



A. 40 公里 / 小时
B. 30 公里 / 小时
C. 50 公里 / 小时
D. 70 公里 / 小时

答案：B

题 39　在这条公路上行驶的最高速度不能超过多少？

A. 70 公里 / 小时
B. 50 公里 / 小时
C. 40 公里 / 小时
D. 30 公里 / 小时

答案：C

题 40　在这条城市道路上行驶的最高速度不能超过多少？

A. 30 公里 / 小时
B. 40 公里 / 小时
C. 50 公里 / 小时
D. 70 公里 / 小时

答案：C

题 41　在这条公路上行驶的最高速度不能超过多少？

A. 30 公里 / 小时
B. 40 公里 / 小时
C. 50 公里 / 小时
D. 70 公里 / 小时

答案：D

题 42　驾驶机动车在没有中心线的城市道路上，最高速度不能超过 50 公里 / 小时。

答案：×

解析：依据《实施条例》第 45 条，题中情形，最高速度不能超过 30 公里 / 小时。

题 43　驾驶机动车在没有中心线的公路上，最高速度不能超过 70 公里 / 小时。

答案：×

解析：依据《实施条例》第 45 条，题中情形，最高速度不能超过 40 公里 / 小时。

题 44　在这个弯道上行驶时的最高速度不能超过多少？

A. 40 公里 / 小时
B. 30 公里 / 小时
C. 50 公里 / 小时

D. 70 公里 / 小时

答案：B

解析：依据《实施条例》第46条，驾驶机动车通过急弯路时，最高速度不能超过30公里/小时。

题45　驾驶机动车遇到沙尘、冰雹、雨、雾、结冰等气象条件如何行驶？

A. 按平常速度行驶

B. 保持匀速行驶

C. 适当提高车速

D. 降低行驶速度

答案：D

题46　驾驶机动车遇雾、雨、雪等能见度在50米以内时，最高速度不能超过多少？

A. 70 公里 / 小时

B. 50 公里 / 小时

C. 40 公里 / 小时

D. 30 公里 / 小时

答案：D

题47　驾驶机动车在进出非机动车道时，最高速度不能超过多少？

A. 40 公里 / 小时

B. 50 公里 / 小时

C. 60 公里 / 小时

D. 30 公里 / 小时

答案：D

题48　驾驶机动车通过铁路道口时，最高速度不能超过多少？

A. 15 公里 / 小时

B. 20 公里 / 小时

C. 30 公里 / 小时

D. 40 公里 / 小时

答案：C

题49　驾驶机动车通过急弯路时，最高速度不能超过多少？

A. 20 公里 / 小时

B. 30 公里 / 小时

C. 40 公里 / 小时

D. 50 公里 / 小时

答案：B

题50　驾驶机动车通过窄路、窄桥时，最高速度不能超过多少？

A. 50 公里 / 小时

B. 40 公里 / 小时

C. 30 公里 / 小时

D. 60 公里 / 小时

答案：C

题51　驾驶机动车下陡坡、转弯、掉头时，最高速度不能超过多少？

A. 50 公里 / 小时

B. 60 公里 / 小时

C. 30 公里 / 小时

D. 40 公里 / 小时

答案：C

题52　驾驶机动车在冰雪道路行驶时，最高速度不能超过多少？

A. 50 公里 / 小时

B. 40 公里 / 小时

C. 30 公里 / 小时

D. 20 公里 / 小时

答案：C

题53　驾驶机动车在泥泞道路行驶时，最高速度不能超过多少？

A. 15 公里 / 小时

B. 20 公里 / 小时

C. 40 公里 / 小时

D. 30 公里 / 小时

答案：D

题 54　驾驶机动车上道路行驶，不允许超过限速标志标明的最高时速。

答案：√

题 55　机动车在这种条件的道路上行驶，最高速度不能超过 50 公里 / 小时。

答案：×

解析：图中为冰雪道路，依据《实施条例》第 46 条，最高速度不能超过 30 公里 / 小时。

题 56　驾驶机动车掉头、转弯、下陡坡时的最高速度不能超过 40 公里 / 小时。

答案：×

解析：依据《实施条例》第 46 条，题中情形，最高速度不能超过 30 公里 / 小时。

题 57　驾驶机动车通过窄路、窄桥时的最高速度不能超过 30 公里 / 小时。

答案：√

6. 交叉路口通行规定

【考点归纳】交叉路口通行规定考点见表 2-1-6。

表 2-1-6　交叉路口通行规定考点

序　号	规　定	考　点	来　源
1	通过有交通信号灯控制的交叉路口	机动车通过交叉路口，应当按照交通信号灯、交通标志、交通标线或者交通警察的指挥通过	《道路交通安全法》第 44 条
		机动车通过有交通信号灯控制的交叉路口，应当按照下列规定通行： （1）在划有导向车道的路口，按所需行进方向驶入导向车道 （2）准备进入环形路口的让已在路口内的机动车先行 （3）向左转弯时，靠路口中心点左侧转弯。转弯时开启转向灯，夜间行驶开启近光灯 （4）遇放行信号时，依次通过 （5）遇停止信号时，依次停在停止线以外。没有停止线的，停在路口以外 （6）向右转弯遇有同车道前车正在等候放行信号时，依次停车等候 （7）在没有方向指示信号灯的交叉路口，转弯的机动车让直行的车辆、行人先行。相对方向行驶的右转弯机动车让左转弯车辆先行	《实施条例》第 51 条
2	通过没有交通信号灯控制的交叉路口	通过没有交通信号灯、交通标志、交通标线或者交通警察指挥的交叉路口时，应当减速慢行，并让行人和优先通行的车辆先行	《道路交通安全法》第 44 条

（续）

序　号	规　定	考　点	来　源
2	通过没有交通信号灯控制的交叉路口	机动车通过没有交通信号灯控制也没有交通警察指挥的交叉路口，除应当遵守上述《实施条例》第51条第（2）项、第（3）项的规定外，还应当遵守下列规定： （1）有交通标志、标线控制的，让优先通行的一方先行 （2）没有交通标志、标线控制的，在进入路口前停车瞭望，让右方道路的来车先行 （3）转弯的机动车让直行的车辆先行 （4）相对方向行驶的右转弯的机动车让左转弯的车辆先行	《实施条例》第52条
3	交叉路口交通阻塞时的通行	（1）机动车遇有前方交叉路口交通阻塞时，应当依次停在路口以外等候，不得进入路口 （2）机动车在遇有前方机动车停车排队等候或者缓慢行驶时，应当依次排队，不得从前方车辆两侧穿插或者超越行驶，不得在人行横道、网状线区域内停车等候 （3）机动车在车道减少的路口、路段，遇有前方机动车停车排队等候或者缓慢行驶的，应当每车道一辆依次交替驶入车道减少后的路口、路段	《实施条例》第53条

【相关试题】

题58　如何通过这种交叉路口？

A. 保持速度通过　B. 鸣笛催促

C. 减速慢行　D. 加速通过

答案：C

题59　驾驶机动车通过没有交通信号的交叉路口怎样行驶？

A. 减速慢行　B. 加速通过

C. 大型车先行　D. 左侧车辆先行

答案：A

题60　驾驶机动车通过交叉路口要遵守交通信号。

答案：√

题61　驾驶机动车在没有交通信号的路口要尽快通过。

答案：×

解析：依据《道路交通安全法》第44条，驾驶机动车通过没有交通信号的交叉路口，应当减速慢行。

题62　在这个路口左转弯选择哪条车道？

A. 最左侧车道　B. 中间车道

C. 不用变道　D. 最右侧车道

答案：A

题63　在这个路口怎样左转弯？

A. 靠路口中心点右侧转弯
B. 靠路口中心点左侧转弯
C. 骑路口中心点转弯
D. 不能左转弯

答案：B

题 64　进入这个路口如何通行？

A. 鸣喇叭直接进入路口
B. 让已在路口内的车辆先行
C. 从路口内车辆前迅速插入
D. 开启危险报警闪光灯加速进入

答案：B

题 65　在路口右转弯遇同车道前车等候放行信号时如何行驶？

A. 依次停车等候
B. 鸣喇叭让前车让路
C. 从右侧占道转弯
D. 从前车左侧转弯

答案：A

题 66　在这个路口右转弯如何通行？

A. 直接向右转弯
B. 抢在对面车前右转弯
C. 鸣喇叭催促
D. 先让对面车左转弯

答案：D

题 67　在路口直行时，遇这种情形如何通行？

A. 开启危险报警闪光灯通行
B. 直接加速直行通过
C. 让右方道路车辆先行
D. 让左方道路车辆先行

答案：C

题 68　在路口遇这种情形怎样通行？

A. 鸣喇叭告知让行
B. 直接加速转弯
C. 减速缓慢转弯
D. 让左方来车先行

答案：D

题 69　在这种情况的交叉路口转弯要让直行车先行。

答案：√

题 70　在交叉路口遇到这种情况享有优先通行权。

答案：√

解析：图中考试车辆在路口左转弯，对面来车右转弯，依据《实施条例》第 52 条，相对方向行驶的右转弯的机动车让左转弯的车辆先行。

题 71　在交叉路口遇到这种情况享有优先通行权。

答案：×

题 72　遇有这种排队等候的情形怎么做？

A. 从左侧跨越实线超越
B. 从两侧随意超越
C. 依次排队等候
D. 从右侧借道超越

答案：C

题 73　遇到前方车辆缓慢行驶时怎样行驶？

A. 依次排队行驶
B. 占对向车道超越
C. 从右侧借道超越
D. 从两侧随意超越

答案：A

题 74　在路口遇到这种情形时怎样做？



A. 停在网状线区域内等待
B. 停在路口以外等待
C. 跟随前车通过路口
D. 停在路口内等待

答案：B

题 75　驾驶机动车在车道减少的路口，遇到前方车辆依次停车或缓慢行驶时怎么办？

A. 从前车右侧路肩进入路口
B. 从有空隙一侧进入路口
C. 每车道一辆依次交替驶入路口
D. 向左变道穿插进入路口

答案：C

题 76　驾驶机动车遇到前方车辆停车排队等候或缓慢行驶时怎么办？

A. 可借道超车
B. 占用对面车道
C. 依次行驶
D. 穿插等候的车辆

答案：C

题 77　驾驶机动车遇有前方交叉路口交通阻塞时怎么办？

A. 可借对向车道通过
B. 依次停在路口外等候
C. 从前车两侧穿插通过
D. 进入路口内等候

答案：B

题 78　驾驶机动车在没有交通信号的路口遇到前方车辆缓慢行驶时要依次交替通行。

答案：√

题 79　遇到这种情况的路段，可以进入网状线区域内停车等候。

答案：×

解析：图中考试车辆前方机动车行驶缓慢，遇到这种情况，不得在网状线区域内停车等候。

7. 铁路道口与人行横道通行规定

【考点归纳】铁路道口与人行横道通行规定考点见表 2-1-7。

表 2-1-7　铁路道口与人行横道通行规定考点

序　号	规　定	考　点	来　源
1	铁路道口通行	机动车通过铁路道口时，应当按照交通信号或者管理人员的指挥通行；没有交通信号或者管理人员的，应当减速或者停车，在确认安全后通过	《道路交通安全法》第 46 条
2	人行横道通行	（1）机动车行经人行横道时，应当减速行驶；遇行人正在通过人行横道，应当停车让行 （2）机动车行经没有交通信号的道路时，遇行人横过道路，应当避让	《道路交通安全法》第 47 条

【相关试题】

题 80　怎样通过这样的路口？



A. 不减速通过

B. 加速尽快通过

C. 减速或停车观察

D. 紧随前车通过

答案：C

题 81　驾驶机动车通过没有交通信号和管理人员的铁路道口怎样通过？

A. 适当减速通过

B. 空档滑行通过

C. 停车确认安全后通过

D. 加速尽快通过

答案：C

题 82　在这种情况的铁路道口要加速通过。

答案：×

解析：图中车辆前方铁路道口交通信号灯的红色，表示禁止车辆通行，此时应停车等待。

题 83　行至这种情况的铁路道口要停车观察。

答案：√

题 84　遇到这种情形时，应怎么办？

A. 停车让行人先行

B. 从行人前方绕行

C. 鸣喇叭提醒行人

D. 从行人后方绕行

答案：A

题 85　行经这种交通标线的路段要加速行驶。



答案：×

解析：图中车辆前方有人行横道预告标线，表示前方将出现人行横道，依据《道路交通安全法》第 47 条，机动车行经人行横道时，应当减速行驶。

题 86　遇到这种情形时要停车避让行人。

答案：√

8. 会车与超车规定

【考点归纳】会车与超车规定考点见表 2-1-8。

表 2-1-8　会车与超车规定考点

序　号	规　定	考　点	来　源
1	会车规定	在没有中心隔离设施或者没有中心线的道路上，机动车遇相对方向来车时应当遵守下列规定： （1）减速靠右行驶，并与其他车辆、行人保持必要的安全距离 （2）在有障碍的路段，无障碍的一方先行；但有障碍的一方已驶入障碍路段而无障碍的一方未驶入时，有障碍的一方先行 （3）在狭窄的坡路，上坡的一方先行；但下坡的一方已行至中途而上坡的一方未上坡时，下坡的一方先行 （4）在狭窄的山路，不靠山体的一方先行 （5）夜间会车应当在距相对方向来车 150 米以外改用近光灯，在窄路、窄桥与非机动车会车时应当使用近光灯	《实施条例》第 48 条
2	超车规定	机动车超车时，应当提前开启左转向灯、变换使用远、近光灯或者鸣喇叭。在没有道路中心线或者同方向只有一条机动车道的道路上，前车遇后车发出超车信号时，在条件许可的情况下，应当降低速度、靠右让路。后车应当在确认有充足的安全距离后，从前车的左侧超越，在与被超车辆拉开必要的安全距离后，开启右转向灯，驶回原车道	《实施条例》第 47 条

（续）

序　号	规　定	考　点	来　源
2	超车规定	有下列情形之一的，不得超车 （1）前车正在左转弯、掉头、超车的 （2）与对面来车有会车可能的 （3）前车为执行紧急任务的警车、消防车、救护车、工程救险车的 （4）行经铁路道口、交叉路口、窄桥、弯道、陡坡、隧道、人行横道、市区交通流量大的路段等没有超车条件的	《道路交通安全法》第 43 条

【相关试题】

题 87　驾驶机动车在没有道路中心线的狭窄山路怎样会车？

A. 不靠山体的一方先行

B. 靠山体的一方先行

C. 重车让空车先行

D. 速度慢的先行

答案：A

题 88　夜间在道路上会车时，距离对向来车多远将远光灯改用近光灯？

A. 100 米以内　B. 50 米以内

C. 200 米以外　D. 150 米以外

答案：D

题 89　驾驶机动车在没有中心线的道路上遇相对方向来车时怎样行驶？

A. 紧靠路边行驶

B. 靠路中心行驶

C. 减速靠右行驶

D. 借非机动车道行驶

答案：C

题 90　夜间驾驶机动车在窄路、窄桥会车怎样使用灯光？

A. 关闭所有灯光 B. 开启近光灯

C. 关闭前照灯　D. 开启远光灯

答案：B

题 91　遇到这种情况可以优先通行。

答案：√

题 92　遇到这种情形怎样行驶？

A. 停车让对方车辆通过

B. 开启左转向灯向左行驶

C. 开前照灯告知对方让行

D. 加速超越障碍后会车

答案：A

题 93　未上坡的车辆遇到这种情况让对向下坡车先行。

答案：√

解析：图中考试车辆还未上坡，对向来车已下坡至中途，依据《实施条例》第 48 条，应让对向下坡车先行。

题 94　夜间驾驶机动车在窄路、窄桥会车时正确的做法是使用远光灯。

答案：×

题 95　驾驶机动车在夜间超车时怎样使用灯光？

A. 关闭前照灯

B. 开启远光灯

C. 开启雾灯

D. 变换远、近光灯

答案：D

题 96　驾驶机动车在道路上超车时可以不使用转向灯。

答案：×

解析：依据《实施条例》第 47 条，机动车超车时，应当提前开启左转向灯。

题 97　驾驶机动车在道路上超车完毕驶回原车道时开启右转向灯。

答案：√

题 98　在没有中心线的道路上发现后车发出超车信号时，如果条件许可如何行驶？

A. 保持原状态行驶 B. 加速行驶

C. 降速靠右让路

D. 迅速停车让行

答案：C

题 99　这种情况超车时，从前车的哪一侧超越？

A. 左右两侧均可超越

B. 从前车的右侧超越

C. 从前车的左侧超越

D. 从无障碍一侧超越

答案：C

题 100　遇到这种情况的路口，以下做法正确的是什么？

A. 沿左侧车道掉头

B. 该路口不能掉头

C. 选择中间车道掉头

D. 在路口内掉头

答案：B

题 101　驾驶机动车超车应该提前开启左转向灯、变换使用远近光灯或鸣喇叭。

答案：√

题 102　驾驶机动车超车后立即开启右转向灯驶回原车道。

答案：×

解析：依据《实施条例》第 47 条，超车完毕，在与被超车辆拉开必要的安全距离后，开启右转向灯，驶回原车道。

题 103　在道路上遇到这种情况可以从两侧超车。

答案：×

解析：依据《道路交通安全法》第 43 条，驾驶机动车遇前车为执行紧急任务的警车时，不得超车。

题 104　遇到这种情况下可以从右侧超车。

答案：×

解析：图中为没有道路中心线的道路，依据《实施条例》第 47 条，应从前车的左侧超越。

题 105　驾驶机动车在下列哪种情形下不能超越前车？

A. 前车减速让行
B. 前车正在左转弯
C. 前车靠边停车
D. 前车正在右转弯

答案：B

题 106　同车道行驶的车辆遇前车有下列哪种情形时不得超车？

A. 减速让行　　B. 正常行驶
C. 正在超车　　D. 正在停车

答案：C

题 107　同车道行驶的车辆遇前车有下列哪种情形时不得超车？

A. 正在停车　　B. 减速让行
C. 正在掉头　　D. 正常行驶

答案：C

题 108　同车道行驶的车辆前方遇到下列哪种车辆不得超车？

A. 城市公交车
B. 大型客车
C. 超载大型货车
D. 执行任务的警车

答案：D

题 109　同车道行驶的车辆前方遇到下列哪种车辆不得超车？

A. 大型客车
B. 超载大型货车
C. 执行任务的救护车
D. 小型货车

答案：C

题 110　同车道行驶的车辆前方遇到下列哪种车辆不得超车？

A. 执行任务的消防车
B. 大型客车
C. 中型客车
D. 超载大型货车

答案：A

题 111　驾驶机动车行经市区下列哪种道路时不得超车？

A. 主要街道
B. 单向行驶路段
C. 交通流量大的路段
D. 单向两条行车道

答案：C

题 112　驾驶机动车行经下列哪种路段不得超车？

A. 主要街道　　B. 高架路
C. 人行横道　　D. 环城高速

答案：C

题 113　驾驶机动车行经下列哪种路段时不得超车？

A. 高架路　　B. 交叉路口
C. 中心街道　　D. 环城高速

答案：B

题 114　驾驶机动车在下列哪种路段不得超车？

A. 山区道路　　B. 城市高架路
C. 城市快速路　　D. 窄桥、弯道

答案：D

题 115　遇到这种情况不能超车。

答案：√

题 116　在这种的情况下可以加速超车。

答案：×

解析：依据《道路交通安全法》第 43 条，驾驶机动车行经人行横道时不得超车。

题 117　驾驶机动车行经城市没有列车通过的铁路道口时允许超车。

答案：×

解析：依据《道路交通安全法》第 43 条，驾驶机动车行经铁路道口时不得超车。

题 118　驾驶机动车在隧道、陡坡等特殊路段不得超车。

答案：√

9. 掉头与停车规定

【考点归纳】掉头与停车规定考点见表 2-1-9。

表 2-1-9　掉头与停车规定考点

序　号	规　定	考　点	来　源
1	掉头规定	（1）机动车在有禁止掉头或者禁止左转弯标志、标线的地点以及在铁路道口、人行横道、桥梁、急弯、陡坡、隧道或者容易发生危险的路段，不得掉头 （2）机动车在没有禁止掉头或者没有禁止左转弯标志、标线的地点可以掉头，但不得妨碍正常行驶的其他车辆和行人的通行	《实施条例》第 49 条
2	停车规定	（1）机动车应当在规定地点停放。禁止在人行道上停放机动车；但是，规定施划的停车泊位除外 （2）在道路上临时停车的，不得妨碍其他车辆和行人通行	《道路交通安全法》第 56 条
		机动车在道路上临时停车，应当遵守下列规定： （1）在设有禁停标志、标线的路段，在机动车道与非机动车道、人行道之间设有隔离设施的路段以及人行横道、施工地段，不得停车 （2）交叉路口、铁路道口、急弯路、宽度不足 4 米的窄路、桥梁、陡坡、隧道以及距离上述地点 50 米以内的路段，不得停车 （3）公共汽车站、急救站、加油站、消防栓或者消防队（站）门前以及距离上述地点 30 米以内的路段，除使用上述设施的以外，不得停车 （4）车辆停稳前不得开车门和上下人员，开关车门不得妨碍其他车辆和行人通行	《实施条例》第 63 条

（续）

序　号	规　定	考　点	来　源
2	停车规定	（5）路边停车应当紧靠道路右侧，机动车驾驶人不得离车，上下人员或者装卸物品后，立即驶离 （6）城市公共汽车不得在站点以外的路段停车上下乘客	《实施条例》第 63 条

【相关试题】

题 119　遇到这种情况的路口，以下做法正确的是什么？

A. 沿左侧车道掉头

B. 该路口不能掉头

C. 选择中间车道掉头

D. 在路口内掉头

答案：B

题 120　在这个路口可以掉头。

答案：×

解析：图中车辆前方有禁止左转弯标志，依据《实施条例》第 49 条，在这个路口不能掉头。

题 121　在这个路口不能掉头。



答案：×

解析：图中车辆前方设有允许掉头标志，在这个路口可以掉头。

题 122　在这段道路上不能掉头。

答案：√

题 123　驾驶机动车在铁路道口、桥梁、陡坡、隧道或者容易发生危险的路段不能掉头。

答案：√

题 124　在这段道路上，只要不影响其他车辆通行的前提下可以掉头。



答案：√

题 125　在这种路口怎样进行掉头？

A. 从中心线虚线处掉头

B. 从右侧车道掉头

C. 进入路口后掉头

D. 在人行横道上掉头

答案：A

题 126　驾驶机动车需要在路边停车时怎样选择停车地点？

A. 靠左侧路边逆向停放
B. 在停车泊位内停放
C. 在路边随意停放
D. 在人行道上停放

答案：B

题 127　在道路上临时停车不得妨碍其他车辆和行人通行。

答案：√

题 128　驾驶机动车找不到停车位时可以借人行道停放。

答案：×

解析：依据《道路交通安全法》第 56 条，禁止在人行道上停放机动车。

题 129　这辆小轿车不能在这个位置停车。



答案：√

题 130　这样在路边临时停放机动车有什么违法行为？



A. 停车占用机动车道
B. 距离路边超过 30 厘米
C. 在有禁停标线路段停车
D. 在非机动车道停车

答案：C

题 131　这样在路边临时停放机动车有什么违法行为？

A. 在人行横道上停车
B. 距离路边超过 30 厘米
C. 在有禁停标线路段停车
D. 在非机动车道停车

答案：A

题 132　这样临时停放，红色轿车有什么违法行为？

A. 距离路边超过 30 厘米
B. 在有禁停标线路段停车
C. 距离加油站不到 30 米
D. 停车占用非机动车道

答案：C

题 133　这样停放机动车什么违法行为？



A. 在非机动车道停车
B. 在有禁停标志路段停车
C. 在公共汽车站停车
D. 停车占用人行道

答案：C

题 134　在距这段路多少米以内的路段不能停放机动车？

A. 5 米以内　　B. 10 米以内

C. 50 米以内　　D. 30 米以内

答案：C

题 135　驾驶机动车在人行横道上临时停车属于违法行为。

答案：√

题 136　距离交叉路口 50 米以内的路段不能停车。

答案：√

题 137　这个路段可以在非机动车道上临时停车。



答案：×

解析：图中道路机动车道与非机动车道设有隔离设施，依据《实施条例》第 63 条，这个路段不能在非机动车道上临时停车。

题 138　社会车辆距离消防栓或者消防队（站）门前 30 米以内的路段不能停车。

答案：√

题 139　距离桥梁、陡坡、隧道 50 米以内的路段不能停车。

答案：√

题 140　距离宽度不足 4 米的窄路 50 米以内的路段不能停车。

答案：√

题 141　机动车停稳前不能开车门和上下人员。

答案：√

题 142　打开机动车车门时，不得妨碍其他车辆和行人通行。

答案：√

10. 车灯使用规定

【考点归纳】车灯使用规定考点见表 2-1-10。

表 2-1-10　车灯使用规定考点

序　号	规　定	考　点	来　源
1	转向灯使用	机动车应当按照下列规定使用转向灯： （1）向左转弯、向左变更车道、准备超车、驶离停车地点或者掉头时，应当提前开启左转向灯 （2）向右转弯、向右变更车道、超车完毕驶回原车道、靠路边停车时，应当提前开启右转向灯	《实施条例》第 57 条
2	照明灯使用	（1）机动车在夜间没有路灯、照明不良或者遇有雾、雨、雪、沙尘、冰雹等低能见度情况下行驶时，应当开启前照灯、示廓灯和后位灯，但同方向行驶的后车与前车近距离行驶时，不得使用远光灯	《实施条例》第 58 条、59 条

（续）

序　号	规　定	考　点	来　源
2	照明灯使用	（2）机动车雾天行驶应当开启雾灯和危险报警闪光灯 （3）机动车在夜间通过急弯、坡路、拱桥、人行横道或者没有交通信号灯控制的路口时，应当交替使用远近光灯示意 （4）机动车驶近急弯、坡道顶端等影响安全视距的路段以及超车或者遇有紧急情况时，应当减速慢行，并鸣喇叭示意	《实施条例》第 58 条、59 条

【相关试题】

题 143　驾驶机动车在道路上向左变更车道时如何使用灯光？

A. 提前开启右转向灯

B. 不用开启转向灯

C. 提前开启左转向灯

D. 提前开启近光灯

答案：C

题 144　驾驶机动车在道路上靠路边停车过程中如何使用灯光？

A. 开启危险报警闪光灯

B. 提前开启右转向灯

C. 变换使用远近光灯

D. 不用指示灯提示

答案：B

题 145　驾驶机动车在道路上掉头时提前开启左转向灯。

答案：√

题 146　驾驶机动车在道路上向右变更车道可以不使用转向灯。

答案：×

解析：依据《实施条例》第 57 条，驾驶机动车在道路上向右变更车道，应当提前开启右转向灯。

题 147　驾驶机动车在沙尘天气条件下行车不用开启前照灯、示廓灯和后位灯。

答案：×

解析：依据《实施条例》第 58 条，驾驶机动车在沙尘天气条件下行车时，应当开启前照灯、示廓灯和后位灯。

题148　在这个位置时怎样使用灯光？

A. 开启右转向灯

B. 开启左转向灯

C. 开启危险报警闪光灯

D. 开启前照灯

答案：B

题 149　进入减速车道时怎样使用灯光？

A. 开启危险报警闪光灯

B. 开启前照灯

C. 开启左转向灯

D. 开启右转向灯

答案：D

题 150　在这种环境里行车使用近光灯。

答案：√

题 151　驾驶机动车在雾天行车开启雾灯和危险报警闪光灯。

答案：√

题 152　在这种天气条件下行车如何使用灯光？

A. 使用远光灯

B. 使用雾灯

C. 不使用灯光

D. 开启右转向灯

答案：B

题 153　在这种雨天跟车行驶如何使用灯光？

A. 使用雾灯

B. 不能使用远光灯

C. 不能使用近光灯

D. 使用远光灯

答案：B

题 154　在这种环境下通过路口如何使用灯光？

A. 关闭远光灯

B. 使用危险报警闪光灯

C. 交替使用远近光灯

D. 使用远光灯

答案：C

题 155　在这种路段如何行驶？

A. 占对方道路转弯

B. 在弯道中心转弯

C. 加速鸣喇叭通过

D. 减速鸣喇叭示意

答案：D

题 156　驾驶机动车上坡时，在将要到达坡道顶端时要加速并鸣喇叭。

答案：×

解析：依据《实施条例》第 59 条，机动车驶近坡道顶端等影响安全视距的路段时，应当减速慢行，并鸣喇叭示意。题中“鸣喇叭”是正确的，但“加速”是错误的。

11. 安全保护与驾车行为规定

【考点归纳】安全保护与驾车行为规定考点见表 2-1-11。

表 2-1-11　安全保护与驾车行为规定考点

序　号	规　定	考　点	来　源
1	安全保护	机动车行驶时，驾驶人、乘坐人员应当按规定使用安全带，摩托车驾驶人及乘坐人员应当按规定戴安全头盔	《道路交通安全法》第 51 条
2	驾车行为	驾驶机动车不得有下列行为： （1）在车门、车厢没有关好时行车 （2）在机动车驾驶室的前后窗范围内悬挂、放置妨碍驾驶人视线的物品 （3）拨打接听手持电话、观看电视等妨碍安全驾驶的行为 （4）下陡坡时熄火或者空档滑行 （5）向道路上抛撒物品 （6）驾驶摩托车手离车把或者在车把上悬挂物品 （7）连续驾驶机动车超过 4 小时未停车休息或者停车休息时间少于 20 分钟 （8）在禁止鸣喇叭的区域或者路段鸣喇叭	《实施条例》第 62 条

【相关试题】

题 157　这位驾驶人违反法律规定的行为是什么？

A. 没按规定握转向盘
B. 座椅角度不对
C. 没系安全带
D. 驾驶姿势不正确

答案：C

题 158　驾驶机动车在上道路行驶前驾驶人要按规定系好安全带。

答案：√

题 159　机动车上路行驶时，前排乘车人可不系安全带。

答案：×

解析：依据《道路交通安全法》第 51 条，机动车行驶时，乘坐人员应当按规定使用安全带。

题 160　机动车行驶中，车上少年儿童可不使用安全带。

答案：×

解析：依据《道路交通安全法》第 51 条，机动车行驶时，乘坐人员应当按规定使用安全带，少年儿童也不例外。

题 161　驾驶人连续驾驶不得超过多长时间？

A. 6 小时　　B. 8 小时
C. 10 小时　　D. 4 小时

答案：D

题 162　驾驶人连续驾驶 4 小时以上，停车休息的时间不得少于多少？

A. 10 分钟　　B. 15 分钟
C. 20 分钟　　D. 5 分钟

答案：C

题 163　在什么情况下不得行车？

A. 车门没关好
B. 驾乘人员没系好安全带
C. 顶窗没关好
D. 车窗没关好

答案：A

题 164　驾驶机动车下陡坡时不得有哪些危险行为？

A. 空档滑行　　B. 低档行驶

C. 制动减速　　D. 提前减档

答案：A

题 165　在这段道路上一定要减少鸣喇叭的频率。



答案：×

解析：图中车辆前方有禁止鸣喇叭标志，依据《实施条例》第 62 条，在这段道路上不是减少鸣喇叭的频率，而是要禁止鸣喇叭。

题 166　在车门、车厢没有关好时不要驾驶机动车起步。

答案：√

题 167　不要在驾驶室的前后窗范围内悬挂和放置妨碍驾驶人视线的物品。

答案：√

题 168　行车中在道路情况良好的条件下可以观看车载视频。

答案：×

解析：依据《实施条例》第 62 条，驾驶机动车不得有观看电视等妨碍安全驾驶的行为。可见，即使道路情况良好，也不能观看车载视频。

题 169　驾驶小型汽车下陡坡时允许熄火滑行。

答案：×

解析：依据《实施条例》第 62 条，驾驶小型汽车下陡坡时不允许熄火滑行。

题 170　驾驶机动车时可以向道路上抛撒物品。

答案：×

解析：依据《实施条例》第 62 条，驾驶机动车不得向道路上抛撒物品。

题 171　在什么情况下不得行车？

A. 车窗没关闭　　B. 车门没关闭

C. 音响没关闭　　D. 顶窗没关闭

答案：B

12. 特殊情况通行规定

【考点归纳】特殊情况通行规定考点见表 2-1-12。

表 2-1-12　特殊情况通行规定考点

序　号	规　定	考　点	来　源
1	道路养护通行	道路养护车辆、工程作业车进行作业时，在不影响过往车辆通行的前提下，其行驶路线和方向不受交通标志、标线限制，过往车辆和人员应当注意避让	《道路交通安全法》第 54 条
2	特殊路段通行	机动车行经漫水路或者漫水桥时，应当停车察明水情，确认安全后，低速通过	《实施条例》第 64 条
3	特种车辆通行	（1）警车、消防车、救护车、工程救险车执行紧急任务时，可以使用警报器、标志灯具；在确保安全的前提下，不受行驶路线、行驶方向、行驶速度和信号灯的限制，其他车辆和行人应当让行	《道路交通安全法》第 53 条

（续）

序　号	规　定	考　点	来　源
3	特种车辆通行	（2）警车、消防车、救护车、工程救险车非执行紧急任务时，不得使用警报器、标志灯具，不享有前款规定的道路优先通行权	《道路交通安全法》第 53 条
4	故障车处置	机动车在道路上发生故障，需要停车排除故障时，驾驶人应当立即开启危险报警闪光灯，将机动车移至不妨碍交通的地方停放；难以移动的，应当持续开启危险报警闪光灯，并在来车方向设置警告标志等措施扩大示警距离，必要时迅速报警	《道路交通安全法》第 52 条
		机动车在道路上发生故障或者发生交通事故，妨碍交通又难以移动的，应当按照规定开启危险报警闪光灯并在车后 50 米至 100 米处设置警告标志，夜间还应当同时开启示廓灯和后位灯	《实施条例》第 60 条

【相关试题】

题 172　行车中遇到正在进行作业的道路养护车辆、工程作业车时要注意避让。

答案：√

题 173　驾驶机动车遇到这种桥时首先怎样办？

A. 保持匀速通过

B. 尽快加速通过

C. 停车察明水情

D. 低速缓慢通过

答案：C

题 174　驾驶机动车通过漫水路时要加速行驶。

答案：×

解析：依据《实施条例》第 64 条，机动车行经漫水路时，应当低速通过。

题 175　驾驶机动车遇到漫水桥时要察明水情确认安全后再低速通过。

答案：√

题 176　在这种情形中前车怎样行驶？

A. 正常行驶

B. 及时让行

C. 开启危险报警闪光灯行驶

D. 不得变更车道

答案：B

题 177　行车中遇到执行紧急任务的消防车、救护车、工程救险车时要及时让行。

答案：√

题 178　找出这辆故障车有哪种违法行为？

A. 没有开启危险报警闪光灯

B. 没有将车停到路边

C. 没有立即排除故障

D. 没有设置警告标志

答案：D

题 179　机动车在道路上发生故障，需要停车排除时，驾驶人应该怎么办？

A. 将车停在道路中间

B. 将车停到不妨碍交通的地方

C. 开启近光灯或雾灯

D. 就地停车排除故障

答案：B

题 180　机动车在道路上发生故障，难以移动时下列做法正确的是什么？

A. 开启危险报警闪光灯

B. 开启车上所有灯光

C. 禁止车上人员下车

D. 在车前方设置警告标志

答案：A

题 181　这辆停在路边的机动车没有违法行为。

答案：×

解析：图中有两项违法行为：一是没有开启危险报警闪光灯；二是警告标志设置得太近，应在车后 50 米至 100 米处设置。

题 182　机动车在道路上发生故障难以移动时要在车后 50 米以内设置警告标志。

答案：×

解析：依据《实施条例》第 60 条，警告标志应设置在车后 50 米至 100 米处。

题 183　机动车在夜间道路上发生故障难以移动时要开启危险报警闪光灯、示廓灯、后位灯。

答案：√

13. 高速公路通行规定

【考点归纳】高速公路通行规定考点见表 2-1-13。

表 2-1-13　高速公路通行规定考点

序　号	规　定	考　点	来　源
1	驶入与驶离高速公路	（1）机动车从匝道驶入高速公路，应当开启左转向灯，在不妨碍已在高速公路内的机动车正常行驶的情况下驶入车道 （2）机动车驶离高速公路时，应当开启右转向灯，驶入减速车道，降低车速后驶离	《实施条例》第 79 条
2	高速公路车速	（1）高速公路应当标明车道的行驶速度，最高车速不得超过 120 公里 / 小时，最低车速不得低于 60 公里 / 小时	《实施条例》第 78 条

（续）

序　号	规　定	考　点	来　源
2	高速公路车速	（2）在高速公路上行驶的小型载客汽车最高车速不得超过 120 公里 / 小时，其他机动车不得超过 100 公里 / 小时，摩托车不得超过 80 公里 / 小时 （3）同方向有两条车道的，左侧车道的最低车速为 100 公里 / 小时；同方向有三条以上车道的，最左侧车道的最低车速为 110 公里 / 小时，中间车道的最低车速为 90 公里 / 小时 （4）道路限速标志标明的车速与上述车道行驶车速的规定不一致的，按照道路限速标志标明的车速行驶	《实施条例》第 78 条
3	高速公路车距	机动车在高速公路上行驶，车速超过 100 公里 / 小时时，应当与同车道前车保持 100 米以上的距离，车速低于 100 公里 / 小时时，与同车道前车距离可以适当缩短，但最小距离不得少于 50 米	《实施条例》第 80 条
4	高速公路行驶	机动车在高速公路上行驶，不得有下列行为： （1）倒车、逆行、穿越中央分隔带掉头或者在车道内停车 （2）在匝道、加速车道或者减速车道上超车 （3）骑、轧车行道分界线或者在路肩上行驶 （4）非紧急情况时在应急车道行驶或者停车 （5）试车或者学习驾驶机动车	《实施条例》第 82 条
5	不良气候条件下高速公路通行	机动车在高速公路上行驶，遇有雾、雨、雪、沙尘、冰雹等低能见度气象条件时，应当遵守下列规定： （1）能见度小于 200 米时，开启雾灯、近光灯、示廓灯和前后位灯，车速不得超过 60 公里 / 小时，与同车道前车保持 100 米以上的距离 （2）能见度小于 100 米时，开启雾灯、近光灯、示廓灯、前后位灯和危险报警闪光灯，车速不得超过 40 公里 / 小时，与同车道前车保持 50 米以上的距离 （3）能见度小于 50 米时，开启雾灯、近光灯、示廓灯、前后位灯和危险报警闪光灯，车速不得超过 20 公里 / 小时，并从最近的出口尽快驶离高速公路	《实施条例》第 81 条
6	车辆依据高速公路发生故障的处置	（1）机动车在高速公路上发生故障时，应当依据普通道路的有关规定办理；但是，警告标志应当设置在故障车来车方向 150 米以外，车上人员应当迅速转移到右侧路肩上或者应急车道内，并且迅速报警 （2）机动车在高速公路上发生故障或者交通事故，无法正常行驶的，应当由救援车、清障车拖曳、牵引	《实施条例》第 68 条

题 184　机动车驶入高速公路行车道不得妨碍已在高速公路内的机动车正常行驶。

答案：√

题 185　驾驶机动车驶离高速公路时，在这个位置怎样行驶？

A. 驶入减速车道

B. 继续向前行驶

C. 车速保持 100 公里 / 小时

D. 车速降到 40 公里 / 小时以下

答案：A

题 186　这辆小型载客汽车驶离高速公路行车道的方法是正确的。

答案：√

题 187　在这段高速公路上行驶的最高车速是多少？

A. 60 公里 / 小时

B. 90 公里 / 小时

C. 100 公里 / 小时

D. 120 公里 / 小时

答案：D

题 188　在这段高速公路上行驶的最低车速是多少？

A. 100 公里 / 小时

B. 80 公里 / 小时

C. 60 公里 / 小时

D. 50 公里 / 小时

答案：C

题 189　在这条车道行驶的最低车速是多少？

A. 60 公里 / 小时

B. 90 公里 / 小时

C. 100 公里 / 小时

D. 110 公里 / 小时

答案：C

题 190　在这条车道行驶的最低车速是多少？

A. 100 公里 / 小时

B. 110 公里 / 小时

C. 60 公里 / 小时

D. 90 公里 / 小时

答案：D

题 191　在这条车道行驶的最高车速是多少？

A. 100 公里 / 小时

B. 90 公里 / 小时

C. 120 公里 / 小时

D. 110 公里 / 小时

答案：B

题 192　驾驶小型载客汽车在高速公路行驶的最低车速为 90 公里 / 小时。

答案：×

解析：依据《实施条例》第 78 条，每条车道的最低车速是不一样的，不能统一定为 90 公里 / 小时。

题 193　驾驶机动车在高速公路要按照限速标志标明的车速行驶。

答案：√

题 194　驾驶小型载客汽车在高速公路上速度超过 100 公里 / 小时的跟车距离是多少？

A. 保持 50 米以上

B. 保持 60 米以上

C. 保持 100 米以上

D. 保持 80 米以上

答案：C

题 195　驾驶小型载客汽车在高速公路上速度低于 100 公里 / 小时的最小跟车距离是多少？

A. 不得少于 20 米

B. 不得少于 10 米

C. 不得少于 50 米

D. 不得少于 30 米

答案：C

题 196　可以从这个位置直接驶入高速公路行车道。



答案：×

解析：汽车驶入高速公路，应先从匝道驶入加速车道，经加速后再驶入车行道，图中车辆从匝道直接驶入车行道是错误的。

题 197　驶离高速公路可以从这个位置直接驶入匝道。

答案：×

解析：依据《实施条例》第 82 条，驶离高速公路应先进入减速车道，再驶入匝道，图中车辆压实线直接进入匝道是错误的。

题 198　这辆小型载客汽车进入高速公路行车道的行为是正确的。

答案：×

解析：汽车驶入高速公路，应先从匝道驶入加速车道，经加速后再驶入车行道，图中车辆从匝道直接驶入车行道是错误的。

题 199　驾驶机动车在高速公路遇到能见度低于 200 米的气象条件时，

最高车速是多少？

A. 不得超过 100 公里 / 小时

B. 不得超过 90 公里 / 小时

C. 不得超过 60 公里 / 小时

D. 不得超过 80 公里 / 小时

答案：C

题 200　驾驶机动车在高速公路遇到能见度低于 100 米的气象条件时，最高车速是多少？

A. 不得超过 40 公里 / 小时

B. 不得超过 60 公里 / 小时

C. 不得超过 80 公里 / 小时

D. 不得超过 90 公里 / 小时

答案：A

题 201　驾驶机动车在高速公路遇到能见度低于 50 米的气象条件时，车速不得超过 20 公里 / 小时，还应怎么做？

A. 进入应急车道行驶

B. 尽快驶离高速公路

C. 尽快在路边停车

D. 在路肩低速行驶

答案：B

题 202　这辆在高速公路上临时停放的故障车，警告标志应该设置在车后多远处？



A. 150 米以外　　B. 50 ～ 150 米

C. 50 米以内　　D. 50 ～ 100 米

答案：A

题 203　机动车在高速公路上发生故障时错误的做法是什么？

A. 按规定设置警告标志

B. 车上人员不能下车

C. 迅速报警

D. 开启危险报警闪光灯

答案：B

题 204　车辆因故障必须在高速公路停车时，应在车后方多少米以外设置故障警告标志？

A. 25　B. 150　C. 100　D. 50

答案：B

题 205　机动车在高速公路上发生故障或交通事故无法正常行驶时由什么车拖曳或牵引？

A. 过路车　　B. 大客车

C. 同行车　　D. 清障车

答案：D

题 206　机动车在高速公路上发生故障时，在来车方向 50 至 100 米处设置警告标志。

答案：×

解析：依据《实施条例》第 60 条和《道路交通安全法》第 68 条，警告标志应设置在来车方向，普通道路为 50 至 100 米处，高速公路为 150 米以外。题中是在高速公路上，所以设置距离是错误的。

题 207　机动车在高速公路上发生故障时，将车上人员迅速转移到右侧路肩上或者应急车道内，并且迅速报警。

答案：√

题 208　机动车在高速公路上发生交通事故无法正常行驶时，用救援车、清障车拖曳、牵引。

答案：√

14. 违法行为处罚规定

【考点归纳】违法行为处罚规定考点见表 2-1-14。

表 2-1-14　违法行为处罚规定考点

序　号	规　定	考　点	来　源
1	对道路交通安全违法行为的处罚	公安机关交通管理部门及其交通警察应当依据事实和有关规定对道路交通安全违法行为予以处罚	《道路交通安全法》第 87 条
		对道路交通安全违法行为的处罚种类包括：警告、罚款、暂扣或者吊销机动车驾驶证、拘留	《道路交通安全法》第 88 条
2	对违反牌证使用管理规定的处罚	上道路行驶的机动车未悬挂机动车号牌，未放置检验合格标志、保险标志，或者未随车携带行驶证、驾驶证的，公安机关交通管理部门应当扣留机动车	《道路交通安全法》第 95 条
		伪造、变造或者使用伪造、变造的机动车登记证书、号牌、行驶证、驾驶证的，由公安机关交通管理部门予以收缴，扣留该机动车，处 15 日以下拘留，并处 2000 元以上 5000 元以下罚款；构成犯罪的，依法追究刑事责任	《道路交通安全法》第 96 条
3	对无证驾驶违法行为的处罚	未取得机动车驾驶证、机动车驾驶证被吊销或者机动车驾驶证被暂扣期间驾驶机动车的，由公安机关交通管理部门处 200 元以上 2000 元以下罚款	道路交通安全法》第 99 条
4	对驾驶拼装或报废机动车的处罚	（1）驾驶拼装的机动车或者已达到报废标准的机动车上道路行驶的，公安机关交通管理部门应当予以收缴，强制报废 （2）对驾驶前款所列机动车上道路行驶的驾驶人，处 200 元以上 2000 元以下罚款，并吊销机动车驾驶证	《道路交通安全法》第 100 条
5	对发生重大交通事故和肇事逃逸的处罚	（1）违反道路交通安全法律、法规的规定，发生重大交通事故，构成犯罪的，依法追究刑事责任，并由公安机关交通管理部门吊销机动车驾驶证 （2）造成交通事故后逃逸的，由公安机关交通管理部门吊销机动车驾驶证，且终生不得重新取得机动车驾驶证	《道路交通安全法》第 101 条

【相关试题】

题 209　驾驶机动车在道路上违反道路通行规定应当接受相应的处罚。

答案：√

题 210　上路行驶的机动车未随车携带身份证的，交通警察可依法扣留机动车。

答案：×

解析：依据《道路交通安全法》第 95 条，依法扣留机动车的情形中不包括随车携带身份证。

题 211　上路行驶的机动车未放置检验合格标志的，交通警察可依法扣留机动车。

答案：√

题 212　伪造、变造机动车驾驶证

构成犯罪的将被依法追究刑事责任。

答案：√

题 213　对未取得驾驶证驾驶机动车的，追究其法律责任。

答案：√

题 214　驾驶拼装机动车上路行驶的驾驶人，除按规定接受罚款外，还要受到哪种处理？

A. 暂扣驾驶证

B. 吊销驾驶证

C. 追究刑事责任

D. 处 10 日以下拘留

答案：B

题 215　驾驶报废机动车上路行驶的驾驶人，除按规定罚款外，还要受到哪种处理？

A. 收缴驾驶证

B. 撤销驾驶许可

C. 强制恢复车况

D. 吊销驾驶证

答案：D

题 216　对驾驶已达到报废标准的机动车上路行驶的驾驶人，会受到下列哪种处罚？

A. 处 20 元以上 200 元以下罚款

B. 追究刑事责任

C. 处 15 日以下拘留

D. 吊销机动车驾驶证

答案：D

题 217　对驾驶拼装机动车上路行驶的驾驶人，会受到下列哪种处罚？

A. 依法追究刑事责任

B. 处 200 元以上 2000 元以下罚款

C. 吊销机动车行驶证

D. 处 15 日以下拘留

答案：B

题 218　对违法驾驶发生重大交通事故且构成犯罪的，不追究其刑事责任。

答案：×

解析：依据《道路交通安全法》第 101 条，对题中情形应追究其刑事责任。

题 219　造成交通事故后逃逸且构成犯罪的驾驶人，将吊销驾驶证且终生不得重新取得驾驶证。

答案：√

题 220　机动车驾驶人违法驾驶造成重大交通事故构成犯罪的，依法追究什么责任？

A. 刑事责任　　B. 民事责任

C. 直接责任　　D. 经济责任

答案：A

题 221　机动车驾驶人造成事故后逃逸构成犯罪的，吊销驾驶证且多长时间不得重新取得驾驶证？

A. 5 年内　　B. 10 年内

C. 20 年内　　D. 终生

答案：D

（二）机动车驾驶证申领和使用规定

1. 机动车驾驶证申请

【考点归纳】机动车驾驶证申请考点见表 2-1-15。

表 2-1-15　机动车驾驶证申请考点

序　号	规　定	考　点	来　源
1	年龄条件	（1）申请小型汽车、小型自动档汽车、残疾人专用小型自动档载客汽车、轻便摩托车准驾车型的，年龄在 18 周岁以上、70 周岁以下 （2）申请城市公交车、大型货车、无轨电车或者有轨电车准驾车型的，年龄在 20 周岁以上，50 周岁以下	《机动车驾驶证申领和使用规定》第 11 条
2	不得申请机动车驾驶证的情形	（1）三年内有吸食、注射毒品行为或者解除强制隔离戒毒措施未满三年，或者长期服用依赖性精神药品成瘾尚未戒除的 （2）造成交通事故后逃逸构成犯罪的 （3）饮酒后或者醉酒驾驶机动车发生重大交通事故构成犯罪的	《机动车驾驶证申领和使用规定》第 12 条
3	准驾车型申请	初次申领机动车驾驶证的，可以申请准驾车型为城市公交车、大型货车、小型汽车、小型自动档汽车、低速载货汽车、三轮汽车、残疾人专用小型自动档载客汽车、普通三轮摩托车、普通二轮摩托车、轻便摩托车、轮式自行机械车、无轨电车、有轨电车的机动车驾驶证	《机动车驾驶证申领和使用规定》第 13 条
		（1）小型汽车（C1）准驾车型为：小型、微型载客汽车以及轻型、微型载货汽车；轻型、微型专项作业车，小型、微型自动档载客汽车以及轻型、微型自动档载货汽车，低速载货汽车，三轮汽车 （2）小型自动档汽车（C2）准驾车型为：小型、微型自动档载客汽车以及轻型、微型自动档载货汽车	《机动车驾驶证申领和使用规定》附件 1

【相关试题】

题 222　申请小型汽车准驾车型驾驶证的人年龄条件是多少？

A. 18 周岁以上 60 周岁以下

B. 18 周岁以上 70 周岁以下

C. 24 周岁以上 70 周岁以下

D. 21 周岁以上 50 周岁以下

答案：B

题 223　年满 20 周岁，可以初次申请下列哪种准驾车型？

A. 大型货车　　B. 大型客车

C. 中型客车　　D. 牵引车

答案：A

题 224　3 年内有下列哪种行为的人不得申请机动车驾驶证？

A. 注射胰岛素　　B. 酒醉经历

C. 吸烟成瘾　　D. 注射毒品

答案：D

题 225　申请小型汽车、三轮汽车驾驶证的，年龄应在 18 周岁以上 70 周岁以下。

答案：√

题 226　酒后驾驶发生重大交通事故被依法追究刑事责任的人不能申请机动车驾驶证。

答案：√

题 227　造成交通事故后逃逸构成犯罪的人不能申请机动车驾驶证。

答案：√

题 228　初次申领机动车驾驶证的，可以申请下列哪种准驾车型？

A. 中型客车

B. 大型客车

C. 普通三轮摩托车

D. 牵引车

答案：C

题 229　准驾车型为小型自动档汽车的，可以驾驶低速载货汽车。

答案：×

解析：依据《机动车驾驶证申领和使用规定》附件 1，小型自动档汽车（C2）准驾车型不包括低速载货汽车。

题 230　准驾车型为小型汽车的，可以驾驶小型自动档载客汽车。

答案：√

题 231　准驾车型为小型自动档汽车的，可以驾驶以下哪种车型？

A. 低速载货汽车

B. 小型汽车

C. 二轮摩托车

D. 轻型自动档载货汽车

答案：D

题 232　准驾车型为小型汽车的，可以驾驶下列哪种车辆？

A. 低速载货汽车

B. 中型客车

C. 三轮摩托车

D. 轮式自行机械

答案：A

2. 机动车驾驶人考试

【考点归纳】机动车驾驶人考试考点见表 2-1-16。

表 2-1-16　机动车驾驶人考试考点

序　号	规　定	考　点	来　源
1	考试科目	机动车驾驶人考试内容分为道路交通安全法律、法规和相关知识考试科目（以下简称“科目一”）、场地驾驶技能考试科目（以下简称“科目二”）、道路驾驶技能和安全文明驾驶常识考试科目（以下简称“科目三”）	《机动车驾驶证申领和使用规定》第 22 条
2	小型汽车科目二考试内容	倒车入库、坡道定点停车和起步、侧方停车、曲线行驶、直角转弯	《机动车驾驶证申领和使用规定》第 25 条
3	合格标准	各科目考试的合格标准为： （1）科目一考试满分为 100 分，成绩达到 90 分的为合格 （2）科目二考试满分为 100 分，考试大型客车、牵引车、城市公交车、中型客车、大型货车准驾车型的，成绩达到 90 分的为合格，其他准驾车型的成绩达到 80 分的为合格 （3）科目三道路驾驶技能和安全文明驾驶常识考试满分分别为 100 分，成绩分别达到 90 分的为合格	《机动车驾驶证申领和使用规定》第 30 条

（续）

序　号	规　定	考　点	来　源
4	考试要求	驾驶技能准考证明的有效期为三年，申请人应当在有效期内完成科目二和科目三考试。未在有效期内完成考试的，已考试合格的科目成绩作废	《机动车驾驶证申领和使用规定》第 32 条
		申请人因故不能按照预约时间参加考试的，应当提前一日申请取消预约。对申请人未按照预约考试时间参加考试的，判定该次考试不合格	《机动车驾驶证申领和使用规定》第 36 条
		在驾驶技能准考证明有效期内，科目二和科目三道路驾驶技能考试预约考试的次数不得超过 5 次。第五次预约考试仍不合格的，已考试合格的其他科目成绩作废	《机动车驾驶证申领和使用规定》第 37 条

【相关试题】

题 233　科目三考试分为道路驾驶技能考试和安全文明驾驶常识考试两部分。

答案：√

题 234　小型汽车科目二考试内容包括倒车入库、坡道定点停车和起步、侧方停车、曲线行驶、直角转弯。

答案：√

题 235　科目三道路驾驶技能和安全文明驾驶常识考试满分分别为 100 分，成绩分别达到 80 和 90 分的为合格。

答案：×

解析：依据《机动车驾驶证申领和使用规定》第 30 条，科目三道路驾驶技能和安全文明驾驶常识考试满分分别为 100 分，成绩分别达到 90 分的为合格。

题 236　驾驶技能准考证明的有效期是多久？

A. 1 年　B. 2 年　C. 3 年　D. 4 年

答案：C

题 237　申请人因故不能按照预约时间参加考试的，应当提前一日申请取消预约，对申请人未按照预约考试时间参加考试的，判定该次考试不合格。

答案：√

题 238　在驾驶技能准考证明的有效期内，科目二和科目三道路驾驶技能考试预约次数不得超过多少次？

A. 3 次　B. 4 次　C. 5 次　D. 6 次

答案：C

3. 发证、换证和补证

【考点归纳】发证、换证、补证考点见表 2-1-17。

表 2-1-17　发证、换证和补证考点

序　号	规　定	考　点	来　源
1	机动车驾驶证有效期	机动车驾驶证有效期分为 6 年、10 年和长期	《机动车驾驶证申领和使用规定》第 10 条

（续）

序　号	规　定	考　点	来　源
1	机动车驾驶证有效期	机动车驾驶人在机动车驾驶证的6年有效期内，每个记分周期均未记满12分的，换发10年有效期的机动车驾驶证；在机动车驾驶证的10年有效期内，每个记分周期均未记满12分的，换发长期有效的机动车驾驶证	《机动车驾驶证申领和使用规定》第47条
		机动车驾驶人应当于机动车驾驶证有效期满前90日内，向机动车驾驶证核发地车辆管理所申请换证。申请时应当填写申请表，并提交以下证明、凭证： （1）机动车驾驶人的身份证明 （2）机动车驾驶证 （3）县级或者部队团级以上医疗机构出具的有关身体条件的证明。属于申请残疾人专用小型自动档载客汽车的，应当提交经省级卫生主管部门指定的专门医疗机构出具的有关身体条件的证明	《机动车驾驶证申领和使用规定》第48条
2	换证与补证	机动车驾驶人户籍迁出原车辆管理所管辖区的，应当向迁入地车辆管理所申请换证。机动车驾驶人在核发地车辆管理所管辖区以外居住的，可以向居住地车辆管理所申请换证	《机动车驾驶证申领和使用规定》第49条
		具有下列情形之一的，机动车驾驶人应当在30日内到机动车驾驶证核发地车辆管理所申请换证： （1）在车辆管理所管辖区域内，机动车驾驶证记载的机动车驾驶人信息发生变化的 （2）机动车驾驶证损毁无法辨认的 申请时应当填写申请表，并提交机动车驾驶人的身份证明和机动车驾驶证	《机动车驾驶证申领和使用规定》第51条
		机动车驾驶证遗失的，机动车驾驶人应当向机动车驾驶证核发地车辆管理所申请补发	《机动车驾驶证申领和使用规定》第54条

【相关试题】

题239　初次申领的机动车驾驶证的有效期为4年。

答案：×

解析：依据《驾驶证规定》第10条，机动车驾驶证有效期分为6年、10年和长期。

题240　机动车驾驶证有效期分为6年、10年、20年。

答案：×

解析：依据《驾驶证规定》第10条，机动车驾驶证有效期分为6年、10年和长期。

题241　初次申领的机动车驾驶证的有效期为多少年？

A. 3年　　B. 5年

C. 6年　　D. 12年

答案：C

题242　初次申领的机动车驾驶证的有效期为6年。

答案：√

题 243：驾驶人在机动车驾驶证的 6 年有效期内，每个记分周期均未达到 12 分的，换发 10 年有效期的机动车驾驶证。

答案：√

题 244　驾驶人在驾驶证有效期满前多长时间申请换证？

A. 60 日内　　B. 30 日内

C. 90 日内　　D. 6 个月内

答案：C

题 245　驾驶人户籍迁出原车辆管理所需要向什么地方的车辆管所提出申请？

A. 迁出地　　B. 居住地

C. 迁入地　　D. 所在地

答案：C

题 246　驾驶人在驾驶证核发地车辆管理所管辖区以外居住的，可以向居住地车辆管理所申请换证。

答案：√

题 247　驾驶证记载的驾驶人信息发生变化的要在多长时间内申请换证？

A. 30 日　　B. 40 日

C. 50 日　　D. 60 日

答案：A

题 248　机动车驾驶证遗失、损毁无法辨认时，机动车驾驶人应当向机动车驾驶证核发地车辆管理所申请补发。

答案：√

4. 记分

【考点归纳】记分考点见表 2-1-18。

表 2-1-18　记分考点

序　号	规　定	考　点	来　源
1	记分周期与分值	（1）道路交通安全违法行为累积记分周期（即记分周期）为 12 个月，满分为 12 分，从机动车驾驶证初次领取之日起计算 （2）依据道路交通安全违法行为的严重程度，一次记分的分值为：12 分、6 分、3 分、2 分、1 分五种	《机动车驾驶证申领和使用规定》第 55 条、附件 2
2	记分结果处置	机动车驾驶人在一个记分周期内累积记分达到 12 分的，公安机关交通管理部门应当扣留其机动车驾驶证 机动车驾驶人应当在 15 日内到机动车驾驶证核发地或者违法行为地公安机关交通管理部门参加为期 7 日的道路交通安全法律、法规和相关知识学习。机动车驾驶人参加学习后，车辆管理所应当在 20 日内对其进行道路交通安全法律、法规和相关知识考试。考试合格的，记分予以清除，发还机动车驾驶证；考试不合格的，继续参加学习和考试。拒不参加学习，也不接受考试的，由公安机关交通管理部门公告其机动车驾驶证停止使用	《机动车驾驶证申领和使用规定》第 58 条
		机动车驾驶人在一个记分周期内记分未达到 12 分，所处罚款已经缴纳的，记分予以清除；记分虽未达到 12 分，但尚有罚款未缴纳的，记分转入下一记分周期	《机动车驾驶证申领和使用规定》第 59 条

道路交通安全违法行为记分分值见表 2-1-19，表中打“*”号的条款为考点内容。

表 2-1-19 道路交通安全违法行为记分分值

记分分值	违法行为
记 12 分	*（1）驾驶与准驾车型不符的机动车的 *（2）饮酒后驾驶机动车的 （3）驾驶营运客车（不包括公共汽车）、校车载人超过核定人数 20%以上的 *（4）造成交通事故后逃逸，尚不构成犯罪的 *（5）上道路行驶的机动车未悬挂机动车号牌的，或者故意遮挡、污损、不按规定安装机动车号牌的 *（6）使用伪造、变造的机动车号牌、行驶证、驾驶证、校车标牌或者使用其他机动车号牌、行驶证的 *（7）驾驶机动车在高速公路上倒车、逆行、穿越中央分隔带掉头的 （8）驾驶营运客车在高速公路车道内停车的 *（9）驾驶中型以上载客载货汽车、校车、危险物品运输车辆在高速公路、城市快速路上行驶超过规定时速 20%以上或者在高速公路、城市快速路以外的道路上行驶超过规定时速 50%以上，以及驾驶其他机动车行驶超过规定时速 50% 以上的 （10）连续驾驶中型以上载客汽车、危险物品运输车辆超过 4 小时未停车休息或者停车休息时间少于 20 分钟的 （11）未取得校车驾驶资格驾驶校车的
记 6 分	（1）机动车驾驶证被暂扣期间驾驶机动车的 *（2）驾驶机动车违反道路交通信号灯通行的 （3）驾驶营运客车（不包括公共汽车）、校车载人超过核定人数未达 20%的，或者驾驶其他载客汽车载人超过核定人数 20%以上的 （4）驾驶中型以上载客载货汽车、校车、危险物品运输车辆在高速公路、城市快速路上行驶超过规定时速未达 20%的 （5）驾驶中型以上载客载货汽车、校车、危险物品运输车辆在高速公路、城市快速路以外的道路上行驶或者驾驶其他机动车行驶超过规定时速 20% 以上未达到 50% 的 （6）驾驶货车载物超过核定载质量 30% 以上或者违反规定载客的 （7）驾驶营运客车以外的机动车在高速公路车道内停车的 *（8）驾驶机动车在高速公路或者城市快速路上违法占用应急车道行驶的 （9）低能见度气象条件下，驾驶机动车在高速公路上不按规定行驶的 （10）驾驶机动车运载超限的不可解体的物品，未按指定的时间、路线、速度行驶或者未悬挂明显标志的 （11）驾驶机动车载运爆炸物品、易燃易爆化学物品以及剧毒、放射性等危险物品，未按指定的时间、路线、速度行驶或者未悬挂警示标志并采取必要的安全措施的 （12）以隐瞒、欺骗手段补领机动车驾驶证的 （13）连续驾驶中型以上载客汽车、危险物品运输车辆以外的机动车超过 4 小时未停车休息或者停车休息时间少于 20 分钟的 *（14）驾驶机动车不按照规定避让校车的
记 3 分	（略）
记 2 分	（略）
记 1 分	（略）

【相关试题】

题 249　公安交通管理部门对驾驶人的交通违法行为除依法给予行政处罚外，实行下列哪种制度？

A. 违法登记制度

B. 奖励里程制度

C. 强制报废制度

D. 累积记分制度

答案：D

题 250　道路交通安全违法行为累积记分的周期是多长时间？

A. 12 个月　　B. 24 个月

C. 3 个月　　D. 6 个月

答案：A

题 251　道路交通违法行为累积记分周期是多长时间？

A. 14 个月　　B. 12 个月

C. 6 个月　　D. 10 个月

答案：B

题 252　道路交通安全违法行为累积记分一个周期满分为 12 分。

答案：√

题 253　驾驶人有下列哪种违法行为一次记 12 分？

A. 违反交通信号灯

B. 使用伪造机动车号牌

C. 拨打、接听手机的

D. 违反禁令标志指示

答案：B

题 254　驾驶与准驾车型不符的机动车一次记几分？

A. 2 分　B. 3 分　C. 6 分　D. 12 分

答案：D

题 255　饮酒后驾驶机动车一次记几分？

A. 3 分　B. 2 分　C. 6 分　D. 12 分

答案：D

题 256　造成交通事故后逃逸，尚不构成犯罪的一次记几分？

A. 3 分　B. 2 分　C. 12 分　D. 6 分

答案：C

题 257　上道路行驶的机动车未悬挂机动车号牌的一次记几分？

A. 6 分　B. 12 分　C. 2 分　D. 3 分

答案：B

题 258　上道路行驶的机动车故意遮挡、污损、不按规定安装机动车号牌的一次记几分？

A. 2 分　B. 3 分　C. 6 分　D. 12 分

答案：D

题 259　使用伪造、变造的机动车号牌一次记几分？

A. 2 分　B. 3 分　C. 12 分　D. 6 分

答案：C

题 260　使用伪造、变造的行驶证一次记几分？

A. 6 分　B. 3 分　C. 2 分　D. 12 分

答案：D

题 261　驾驶人有下列哪种违法行为一次记 6 分？

A. 使用其他车辆行驶证

B. 车速超过规定时速 50% 以上

C. 违法占用应急车道行驶

D. 饮酒后驾驶机动车

答案：C

题 262　驾驶人驾驶机动车违反道路交通信号灯通行一次记多少分？

A. 2 分　B. 3 分　C. 6 分　D. 12 分

答案：C

题 263　有下列哪种违法行为的机

动车驾驶人将被一次记 6 分？

A. 驾驶机动车违反道路交通信号灯

B. 未取得校车驾驶资格驾驶校车

C. 驾驶与准驾车型不符的机动车

D. 饮酒后驾驶机动车

答案：A

题 264　有下列哪种违法行为的机动车驾驶人将被一次记 12 分？

A. 机动车驾驶证被暂扣期间驾驶机动车的

B. 以隐瞒、欺骗手段补领机动车驾驶证的

C. 驾驶机动车不按照规定避让校车的

D. 驾驶故意污损号牌的机动车上道路行驶

答案：D

题 265　造成交通事故后逃逸，尚不构成犯罪的一次记 12 分。

答案：√

题 266　饮酒后驾驶机动车的一次记 12 分。

答案：√

题 267　使用伪造、变造的驾驶证一次记 12 分。

答案：√

题 268　使用其他机动车号牌、行驶证的一次记 3 分。

答案：×

解析：依据《机动车驾驶证申领和使用规定》附件 2 第 1 条第 6 项，题中情形应一次记 12 分。

题 269　驾驶机动车在高速公路上倒车、逆行、穿越中央分隔带掉头的一次记 6 分。

答案：×

解析：依据《机动车驾驶证申领和使用规定》附件 2 第 1 条第 7 项，题中情形应一次记 12 分。

题 270　违反交通信号灯通行的一次记 6 分。

答案：√

题 271　车速超过规定时速 50% 以上的一次记 12 分。

答案：√

题 272　车速超过规定时速达到 50% 的一次记 3 分。

答案：×

解析：依据《机动车驾驶证申领和使用规定》附件 2 第 1 条第 9 项，题中情形应一次记 12 分。

题 273　驾驶机动车在高速公路违法占用应急车道行驶的一次记 6 分。

答案：√

题 274　驾驶机动车不按照规定避让校车的，一次记 6 分。

答案：√

题 275　公安机关交通管理部门对累积记分达到规定分值的驾驶人怎样处理？

A. 处 15 日以下拘留

B. 终身禁驾

C. 进行法律法规教育，重新考试

D. 依法追究刑事责任

答案：C

题 276　记分满 12 分的驾驶人拒不参加学习和考试的将被公告驾驶证停止使用。

答案：√

题 277　驾驶人记分没有达到满

分，有罚款尚未缴纳的，记分转入下一记分周期。　　答案：√

5. 审验

【考点归纳】审验考点见表 2-1-20。

表 2-1-20　审验考点

序　号	规　定	考　点	来　源
1	审验对象	（1）机动车驾驶人应当按照法律、行政法规的规定，定期到公安机关交通管理部门接受审验 （2）机动车驾驶人按照有关规定换领机动车驾驶证时，应当接受公安机关交通管理部门的审验 （3）持有大型客车、牵引车、城市公交车、中型客车、大型货车驾驶证的驾驶人，应当在每个记分周期结束后 30 日内到公安机关交通管理部门接受审验。但在一个记分周期内没有记分记录的，免予本记分周期审验 （4）持有本条第（3）款规定以外准驾车型驾驶证的驾驶人，发生交通事故造成人员死亡承担同等以上责任未被吊销机动车驾驶证的，应当在本记分周期结束后 30 日内到公安机关交通管理部门接受审验 （5）在异地从事营运的机动车驾驶人，向营运地车辆管理所备案登记一年后，可以直接在营运地参加审验	《机动车驾驶证申领和使用规定》第 60 条
2	审验内容	机动车驾驶证审验内容包括： （1）道路交通安全违法行为、交通事故处理情况 （2）身体条件情况 （3）道路交通安全违法行为记分及记满 12 分后参加学习和考试情况	《机动车驾驶证申领和使用规定》第 61 条
3	审验方法	年龄在 60 周岁以上的机动车驾驶人，应当每年进行一次身体检查，在记分周期结束后 30 日内，提交县级或者部队团级以上医疗机构出具的有关身体条件的证明	《机动车驾驶证申领和使用规定》第 62 条
		（1）机动车驾驶人因服兵役、出国（境）等原因，无法在规定时间内办理驾驶证期满换证、审验、提交身体条件证明的，可以向机动车驾驶证核发地车辆管理所申请延期办理。申请时应当填写申请表，并提交机动车驾驶人的身份证明、机动车驾驶证和延期事由证明 （2）延期期限最长不超过三年。延期期间机动车驾驶人不得驾驶机动车	《机动车驾驶证申领和使用规定》第 63 条

【相关试题】

题 278　小型汽车驾驶人发生交通事故造成人员死亡，承担同等以上责任未被吊销驾驶证的，应当在记分周期结束后 30 日内接受审验。

答案：√

题 279　大型客车、牵引车、城市公交车、中型客车、大型货车驾驶人应当每两年提交一次身体条件证明。

答案：×

解析：依据《机动车驾驶证申领和使用规定》第 60、61 条，题中情形应当每 1 年提交一次身体条件证明，而不是每两年。

题 280　年龄在 60 周岁以上的驾驶人多长时间提交一次身体条件证明？

A. 每 3 年　　B. 每 2 年

C. 每 6 个月　　D. 每 1 年

答案：D

题 281　驾驶人因服兵役、出国（境）等原因无法办理审验时，延期审验期限最长不超过多长时间？

A. 3 年　B. 5 年　C. 1 年　D. 2 年

答案：A

题 282　驾驶人因服兵役、出国（境）等原因延期审验期间不得驾驶机动车。

答案：√

6. 监督管理

【考点归纳】监督管理考点见表 2-1-21。

表 2-1-21　监督管理考点

序　号	规　定	考　点	来　源
1	驾驶人实习期的管理	（1）机动车驾驶人初次申请机动车驾驶证和增加准驾车型后的 12 个月为实习期 （2）在实习期内驾驶机动车的，应当在车身后部粘贴或者悬挂统一式样的实习标志	《机动车驾驶证申领和使用规定》第 64 条
		驾驶人在实习期内驾驶机动车上高速公路行驶，应当由持相应或者更高准驾车型驾驶证 3 年以上的驾驶人陪同	《机动车驾驶证申领和使用规定》第 65 条
2	机动车驾驶证注销	机动车驾驶人被查获有吸食、注射毒品后驾驶机动车行为，正在执行社区戒毒、强制隔离戒毒、社区康复措施，或者长期服用依赖性精神药品成瘾尚未戒除的，车辆管理所应当注销其机动车驾驶证	《机动车驾驶证申领和使用规定》第 67 条
		机动车驾驶人在实习期内有记满 12 分记录的，注销其实习的准驾车型驾驶资格	《机动车驾驶证申领和使用规定》第 69 条

【相关试题】

题 283　机动车驾驶人初次申请机动车驾驶证和增加准驾车型后的多长时间为实习期？

A. 6 个月　　B. 12 个月

C. 2 年　　D. 3 个月

答案：B

题 284　驾驶人在实习期内驾驶机动车时，应当在车身后部粘贴或者悬挂统一式样的实习标志。

答案：√

题 285　初次申领驾驶证的驾驶人在实习期内可以单独驾驶机动车上高速公路行驶。

答案：×

解析：依据《机动车驾驶证申领和使用规定》第 65 条，驾驶人在实习期内驾驶机动车上高速公路行驶，应当由持相应或者更高准驾车型驾驶证 3 年以上的驾驶人陪同。

题 286　正在执行社区戒毒、强制隔离戒毒、社区康复措施，车辆管理所将注销其驾驶证。

答案：√

题 287　有吸食、注射毒品后驾驶驾车行为的机动车驾驶人，不会被注销驾驶证。

答案：×

解析：依据《机动车驾驶证申领和使用规定》第 67 条，题中情形，应当注销其机动车驾驶证。

题 288　机动车驾驶人在实习期内有记满 12 分记录的，注销其实习的准驾车型驾驶资格。

答案：√

7. 对违法行为的处罚

【考点归纳】对违法行为的处罚考点见表 2-1-22。

表 2-1-22　对违法行为的处罚考点

序　号	规　定	考　点	来　源
1	对用不当手段取得机动车驾驶证的处罚	（1）隐瞒有关情况或者提供虚假材料申领机动车驾驶证的，申请人在 1 年内不得再次申领机动车驾驶证 （2）申请人在考试过程中有贿赂、舞弊行为的，取消考试资格，已经通过考试的其他科目成绩无效；申请人在 1 年内不得再次申领机动车驾驶证 （3）申请人以欺骗、贿赂等不正当手段取得机动车驾驶证的，公安机关交通管理部门收缴机动车驾驶证，撤销机动车驾驶许可；申请人在 3 年内不得再次申领机动车驾驶证	《机动车驾驶证申领和使用规定》第 78 条
2	对假冒机动车驾驶证的处罚	伪造、变造或者使用伪造、变造的机动车驾驶证的，由公安机关交通管理部门予以收缴，依法拘留，并处 2000 元以上 5000 元以下罚款；构成犯罪的，依法追究刑事责任	《机动车驾驶证申领和使用规定》第 81 条

【相关试题】

题 289　提供虚假材料申领驾驶证的申请人会承担下列哪种法律责任？

A. 处 20 元以上 200 元以下罚款

B. 取消申领驾驶证资格

C. 1 年内不得再次申领驾驶证

D. 2 年内不能再次申领驾驶证

答案：C

题 290　以欺骗、贿赂等不正当手段取得驾驶证被依法撤销驾驶许可的，

多长时间不得重新申请驾驶许可？

A. 3 年内　　B. 终身

C. 1 年内　　D. 5 年内

答案：A

题 291　伪造、变造或者使用伪造、变造驾驶证的驾驶人构成犯罪的，将依法追究刑事责任。

答案：√

（三）机动车登记规定

【考点归纳】机动车登记规定考点见表 2-1-23。

表 2-1-23　机动车登记规定考点

序　号	规　定	考　点	来　源
1	不予办理注册登记的情形	机动车达到国家规定的强制报废标准的，不予办理注册登记	《机动车登记规定》第 9 条第 1 款第 7 项
2	应申请变更登记的情形	已注册登记的机动车有下列情形之一的，机动车所有人应当向登记地车辆管理所申请变更登记： （1）改变车身颜色的 （2）更换发动机的 （3）更换车身或者车架的 （4）因质量问题更换整车的 （5）营运机动车改为非营运机动车或者非营运机动车改为营运机动车等使用性质改变的 （6）机动车所有人的住所迁出或者迁入车辆管理所管辖区域的	《机动车登记规定》第 10 条
3	机动车登记凭证灭失、丢失或者损毁的补领与换领	机动车登记证书灭失、丢失或者损毁的，机动车所有人应当向登记地车辆管理所申请补领、换领	《机动车登记规定》第 43 条
		机动车号牌、行驶证灭失、丢失或者损毁的，机动车所有人应当向登记地车辆管理所申请补领、换领	《机动车登记规定》第 44 条

【相关试题】

题 292　机动车达到国家规定的强制报废标准的不能办理注册登记。

答案：√

题 293　已注册登记的小型载客汽车有下列哪种情形，所有人不需要办理变更登记？

A. 机动车更换发动机

B. 加装前后防撞装置

C. 改变车身颜色

D. 更换车身或者车架

答案：B

题 294　机动车行驶证灭失、丢失，机动车所有人要向登记地车辆管理所申请补领、换领。

答案：√

解析：常识题，记住。

题 295　机动车号牌损毁，机动车所有人要向登记地车辆管理所申请补领、换领。

答案：√

题 296　机动车登记证书、号牌、行驶证灭失、丢失或者损毁的，机动车所有人应当向居住地车辆管理所申请补领、换领。

答案：×

解析：依据《机动车登记规定》第 43、44 条，题中情形应当向“登记地”车辆管理所申请补领、换领，而不是“居住地”。

题 297　机动车登记证书、号牌、行驶证灭失、丢失或者损毁的，机动车所有人应当向哪个部门申请补领、换领。

A. 住地交警支队车辆管理所
B. 驾驶证核发地车辆管理所
C. 登记地车辆管理所
D. 当地公安局

答案：C

（四）道路交通安全违法行为处理程序规定

【考点归纳】道路交通安全违法行为处理程序规定考点见表 2-1-24。

表 2-1-24　道路交通安全违法行为处理程序规定考点

序　号	规　定	考　点	来　源
1	处理道路交通安全违法行为时依法扣留车辆的情形	有下列情形之一的，依法扣留车辆： （1）上道路行驶的机动车未悬挂机动车号牌，未放置检验合格标志、保险标志，或者未随车携带机动车行驶证、驾驶证的 （2）有伪造、变造或者使用伪造、变造的机动车登记证书、号牌、行驶证、检验合格标志、保险标志、驾驶证或者使用其他车辆的机动车登记证书、号牌、行驶证、检验合格标志、保险标志嫌疑的 （3）未按照国家规定投保机动车交通事故责任强制保险的 （4）公路客运车辆或者货运机动车超载的 （5）机动车有被盗抢嫌疑的 （6）机动车有拼装或者达到报废标准嫌疑的 （7）未申领《剧毒化学品公路运输通行证》通过公路运输剧毒化学品的 （8）非机动车驾驶人拒绝接受罚款处罚的	《道路交通安全违法行为处理程序规定》第 25 条
2	处理道路交通安全违法行为时依法扣留机动车驾驶证的情形	有下列情形之一的，依法扣留机动车驾驶证： （1）饮酒后驾驶机动车的 （2）将机动车交由未取得机动车驾驶证或者机动车驾驶证被吊销、暂扣的人驾驶的 （3）机动车行驶超过规定时速百分之五十的 （4）驾驶有拼装或者达到报废标准嫌疑的机动车上道路行驶的 （5）在一个记分周期内累积记分达到 12 分的	《道路交通安全违法行为处理程序规定》第 29 条

【相关试题】

题 298　上道路行驶的机动车有哪种情形交通警察可依法扣留车辆？

A. 未悬挂机动车号牌

B. 未携带身份证

C. 未携带保险合同

D. 未放置城市环保标志

答案：A

解析：未放置检验合格标志、未悬挂机动车号牌、未放置保险标志的、未携带机动车行驶证的都是可依法扣留车辆的。

题 299　上道路行驶的机动车有哪种情形交通警察可依法扣留车辆？

A. 未放置检验合格标志

B. 未携带身份证

C. 未放置城市环保标志

D. 未携带机动车登记证书

答案：A

题 300　上道路行驶的机动车有哪种情形交通警察可依法扣留车辆？

A. 未携带机动车登记证书

B. 未携带保险合同

C. 未放置城市环保标志

D. 未放置保险标志

答案：D

题 301　驾驶人未携带哪种证件驾驶机动车上路，交通警察可依法扣留车辆？

A. 机动车驾驶证　B. 居民身份证

C. 机动车通行证　D. 从业资格证

答案：A

题 302　驾驶人未携带哪种证件驾驶机动车上路，交通警察可依法扣留车辆？

A. 机动车行驶证 B. 从业资格证

C. 居民身份证　D. 机动车通行证

答案：A

题 303　对未放置检验合格标志上道路行驶的车辆，交通警察可依法予以扣留。

答案：√

题 304　交通警察对未放置保险标志上道路行驶的车辆可依法扣留行驶证。

答案：×

解析：依据《道路交通安全违法行为处理程序规定》第 25 条，题中情形应扣留车辆，而不是扣留行驶证。

题 305　对有伪造或变造号牌、行驶证嫌疑的车辆，交通警察可依法予以扣留。

答案：√

题 306　对有使用伪造或变造检验合格标志嫌疑的车辆，交通警察只进行罚款处罚。

答案：×

解析：依据《道路交通安全违法行为处理程序规定》第 25 条，题中情形应扣留车辆，而不是只进行罚款处罚。

题 307　对使用其他车辆号牌、行驶证的车辆，交通警察可依法予以扣留。

答案：√

题 308　对未按照国家规定投保交强险的车辆，交通警察可依法予以扣留。

答案：√

题 309　对发生道路交通事故需要收集证据的事故车，交通警察可以依法扣留。

答案：√

题 310　驾驶人有使用其他车辆号牌、行驶证嫌疑的，交通警察可依法扣留车辆。

答案：√

题 311　驾驶人有使用其他车辆检验合格标志嫌疑的，交通警察可依法扣留车辆。

答案：√

题 312　驾驶人有使用其他车辆保险标志嫌疑的，交通警察可依法扣留车辆。

答案：√

题 313　驾驶人驾驶有达到报废标准嫌疑机动车上路的，交通警察依法予以拘留。

答案：×

解析：依据《道路交通安全违法行为处理程序规定》第 25 条，题中情形应扣留车辆，而不是拘留驾驶人。

题 314　驾驶人有哪种情形，交通警察可依法扣留机动车驾驶证？

A. 超过规定速度 10%

B. 疲劳后驾驶机动车

C. 行车中未系安全带

D. 饮酒后驾驶机动车

答案：D

题 315　驾驶人将机动车交由什么样的人驾驶的，交通警察可依法扣留机动车驾驶证？

A. 实习期驾驶人

B. 取得驾驶证的人

C. 驾驶证被吊销的人

D. 驾驶证记分达到 6 分的人

答案：C

题 316　驾驶人将机动车交给驾驶证被吊销的人驾驶的，交通警察依法扣留驾驶证。

答案：√

题 317　驾驶人将机动车交给驾驶证被暂扣的人驾驶的，交通警察给予口头警告。

答案：×

解析：依据《道路交通安全违法行为处理程序规定》第 29 条，题中情形应扣留机动车驾驶证，而不是给予口头警告。

题 318　驾驶人在一个记分周期内累积记分达到 12 分的，交通警察依法扣留驾驶证。

答案：√

（五）交通事故处理程序规定

【考点归纳】交通事故处理程序规定考点见表 2-1-25。

表 2-1-25　交通事故处理程序规定考点

序　号	规　定	考　点	来　源
1	发生道路交通事故当事人应保护现场并立即报警的情形	道路交通事故有下列情形之一的，当事人应当保护现场并立即报警： （1）造成人员死亡、受伤的	《交通事故处理程序规定》第 8 条

（续）

序　号	规　定	考　点	来　源
1	发生道路交通事故当事人应保护现场并立即报警的情形	（2）发生财产损失事故，当事人对事实或者成因有争议的，以及虽然对事实或者成因无争议，但协商损害赔偿未达成协议的 （3）机动车无号牌、无检验合格标志、无保险标志的 （4）载运爆炸物品、易燃易爆化学物品以及毒害性、放射性、腐蚀性、传染病病原体等危险物品车辆的 （5）碰撞建筑物、公共设施或者其他设施的 （6）驾驶人无有效机动车驾驶证的 （7）驾驶人有饮酒、服用国家管制的精神药品或者麻醉药品嫌疑的 （8）当事人不能自行移动车辆的	《交通事故处理程序规定》第 8 条
2	自行协商处理	（1）机动车与机动车、机动车与非机动车发生财产损失事故，当事人对事实及成因无争议的，可以自行协商处理损害赔偿事宜。车辆可以移动的，当事人应当在确保安全的原则下对现场拍照或者标划事故车辆现场位置后，立即撤离现场，将车辆移至不妨碍交通的地点，再进行协商 （2）对应当自行撤离现场而未撤离的，交通警察应当责令当事人撤离现场；造成交通堵塞的，对驾驶人处以 200 元罚款；驾驶人有其他道路交通安全违法行为的，依法一并处罚	《交通事故处理程序规定》第 13 条

【相关试题】

题 319　驾驶机动车碰撞建筑物、公共设施后可即行撤离现场。

答案：×

解析：依据《交通事故处理程序规定》第 8 条，题中情形，当事人应当保护现场并立即报警，不能即行撤离现场。

题 320　发生交通事故造成人员受伤时，要保护现场并立即报警。

答案：√

题 321　道路交通事故中，驾驶人有饮酒、醉酒嫌疑时，要保护现场并立即报警。

答案：√

题 322　道路交通事故中，机动车无号牌、检验合格标志、保险标志时，要保护现场并立即报警。

答案：√

题 323　驾驶机动车发生财产损失交通事故，当事人对事实及成因无争议的可先撤离现场。

答案：√

题 324　驾驶机动车发生财产损失交通事故后，当事人对事实及成因无争议移动车辆时需要对现场拍照或者标划停车位置。

答案：√

题 325　机动车在道路上发生轻微交通事故且妨碍交通时，不需移动。

答案：×

解析：依据《交通事故处理程序规定》第 13 条，题中情形，应迅速撤离现场，而不是“不需移动”。

题 326　机动车发生财产损失交通事故，对应当自行撤离现场而未撤离的，交通警察不可以责令当事人撤离现场。

答案：×

解析：依据《交通事故处理程序规定》第 13 条，题中情形，交通警察应当责令当事人撤离现场。

题 327　机动车发生财产损失交通事故，对应当自行撤离现场而未撤离造成交通堵塞的，可以对驾驶人处以 200 元罚款。

答案：√

（六）刑法

【考点归纳】刑法考点见表 2-1-26。

表 2-1-26　刑法考点

规　定	考　点	来　源
对违反刑法的处罚	（1）违反交通运输管理法规，因而发生重大事故，致人重伤、死亡或者使公私财产遭受重大损失的，处 3 年以下有期徒刑或者拘役；交通运输肇事后逃逸或者有其他特别恶劣情节的，处 3 年以上 7 年以下有期徒刑；因逃逸致人死亡的，处 7 年以上有期徒刑 （2）在道路上驾驶机动车追逐竞驶，情节恶劣的，或者在道路上醉酒驾驶机动车的，处拘役，并处罚金 （3）有前款行为，同时构成其他犯罪的，依照处罚较重的规定定罪处罚	《刑法》第 133 条

【相关试题】

题 328　驾驶人违反交通运输管理法规发生重大事故致人重伤的可能判处 3 年以下徒刑或拘役。

答案：√

题 329　驾驶人违反交通运输管理法规发生重大事故致人死亡的处 3 年以上有期徒刑。

答案：×

解析：依据《刑法》第 133 条，题中情形，应处 3 年以下有期徒刑或者拘役，而不是“3 年以上有期徒刑”。

题 330　驾驶人违反交通运输管理法规发生重大事故使公私财产遭受重大损失的可能处 3 年以下徒刑或拘役。

答案：√

题 331　驾驶人违反交通运输管理法规发生重大事故致人死亡且逃逸的，处多少年有期徒刑？

A. 7 年以上

B. 3 年以下

C. 3 年以上 7 年以下

D. 10 年以上

答案：C

题 332　驾驶人违反交通运输管理法规发生重大事故后，因逃逸致人死亡的，处多少年有期徒刑？

A. 2 年以下　　B. 3 年以下

C. 7 年以下　　D. 7 年以上

答案：D

题 333　驾驶人违反交通运输管理法规发生重大事故后，逃逸或者有其他特别恶劣情节的，处 7 年以上有期徒刑。

答案：×

解析：依据《刑法》第 133 条，题中情形，应处 3 年以上 7 年以下有期徒刑，而不是“7 年以上有期徒刑”。

题 334　驾驶人违反交通运输管理法规发生重大事故后，因逃逸致人死亡的，处 3 年以上 7 年以下有期徒刑。

答案：×

解析：依据《刑法》第 133 条，题中情形，应处 7 年以上有期徒刑，而不是“3 年以上 7 年以下有期徒刑”。

题 335　驾驶机动车在道路上追逐竞驶，情节恶劣，会受到什么处罚？

A. 处 6 个月徒刑

B. 处 1 年以上徒刑

C. 处管制，并处罚金

D. 处拘役，并处罚金

答案：D

题 336　驾驶人在道路上驾驶机动车追逐竞驶，情节恶劣的处 3 年以下有期徒刑。

答案：×

解析：依据《刑法》第 133 条，题中情形，应处拘役，并处罚金，而不是“处 3 年以下有期徒刑”。

题 337　醉酒驾驶机动车在道路上行驶会受到什么处罚？

A. 处管制，并处罚金

B. 处 2 年以上徒刑

C. 处拘役，并处罚金

D. 处 2 年以下徒刑

答案：C

题 338　驾驶人在道路上醉酒驾驶机动车的处 3 年以上有期徒刑。

答案：×

解析：依据《刑法》第 133 条，题中情形，应处拘役，并处罚金，而不是“处 3 年以上有期徒刑”。

二、道路交通信号

（一）交通信号灯

【考点归纳】交通信号灯的种类与含义见表 2-2-1。

表 2-2-1　交通信号灯的种类与含义

信号灯种类	信号灯状态	含　义	图　示
机动车信号灯	绿灯亮	绿灯表示准许通行。绿灯亮时，准许面对绿灯的车辆、行人直行，左转弯，右转弯。但转弯的车辆不准妨碍直行车辆和被放行的行人通行	
	黄灯亮	黄灯表示警示。黄灯亮时，不准车辆、行人通行。但已越过停止线的车辆和已进入人行道的行人，可以继续通行	
	红灯亮	红灯表示禁止通行。红灯亮时，不准车辆、行人通行。右转弯的车辆在不妨碍被放行的车辆、行人通行的情况下，可以通行	
	黄灯闪烁	黄灯闪烁表示提醒。提醒车辆、行人注意前方是交叉路口，车辆和行人须在确保安全的原则下通行。右转弯车辆和 T 形路口右边无横道的车辆可以直接通行	
车道信号灯	绿色箭头灯亮	准许面对箭头灯的车辆进入绿色箭头灯所指的车道内通行	
	红色叉形灯或者箭头灯亮	不准面对红色叉形灯的车辆进入红色叉形灯下方的车道通行	
方向指示信号灯	绿色箭头灯亮	准许车辆按箭头指示方向通行	
	红色箭头灯亮	箭头指示方向禁止车辆通行	
闪光警告信号灯	黄灯持续闪烁	提示车辆、行人通行时注意瞭望，确认安全后通过	
道路与铁路平面交叉道口信号灯	两个红灯交替闪烁或者一个红灯亮	表示禁止车辆、行人通行	
	红灯熄灭	表示允许车辆、行人通行	

【相关试题】

题 1　前方路口这种信号灯亮表示什么意思？



A. 路口警示　　B. 禁止通行

C. 提醒注意　　D. 准许通行

答案：D

题 2　前方路口这种信号灯亮表示什么意思？

A. 加速左转　　B. 禁止右转

C. 路口警示　　D. 加速直行

答案：C



题 3　前方路口这种信号灯亮表示什么意思？



A. 准许通行　　B. 提醒注意

C. 路口警示　　D. 禁止通行

答案：D

题 4　驾驶机动车在路口直行遇到这种信号灯应该怎样行驶？

A. 进入路口等待

B. 左转弯行驶

C. 加速直行通过

D. 不得越过停止线

答案：D

题 5　驾驶机动车行驶到这个位置时，如果车前轮已越过停止线可以继续通过。

答案：×

解析：图中车辆前方亮的是红灯，而不是黄灯，所以前轮已越过停止线也不能继续通过。

题 6　驾驶机动车在这种信号灯亮的路口，可以右转弯。

答案：√

题 7　驾驶机动车在路口遇到这种信号灯禁止通行。

答案：×

解析：遇到图中绿灯亮时，车辆可以通行。

题 8　绿灯亮表示前方路口允许机动车通行。

答案：√

题 9　驾驶机动车在路口遇到这种信号灯亮时，要在停止线前停车瞭望。

答案：×

解析：遇到图中绿灯亮时，可继续通行，不需停车瞭望。

题 10　驾驶机动车在路口遇到这种信号灯亮时，不能右转弯。

答案：×

解析：遇到图中绿灯亮时，车辆可以右转弯。

题 11　驾驶机动车遇到这种信号灯，可在对面直行车前直接向左转弯。

答案：×

解析：遇到图中绿灯亮时，左转弯的车辆不得妨碍被放行的直行车辆通行。

题 12　驾驶机动车在路口遇到这种信号灯表示什么意思？

A. 禁止右转　　B. 路口警示

C. 准许直行　　D. 加速通过

答案：B

题 13　驾驶机动车在路口看到这种信号灯亮时，要加速通过。

答案：×

解析：看到图中黄灯亮时，未越过停止线的车辆禁止通行。

题 14　驾驶机动车在前方路口不能右转弯。

答案：×

解析：图中黄灯亮时，右转弯的车辆可以通行。

题 15　驾驶机动车遇到这种信号灯亮时，如果已越过停止线，可以继续通行。

答案：√

题 16　路口黄灯持续闪烁，警示驾驶人要注意瞭望，确认安全通过。

答案：√

题 17　黄灯持续闪烁，表示机动车可以加速通过。

答案：×

解析：黄灯持续闪烁，提示驾驶人要注意瞭望，减速慢行，谨慎通过。

题 18　遇到这种情况时怎样行驶？

A. 加速进入两侧车道行驶
B. 进入右侧车道行驶
C. 减速进入两侧车道行驶
D. 禁止车辆在两侧车道通行

答案：D

题 19　遇到这种情况时，中间车道不允许车辆通行。

答案：√

题 20　这辆红色轿车可以在该车道行驶。

答案：×

解析：图中红色轿车行驶的车道亮的是红灯，所以该车道不允许通行。

题 21　驾驶机动车要选择绿色箭头灯亮的车道行驶。

答案：√

题 22　有这种信号灯的路口允许机动车如何行驶？

A. 向右转弯　　B. 停车等待
C. 向左转弯　　D. 直行通过

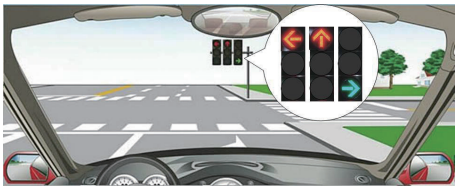

答案：A

题 23　这个路口允许车辆怎样行驶？

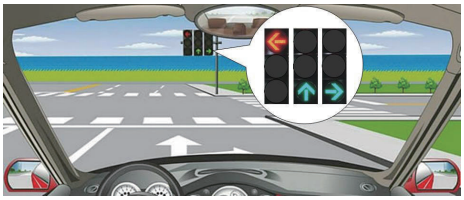

A. 直行或向右转弯
B. 向左转弯
C. 直行或向左转弯
D. 向左、向右转弯

答案：A

题 24　这个路口允许车辆怎样行驶？

A. 直行或向右转弯
B. 向右转弯
C. 向左转弯
D. 直行

答案：C

题 25　这个路口允许车辆怎样行驶？

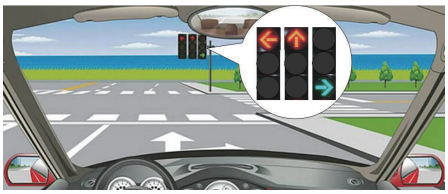

A. 直行　　B. 向右转弯
C. 向左转弯　　D. 直行或向左转弯

答案：B

题 26　驾驶机动车在这种情况下不能左转弯。

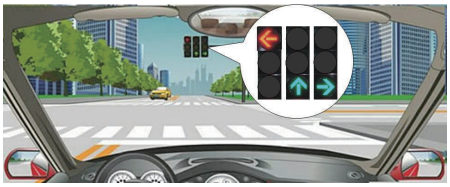

答案：√

题 27　驾驶机动车在这种情况下可以右转弯。

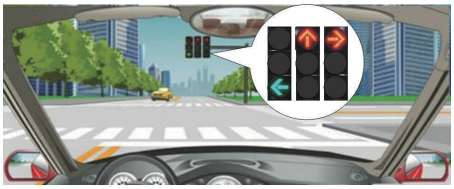

答案：×

解析：图中车辆前方右转的灯是红灯，所以不能右转弯。

题 28　驾驶机动车在这种情况下不能直行和左转弯



答案：√

题 29　驾驶机动车遇到这种信号灯不断闪烁时怎样行驶？

A. 尽快加速通过

B. 靠边停车等待

C. 注意瞭望安全通过

D. 紧急制动

答案：C

题 30　遇到这种情况的路口怎样通过？

A. 确认安全后通过

B. 右转弯加速通过

C. 加速直行通过

D. 左转弯加速通过

答案：A

题 31　驾驶机动车在铁路道口看到这种信号灯时怎样行驶？

A. 在火车到来前通过

B. 不得越过停止线

C. 边观察边缓慢通过

D. 不换档加速通过

答案：B

题 32　在铁路道口遇到两个红灯交替闪烁时要停车等待。



答案：√

题 33　在道路与铁路道口遇到一个红灯亮时要尽快通过道口。

答案：×

解析：图中道口信号灯红灯亮，表示禁止通行。

（二）交通标志

道路交通标志按其作用分为主标志和辅助标志两大类，其中主标志包括警告标志、禁令标志、指示标志、指路标志、旅游区标志、作业区标志和告示标志七种，辅助标志是附设在主标志下，起辅助说明作用的标志。

1. 警告标志

【考点归纳】警告标志是警告车辆驾驶人、行人前方有危险的标志，道路使用者需谨慎行动。该标志的形状为等边三角形或矩形，三角形的顶角朝上。其颜色为黄底、黑边、黑图形，“注意信号灯”标志的图形为红、黄、绿、黑四色，“叉形符号”为白底红图形。警告标志的图形与含义见表 2-2-2。

表 2-2-2　警告标志的图形与含义

警告标志图形	含　义	警告标志图形	含　义
	十字交叉路口标志，用以警告车辆驾驶人谨慎慢行，注意横向来车		路面不平标志，用以提醒车辆驾驶人减速慢行
	Y 形交叉路口标志，用以警告车辆驾驶人谨慎慢行，注意横向来车		路面高突标志，用以提醒车辆驾驶人减速慢行
			路面低洼标志用以提醒车辆驾驶人减速慢行
	T 形交叉路口标志，用以警告车辆驾驶人谨慎慢行，注意横向来车		过水路面（或漫水桥）标志，用以提醒车辆驾驶人谨慎慢行
			有人看守铁路道口标志，用以警告车辆驾驶人注意慢行及时停车
	环行交叉路口标志，用以警告车辆驾驶人谨慎慢行，注意横向来车		无人看守铁路道口标志，用以警告车辆驾驶人注意慢行及时停车
向左急弯路　向右急弯路	急弯路标志，用以警告车辆驾驶人减速慢行		叉形符号，表示多股铁道与道路相交

（续）

警告标志图形	含　　义	警告标志图形	含　　义
	反向弯路标志，用以警告车辆驾驶人减速慢行		斜杠符号，表示距无人看守铁路道口 50 米、100 米、150 米
	连续弯路标志，用以警告车辆驾驶人减速慢行		注意非机动车标志用以提醒车辆驾驶人注意慢行
上陡坡　下陡坡	陡坡标志，用以警告车辆驾驶人小心驾驶		注意残疾人标志，用以提醒车辆驾驶人减速慢行，注意残疾人
	连续下坡标志用以警告车辆驾驶人小心驾驶		事故易发路段标志，用以告示前方道路为事故易发路段，谨慎驾驶
两侧变窄 右侧变窄　左侧变窄	窄路标志，用以警告车辆驾驶人注意前方车行道或路面狭窄情况，遇有来车应予减速避让	慢	慢行标志，用以提醒车辆驾驶人减速慢行
	窄桥标志，用以警告车辆驾驶人注意前方桥面宽度变狭，应谨慎驾驶	左右绕行 左侧绕行　右侧绕行	注意障碍物标志，用以告示前方道路有障碍物，车辆应按标志指示减速慢行
	双向交通标志，用以提醒车辆驾驶人注意会车		注意危险标志，用以提醒车辆驾驶人谨慎驾驶
	注意行人标志，用以警告车辆驾驶人减速慢行，注意行人		施工标志，用以告示前方道路施工，车辆应减速慢行或绕道行驶
	注意儿童标志，用以警告车辆驾驶人减速慢行，注意儿童	30 km/h	建议速度标志，用以提醒车辆驾驶人以建议的速度行驶
	注意牲畜标志，用以提醒车辆驾驶人注意慢行		隧道开车灯标志，用以警告车辆驾驶人进入隧道打开前照灯，注意行驶
	注意野生动物标志，用以提醒车辆驾驶人注意慢行		注意潮汐车道标志，用以警告车辆驾驶人注意前方为潮汐车道
	注意信号灯标志，用以警告车辆驾驶人注意前方路段设有信号灯，应依信号灯指示行车		注意保持车距标志，用以警告车辆驾驶人注意和前方保持安全距离
	注意落石标志，用以提醒车辆驾驶人注意落石		注意分离式道路标志，用以警告车辆驾驶人注意前方平面交叉的被交道路是分离式道路

（续）

警告标志图形	含　义	警告标志图形	含　义
	注意横风标志，用以提醒车辆驾驶人小心驾驶		注意合流标志，用以警告车辆驾驶人注意前方有车辆汇合进来
	易滑标志，用以提醒车辆驾驶人注意慢行	避险车道	避险车道标志，用以提醒货车驾驶人注意是否使用避险车道
	傍山险路标志，用以提醒车辆驾驶人小心驾驶		注意路面结冰标志，用以警告车辆驾驶人注意路面结冰，谨慎驾驶
	堤坝路标志，用以提醒车辆驾驶人小心驾驶		注意雨（雪）天标志，用以警告车辆驾驶人注意雨（雪）天，谨慎驾驶
	村庄标志，用以提醒车辆驾驶人小心驾驶	雾	注意雾天标志，用以警告车辆驾驶人注意雾天，谨慎驾驶
	隧道标志，用以提醒车辆驾驶人注意慢行		注意不利气象条件标志，用以警告车辆驾驶人注意不利气象条件，谨慎驾驶
	渡口标志，用以提醒车辆驾驶人谨慎驾驶		注意前方车辆排队标志，用以警告车辆驾驶人注意前方车辆排队
	驼峰桥标志，用以提醒车辆驾驶人谨慎驾驶		

【相关试题】

题 34　这属于哪一种标志？

A. 警告标志

B. 指路标志

C. 指示标志

D. 禁令标志

答案：A

题 35　这个标志是何含义？

A. 十字交叉路口

B. 环行交叉路口

C. T 型交叉路口

D. Y 型交叉路口

答案：A

题 36　这个标志是何含义？

A. Y 形交叉路口

B. T 形交叉路口

C. 十字交叉路口

D. 环行交叉路口

答案：B

题 37　这个标志是何含义？

A. 向右急转弯

B. 向右绕行

C. 连续弯路

D. 向左急转弯

答案：A

题 38　这个标志是何含义？

A. 向左绕行

B. 连续弯路

C. 向左急转弯

D. 向右急转弯

答案：C

题 39　这个标志是何含义？

A. 下陡坡

B. 连续上坡

C. 上陡坡

D. 堤坝路

答案：C

题 40　这个标志是何含义？

A. 堤坝路

B. 上陡坡

C. 连续上坡

D. 下陡坡

答案：D

题 41　这个标志是何含义？

A. 连续下坡

B. 下陡坡

C. 上陡坡

D. 连续上坡

答案：A

题 42　这个标志是何含义？

A. 左侧变窄

B. 窄桥

C. 窄路

D. 右侧变窄

答案：B

题 43　这个标志是何含义？

A. 减速让行

B. 潮汐车道

C. 分离式道路

D. 双向交通

答案：D

题 44　这个标志是何含义？

A. 注意行人

B. 注意儿童

C. 学校区域

D. 人行横道

答案：A

题 45　这个标志是何含义？

A. 学校区域

B. 注意儿童

C. 人行横道

D. 注意行人

答案：B

题 46　这个标志是何含义？

A. 注意牲畜

B. 注意野生动物

C. 野生动物保护区

D. 大型畜牧场

答案：A

题 47　这个标志是何含义？

A. 注意野生动物

B. 注意牲畜

C. 动物公园

D. 开放的牧区

答案：A

题 48　这个标志是何含义？

A. 人行横道灯

B. 注意行人

C. 注意信号灯

D. 交叉路口

答案：C

题 49　这个标志是何含义？

A. 傍山险路

B. 悬崖路段

C. 注意落石

D. 危险路段

答案：C

题 50　这个标志是何含义？

A. 隧道入口

B. 气象台

C. 注意横风
D. 风向标
答案：C

题 51　这个标志是何含义？
A. 易滑路段
B. 急转弯路
C. 试车路段
D. 曲线路段

答案：A

题 52　这个标志是何含义？
A. 堤坝路
B. 傍山险路
C. 落石路
D. 临崖路

答案：B

题 53　这个标志是何含义？
A. 堤坝路　　B. 临崖路
C. 傍水路　　D. 易滑路

答案：A

题 54　这个标志是何含义？
A. 注意行人
B. 有人行横道
C. 村庄或集镇
D. 有小学校

答案：C

题 55　这个标志是何含义？
A. 水渠　　B. 桥梁
C. 隧道　　D. 涵洞

答案：C

题 56　这个标志是何含义？
A. 漫水桥
B. 渡口
C. 船用码头
D. 过水路面

答案：B

题 57　这个标志是何含义？
A. 驼峰桥
B. 路面高突
C. 路面低洼
D. 不平路面

答案：A

题 58　这个标志是何含义？
A. 路面低洼
B. 驼峰桥
C. 路面不平
D. 路面高突

答案：C

题 59　这个标志是何含义？
A. 路面不平
B. 路面高突
C. 路面低洼
D. 驼峰桥

答案：B

题 60　这个标志是何含义？
A. 路面不平
B. 路面低洼
C. 路面高突
D. 有驼峰桥

答案：B

题 61　这个标志是何含义？
A. 泥泞道路
B. 低洼路面
C. 过水路面
D. 渡口

答案：C

题 62　这个标志是何含义？
A. 有人看守铁路道口
B. 多股铁路与道路相交
C. 立交式的铁路道口
D. 无人看守铁路道口

答案：A

题 63　这个标志是何含义？

A. 注意长时鸣喇叭

B. 无人看守铁路道口

C. 有人看守铁路道口

D. 多股铁路与道路相交

答案：B

题 64　这个标志是何含义？

A. 有人看守铁路道口

B. 无人看守铁路道口

C. 多股铁路与道路相交

D. 注意避让火车

答案：C

题 65　这个标志是何含义？

A. 距无人看守铁路道口 100 米

B. 距有人看守铁路道口 100 米

C. 距无人看守铁路道口 50 米

D. 距有人看守铁路道口 50 米

答案：C

题 66　这个标志是何含义？

A. 距有人看守铁路道口 50 米

B. 距无人看守铁路道口 100 米

C. 距有人看守铁路道口 100 米

D. 距无人看守铁路道口 50 米

答案：B

题 67　这个标志是何含义？

A. 距无人看守铁路道口 150 米

B. 距无人看守铁路道口 100 米

C. 距有人看守铁路道口 100 米

D. 距有人看守铁路道口 150 米

答案：A

题 68　这个标志是何含义？

A. 非机动车道

B. 避让非机动车

C. 禁止非机动车通行

D. 注意非机动车

答案：D

题 69　这个标志是何含义？

A. 残疾人出入口

B. 注意残疾人

C. 残疾人休息处

D. 残疾人专用通道

答案：B

题 70　这个标志是何含义？

A. 事故易发路段

B. 施工路段

C. 减速慢行路段

D. 拥堵路段

答案：A

题 71　这个标志是何含义？

A. 车多路段

B. 慢行

C. 拥堵路段

D. 施工路段

答案：B

题 72　这个标志是何含义？

A. 施工路段绕行

B. 双向交通
C. 左右绕行
D. 注意危险

答案：C

题 73　这个标志是何含义？

A. 注意危险
B. 右侧绕行
C. 左侧绕行
D. 单向通行

答案：C

题 74　这个标志是何含义？

A. 右侧绕行
B. 单向通行
C. 注意危险
D. 左侧绕行

答案：A

题 75　这个标志是何含义？

A. 减速慢行
B. 注意危险
C. 拥堵路段
D. 事故多发路段

答案：B

题 76　这个标志是何含义？

A. 塌方路段
B. 施工路段
C. 前方工厂
D. 道路堵塞

答案：B

题 77　这个标志是何含义？

A. 最高速度
B. 限制速度
C. 建议速度
D. 最低速度

答案：C

题 78　这个标志是何含义？

A. 隧道减速
B. 隧道开远光灯
C. 隧道开灯
D. 隧道开示宽灯

答案：C

题 79　这个标志是何含义？

A. 注意双向行驶
B. 靠两侧行驶
C. 注意潮汐车道
D. 可变车道

答案：C

题 80　这个标志是何含义？

A. 两侧变窄路段
B. 车速测试路段
C. 车距确认路段
D. 注意保持车距

答案：D

题 81　这个标志是何含义？

A. 平面交叉路口
B. 环行平面交叉
C. 注意交互式道路
D. 注意分离式道路

答案：D

题 82　这个标志是何含义？

A. Y 形交叉口
B. 主路让行
C. 注意分流
D. 注意合流

答案：D

题 83　这个标志是何含义？

A. 避险车道
B. 应急车道
C. 路肩
D. 急弯道

答案：A

题 84　这个标志是何含义？

A. 提醒车辆驾驶人前方有两个及以上的连续上坡路段

B. 提醒车辆驾驶人前方有向上的陡坡路段

C. 提醒车辆驾驶人前方有向下的陡坡路段

D. 提醒车辆驾驶人前方有两个及以上的连续下坡路段

答案：D

题 85　这个标志是何含义？

A. 提醒车辆驾驶人前方道路沿水库、湖泊、河流

B. 提醒车辆驾驶人前方有向上的陡坡路段

C. 提醒车辆驾驶人前方有向下的陡坡路段

D. 提醒车辆驾驶人前方有两个及以上的连续上坡路段

答案：C

题 86　这个标志是何含义？

A. 提醒车辆驾驶人前方道路沿水库、湖泊、河流

B. 提醒车辆驾驶人前方有向上的陡坡路段

C. 提醒车辆驾驶人前方有两个及以上的连续上坡路段

D. 提醒车辆驾驶人前方有向下的陡坡路段

答案：B

题 87　这是什么交通标志？

A. 两侧变窄

B. 右侧变窄

C. 左侧变窄

D. 桥面变窄

答案：C

题 88　这是什么交通标志？

A. 两侧变窄

B. 右侧变窄

C. 左侧变窄

D. 桥面变窄

答案：B

题 89　这是什么交通标志？

A. 两侧变窄

B. 右侧变窄

C. 左侧变窄

D. 桥面变窄

答案：A

题 90　这是什么交通标志？

A. 易滑路段

B. 急转弯路

C. 反向弯路

D. 连续弯路

答案：D

题 91　这是什么交通标志？

A. 易滑路段

B. 急转弯路

C. 反向弯路

D. 连续弯路

答案：C

题 92　这个标志的含义是告示前方是塌方路段，车辆应绕道行驶。

答案：×

解析：此标志用以告示前方道路施工，与“塌方”没有关系。

题 93　这个标志的含义是告示前方道路是单向通行路段。

答案：×

解析：此标志用以告示前方道路有障碍物，车辆应从右侧绕行，而不是“单向通行路段”。

题 94　这个标志的含义是告示前方道路有障碍物，车辆左侧绕行。

答案：√

题 95　这个标志的含义是告示前方道路施工，车辆左右绕行。

答案：×

解析：此标志用以告示前方道路有障碍物，而不是“前方道路施工”。

题 96　这个标志的含义是告示前方是拥堵路段，注意减速慢行。

答案：×

解析：此标志用以告示前方道路为事故易发路段，而不是“拥堵路段”。

题 97　这个标志的含义是提醒车辆驾驶人前方是非机动车道。

答案：×

解析：此标志是提醒“注意非机动车”，而不是“非机动车道”。

题 98　这个标志的含义是提醒车辆驾驶人前方是无人看守铁路道口。

答案：√

题 99　这个标志的含义是提醒车辆驾驶人前方是无人看守铁路道口。

答案：×

解析：此标志是提醒前方是有人看守铁路道口，而不是“无人看守”。

题 100　这个标志的含义是提醒车辆驾驶人前方是过水路面或漫水桥路段。

答案：√

题 101　这个标志的含义是提醒车辆驾驶人前方路面颠簸或有桥头跳车现象。

答案：√

题 102　这个标志的含义是提醒车辆驾驶人前方是桥头跳车较严重的路段。

答案：×

解析：此标志是提醒前方是拱度很大，影响视距的驼峰桥。

题 103　这个标志的含义是提醒车辆驾驶人前方是车辆渡口。

答案：√

题 104　这个标志的含义是提醒车辆驾驶人前方是单向行驶并且照明不好的涵洞。

答案：×

解析：此标志是提醒前方是双向行驶并且照明不好的隧道，而不是“单向行驶的涵洞”。

题 105　这个标志的含义是提醒车辆驾驶人前方路段通过村庄或集镇。

答案：√

题 106　这个标志的含义是提醒车辆驾驶人前方是堤坝路段。

答案：×

解析：此标志是提醒前方是傍山险路路段，而不是“堤坝路段”。

题 107　这个标志的含义是提醒车辆驾驶人前方是急转弯路段。

答案：×

解析：此标志是提醒前方是道路易滑、容易发生事故的路段，而不是“急转弯路段”。

题 108　这个标志的含义是提醒车辆驾驶人前方有很强的侧向风。

答案：√

题 109　这个标志的含义是提醒车辆驾驶人前方是傍山险路路段。

答案：×

解析：此标志是提醒前方是有落石危险的傍山路段，而不是“傍山险路路段”。

题 110　这个标志的含义是警告车辆驾驶人注意前方设有信号灯。

答案：√

题 111　这个标志的含义是警告车辆驾驶人前方是学校区域。

答案：×

解析：此标志是提醒前方是儿童经常出入的地点，应减速慢行，注意儿童，而不是“学校区域”。

题 112　这个标志的含义是警告车辆驾驶人前方是人行横道。

答案：×

解析：此标志是提醒注意行人，而不是“人行横道”。

题 113　这个标志的含义是提醒前方道路变为不分离双向行驶路段。

答案：√

题 114　这个标志的含义是提醒前方两侧行车道或路面变窄。

答案：×

解析：此标志是提醒前方桥面宽度变窄，而不是“两侧行车道或路面变窄”。

题 115　这个标志的含义是提醒前方左侧行车道或路面变窄。

答案：√

题 116　这个标志的含义是提醒前方右侧行车道或路面变窄。

答案：√

题 117　这个标志的含义是提醒前方桥面宽度变窄。

答案：×

解析：此标志是提醒前方车行道或路面两侧变窄，而不是“桥面宽度变窄”。

题 118　这个标志的含义是警告前方有两个相邻的反向转弯道路。

答案：×

解析：此标志是警告前方为连续弯路，而不是“反向转弯道路”。

题 119　这个标志的含义是警告前方道路易滑，注意慢行。

答案：×

解析：此标志是警告前方为反向弯路，而不是“道路易滑”。

题 120　这个标志的含义是警告前方出现向左的急转弯路。

答案：√

题 121　这个标志的含义是警告前方道路有障碍物，车辆减速绕行。

答案：×

解析：此标志是警告前方为向右急弯路，而不是“道路有障碍物”。

题 122　这个标志的含义是前方即将行驶至 Y 形交叉路口？

答案：×

解析：此标志的含义是前方即将行驶至 T 形交叉路口，而不是“Y 形”。

题 123　这个标志的作用是用以警告车辆驾驶人谨慎慢行，注意横向来车。

答案：√

题 124　这种标志的作用是警告车辆驾驶人前方有危险，谨慎通行。

答案：√

2. 禁令标志

【考点归纳】禁令标志表示禁止、限制及相应解除的含义，道路使用者应严格遵守。该标志的形状为圆形，但“停车让行标志”为八角形，“减速让行标志”为顶角向下的倒等边三角形。其颜色除个别标志外，为白底、红圈、红杠、黑图形，图形压杠。禁令标志的图形与含义见表 2-2-3。

表 2-2-3　禁令标志的图形与含义

禁令标志图形	含　义	禁令标志图形	含　义
	停车让行标志，表示车辆应在停止线前停车瞭望，确认安全后，方可通行		禁止向左向右转弯标志，表示前方路口禁止一切车辆向左向右转弯
	减速让行标志，表示车辆应减速让行，告示车辆驾驶人应慢行或停车，观察干道行车情况，在确保干道车辆优先，确保安全的前提下，方可进入路口		禁止直行和向左转弯标志，表示前方路口禁止一切车辆直行和向左转弯
	会车让行标志，表示车辆会车时，应停车让对方车先行		禁止直行和向右转弯标志，表示前方路口禁止一切车辆直行和向右转弯

（续）

禁令标志图形	含　　义	禁令标志图形	含　　义
	禁止通行标志，表示禁止一切车辆和行人通行		禁止掉头标志，表示禁止机动车掉头
	禁止驶入标志，表示禁止一切车辆驶入		禁止超车标志，表示该标志至前方解除禁止超车标志的路段内，不允许机动车超车
	禁止机动车驶入标志，表示禁止各类机动车驶入		解除禁止超车标志，表示禁止超车路段结束
	禁止载货汽车驶入标志，表示禁止载货汽车驶入		禁止停车标志，表示在限定的范围内，禁止一切车辆停、放
	禁止电动三轮车驶入标志，表示禁止电动三轮车驶入		禁止长时停车标志，表示在限定的范围内，禁止一切车辆长时停、放，临时停车不受限制
	禁止大型客车驶入标志，表示禁止大型客车驶入		禁止鸣喇叭标志，表示禁止车辆鸣喇叭
	禁止小型客车驶入标志，表示禁止小型客车驶入	3m	限制宽度标志，表示禁止装载宽度超过标志所示数值的车辆通行
	禁止挂车、半挂车驶入标志，表示禁止挂车、半挂车驶入	3.5m	限制高度标志，表示禁止装载高度超过标志所示数值的车辆通行
	禁止拖拉机驶入标志，表示禁止拖拉机驶入	10t	限制质量标志，表示禁止总质量超过标志所示数值的车辆通行
	禁止三轮汽车、低速货车驶入标志，表示禁止三轮汽车、低速货车驶入	10t	限制轴重标志，表示禁止轴重超过标志所示数值的车辆通行
	禁止摩托车驶入标志，表示禁止摩托车驶入	40	限制速度标志，表示该标志至前方解除限制速度标志或另一块不同限速值的限制速度标志的路段内，机动车行驶速度（单位为公里/小时）不准超过标志所示数值
	禁止某两种车辆驶入标志，表示禁止标志所示的两种车辆驶入	40	解除限制速度标志，表示限制速度路段结束
	禁止非机动车进入标志，表示禁止各类非机动车进入	检查	停车检查标志，表示机动车应停车接受检查
	禁止畜力车进入标志，表示禁止畜力车进入		禁止运输危险物品车辆驶入标志，表示禁止运输危险物品车辆驶入
	禁止人力三轮车进入标志，表示禁止人力三轮车进入	海关 DOUANE	海关标志，表示道路前方是海关，所有机动车应停车后方可通过

（续）

禁令标志图形	含　义	禁令标志图形	含　义
	禁止客、货三轮车进入标志，表示禁止客、货三轮车进入	30 区域	区域限制速度标志，表示区域内禁止车辆速度超过标志所示数值
	禁止人力车进入标志，表示禁止人力车进入	30 区域	解除区域限制速度标志，表示区域限制速度路段结束
	禁止行人进入标志，表示禁止行人进入	区域	区域禁止长时停车标志，表示区域内禁止长时停车
	禁止向左转弯标志，表示前方路口禁止一切车辆向左转弯	区域	区域禁止长时停车解除标志，表示区域内禁止长时停车解除
	禁止向右转弯标志，表示前方路口禁止一切车辆向右转弯	区域	区域禁止停车标志，表示区域内禁止停车
	禁止直行标志，表示前方路口禁止一切车辆直线行驶	区域	区域禁止停车解除标志，表示区域内禁止停车解除

【相关试题】

题 125　禁令标志的作用是什么？

A. 指示车辆行进

B. 警告前方危险

C. 禁止或限制行为

D. 告知方向信息

答案：C

题 126　这属于哪一种标志？

A. 警告标志

B. 禁令标志

C. 指示标志

D. 指路标志

答案：B

题 127　这个标志是何含义？

A. 停车让行

B. 不准临时停车

C. 不准车辆驶入

D. 不准长时间停车

答案：A

题 128　这个标志是何含义？

A. 不准让行

B. 会车让行

C. 减速让行

D. 停车让行

答案：C

题 129　这个标志是何含义？

A. 会车时停车让右侧车先行

B. 右侧道路禁止车通行

C. 前方是双向通行路段

D. 会车时停车让对方车先行

答案：D

题 130　这个标志是何含义？

A. 禁止通行

B. 减速行驶

C. 限时进入

D. 禁止驶入

答案：A

题 131　这个标志提示哪种车型禁止通行？

A. 各种车辆

B. 小型客车
C. 中型客车
D. 小型货车

答案：B

题 132　这个标志是何含义？

A. 禁止车辆掉头
B. 禁止向左变道
C. 禁止向左转弯
D. 禁止驶入左车道

答案：C

题 133　这个标志是何含义？

A. 禁止驶入路口
B. 禁止向右转弯
C. 禁止变更车道
D. 禁止车辆掉头

答案：B

题 134　这个标志是何含义？

A. 禁止向右转弯
B. 禁止掉头
C. 禁止直行
D. 禁止向左转弯

答案：C

题 135　这个标志是何含义？

A. 禁止在路口掉头
B. 禁止向左向右变道
C. 禁止向左向右转弯
D. 禁止车辆直行

答案：C

题 136　这个标志是何含义？

A. 禁止直行和向左变道
B. 禁止直行和向左转弯
C. 允许直行和向左变道
D. 禁止直行和向右转弯

答案：B

题 137　这个标志是何含义？

A. 禁止直行和向左变道
B. 禁止直行和向左转弯
C. 允许直行和向左变道
D. 禁止直行和向右转弯

答案：D

题 138　这个标志是何含义？

A. 禁止变道
B. 禁止左转
C. 禁止直行
D. 禁止掉头

答案：D

题 139　这个标志是何含义？

A. 禁止借道
B. 禁止变道
C. 禁止超车
D. 禁止掉头

答案：C

题 140　这个标志是何含义？

A. 解除禁止超车
B. 准许变道行驶
C. 解除禁止变道
D. 解除禁止借道

答案：A

题 141　这个标志是何含义？

A. 允许临时停车
B. 允许长时停车
C. 禁止长时停车
D. 禁止停放车辆

答案：D

题 142　这个标志是何含义？

A. 禁止临时停车
B. 禁止长时停车
C. 禁止停放车辆
D. 允许长时停车

答案：B

题 143　这个标志是何含义？

A. 禁止长时鸣喇叭

B. 断续鸣喇叭

C. 减速鸣喇叭

D. 禁止鸣喇叭

答案：D

题 144　这个标志是何含义？

A. 预告宽度为 3 米

B. 限制宽度为 3 米

C. 解除 3 米限宽

D. 限制高度为 3 米

答案：B

题 145　这个标志是何含义？

A. 限制宽度为 3. 5 米

B. 解除 3. 5 米限高

C. 限制车距为 3. 5 米

D. 限制高度为 3. 5 米

答案：D

题 146　这个标志是何含义？

A. 前方 40 米减速

B. 最低时速 40 公里

C. 限制 40 吨轴重

D. 限制最高时速 40 公里

答案：D

题 147　这个标志是何含义？

A. 40 米减速行驶路段

B. 最低时速 40 公里

C. 最高时速 40 公里

D. 解除时速 40 公里限制

答案：D

题 148　这个标志是何含义？

A. 海关检查

B. 停车检查

C. 边防检查

D. 禁止通行

答案：B

题 149　这个标志是何含义？

A. 国界　　B. 边防

C. 边界　　D. 海关

答案：D

题 150　这个标志的含义是表示车辆会车时，对方车辆应停车让行。

答案：×

解析：此标志的含义是“会车让行”，表示车辆会车时，应让对方车先行。答题技巧：看线条粗细，谁粗谁先行。

题 151　这个标志的含义是告示车辆驾驶人应慢行或停车，确保干道车辆优先。

答案：√

3. 指示标志

【考点归纳】指示标志表示指示车辆、行人行进的含义，道路使用者应遵循。该标志的形状有圆形、长方形和正方形三种。其颜色除个别标志外，为蓝底、白图形。指示标志的图形与含义见表 2-2-4。

表 2-2-4　指示标志的图形与含义

指示标志图形	含　　义	指示标志图形	含　　义
	直行标志，表示一切车辆只准直行		会车先行标志，表示车辆在会车时享有优先通行权利
	向左转弯标志，表示一切车辆只准向左转弯		人行横道标志，表示该处为人行横道
	向右转弯标志，表示一切车辆只准向右转弯		右转车道标志，表示车道的行驶方向是右转
	直行和向左转弯标志，表示一切车辆只准直行和向左转弯		左转车道标志，表示车道的行驶方向是左转
	直行和向右转弯标志，表示一切车辆只准直行和向右转弯		直行车道标志，表示车道的行驶方向是直行
	向左和向右转弯标志，表示一切车辆只准向左和向右转弯		直行和右转合用车道标志，表示车道的行驶方向是直行和右转
	靠右侧道路行驶标志，表示一切车辆只准靠右侧道路行驶		直行和左转合用车道标志，表示车道的行驶方向是直行和左转
	靠左侧道路行驶标志，表示一切车辆只准靠左侧道路行驶		掉头车道标志，表示车道的行驶方向是掉头
	立体交叉行驶路线标志，表示车辆在立体交叉处可以直行和按图示路线左转弯行驶		掉头和左转合用车道标志，表示车道的行驶方向是掉头和左转
	立体交叉行驶路线标志，表示车辆在立体交叉处可以直行和右转弯行驶		分向行驶车道标志，表示车道的行驶方向是分向
	环岛行驶标志，表示一切车辆只准靠右环行		公交线路专用车道标志，表示该车道专供本线路行驶的公交车辆行驶
	向左单行路标志，表示该道路为单向左行，已进入车辆应向左行		机动车行驶标志，表示该道路只供机动车行驶
	向右单行路标志，表示该道路为单向右行，已进入车辆应向右行		机动车车道标志，表示该车道只供机动车行驶
	直行单行路标志，表示该道路为单向直行，已进入车辆应直行		非机动车车道标志，表示该车道只供非机动车行驶
	步行标志，表示该段道路只供步行，任何车辆不准进入		快速公交系统（BRT）专用车道标志，表示该车道专供 BRT 车辆行驶

（续）

指示标志图形	含　义	指示标志图形	含　义
	鸣喇叭标志，表示机动车行至该标志处应鸣喇叭，以提醒对向车辆驾驶人注意并减速慢行		多乘员车辆（HOV）专用车道标志，表示该车道只供多乘员的车辆行驶
50	最低限速标志，表示机动车驶入前方道路的最低时速限速	P	停车位标志表示机动车允许停放的区域
	路口优先通行标志，表示交叉口主要道路上车辆享有优先通行权利		允许掉头标志，表示该处允许机动车掉头

【相关试题】

题 152　指示标志的作用是什么？

A. 告知方向信息

B. 警告前方危险

C. 限制车辆、行人通行

D. 指示车辆、行人行进

答案：D

题 153　这属于哪一种标志？

A. 警告标志

B. 禁令标志

C. 指示标志

D. 指路标志

答案：C

题 154　这个标志是何含义？

A. 直行车道

B. 只准直行

C. 单行路

D. 禁止直行

答案：B

题 155　这个标志是何含义？

A. 向左转弯

B. 禁止直行

C. 直行车道

D. 单行路

答案：A

题 156　这个标志是何含义？

A. 向右转弯

B. 单行路

C. 只准直行

D. 直行车道

答案：A

题 157　这个标志是何含义？

A. 直行和向左转弯

B. 直行和向右转弯

C. 禁止直行和向右转弯

D. 只准向左和向右转弯

答案：B

题 158　这个标志是何含义？

A. 直行和向右转弯

B. 直行和向左转弯

C. 禁止直行和向左转弯

D. 只准向右和向左转弯

答案：B

题 159　这个标志是何含义？

A. 禁止向左转弯

B. 向左和向右转弯

C. 禁止向左右转弯

D. 禁止向右转弯

答案：B

题 160　这个标志是何含义？

A. 右侧是下坡路段
B. 靠右侧道路行驶
C. 靠道路右侧停车
D. 只准向右转弯

答案：B

题 161　这个标志是何含义？

A. 靠道路左侧停车
B. 左侧是下坡路段
C. 只准向左转弯
D. 靠左侧道路行驶

答案：D

题 162　这个标志是何含义？

A. 立体交叉直行和左转弯行驶
B. 立体交叉直行和右转弯行驶
C. 直行和左转弯行驶
D. 直行和右转弯行驶

答案：A

题 163　这个标志是何含义？

A. 直行和左转弯行驶
B. 直行和右转弯行驶
C. 立体交叉直行和右转弯行驶
D. 立体交叉直行和左转弯行驶

答案：C

题 164　这个标志是何含义？

A. 右侧通行
B. 左侧通行
C. 向右行驶
D. 环岛行驶

答案：D

题 165　这个标志是何含义？

A. 左转让行
B. 直行单行路
C. 向右单行路
D. 向左单行路

答案：D

题 166　这个标志是何含义？

A. 向左单行路
B. 向右单行路
C. 直行单行路
D. 右转让行

答案：B

题 167　这个标志是何含义？

A. 靠右侧行驶
B. 不允许直行
C. 直行单行路
D. 直行车让行

答案：C

题 168　这个标志是何含义？

A. 低速行驶
B. 注意行人
C. 步行
D. 行人先行

答案：C

题 169　这个标志是何含义？

A. 禁止鸣高音喇叭
B. 禁止鸣低音喇叭
C. 应当鸣喇叭
D. 禁止鸣喇叭

答案：C

题 170　这个标志是何含义？

A. 人行横道
B. 学生通道
C. 注意行人
D. 儿童通道

答案：A

题 171　这个标志是何含义？

A. 最低限速 50 公里 / 小时
B. 高度限速 50 公里 / 小时
C. 水平高度 50 米
D. 海拔高度 50 米

答案：A

题 172　这个标志是何含义？

A. 两侧街道

B. 干路先行

C. 停车让行

D. 单行路

答案：B

题 173　这个标志是何含义？

A. 停车让行

B. 单行路

C. 会车先行

D. 对向先行

答案：C

题 174　这个标志是何含义？

A. 右转车道

B. 掉头车道

C. 左转车道

D. 分向车道

答案：A

题 175　这个标志是何含义？

A. 右转车道

B. 掉头车道

C. 左转车道

D. 分向车道

答案：C

题 176　这个标志是何含义？

A. 右转车道

B. 掉头车道

C. 左转车道

D. 直行车道

答案：D

题 177　这个标志是何含义？

A. 直行和左转车道

B. 直行和辅路出口车道

C. 直行和右转合用车道

D. 分向行驶车道

答案：C

题 178　这个标志是何含义？

A. 直行和掉头合用车道

B. 直行和左转合用车道

C. 直行和右转车道

D. 分向行驶车道

答案：B

题 179　这个标志是何含义？

A. 掉头车道

B. 绕行车道

C. 分向车道

D. 左转车道

答案：A

题 180　这个标志是何含义？

A. 分向行驶车道

B. 掉头和左转合用车道

C. 禁止左转和掉头车道

D. 直行和左转合用车道

答案：B

题 181　这个标志是何含义？

A. 左转行驶车道

B. 直线行驶车道

C. 右转行驶车道

D. 分向行驶车道

答案：D

题 182　这个标志是何含义？

A. 大型客车专用车道

B. 公交线路专用车道

C. 快速公交系统专用车道

D. 多乘员车辆专用车道

答案：B

题 183　这个标志是何含义？

A. 不准小型车通行

B. 只准小型车行驶

C. 机动车行驶
D. 禁止小型车行驶
答案：C

题 184　这个标志是何含义？
A. 小型车车道
B. 小型车专用车道
C. 多乘员车辆专用车道
D. 机动车车道

答案：D

题 185　这个标志是何含义？
A. 电动自行车行驶
B. 非机动车停车位
C. 非机动车停放区
D. 非机动车行驶

答案：D

题 186　这个标志是何含义？
A. 禁止自行车通行车道
B. 非机动车车道
C. 自行车专用车道

D. 停放自行车路段
答案：B

题 187　这个标志是何含义？
A. 大型客车专用车道
B. 多乘员车专用车道
C. 公交车专用车道
D. BRT 车辆专用车道

答案：D

题 188　这个标志是何含义？
A. 小型汽车专用车道
B. 机动车专用车道
C. 出租汽车专用车道
D. 多乘员车辆专用车道

答案：D

题 189　这个标志是何含义？
A. 掉头　　B. 倒车
C. 左转　　D. 绕行

答案：A

4. 一般道路指路标志

【考点归纳】一般道路指路标志的图形与含义见表 2-2-5。

表 2-2-5　一般道路指路标志的图形与含义

指路标志图形	含　义	指路标志图形	含　义
	四车道及以上公路交叉路口预告标志，用以预告前方交叉路口信息		错车道标志，用以指示前方设有避让来车的处所
	大交通量的四车道及以上公路交叉路口预告标志，用以预告前方交叉路口信息		观景台标志，设置在路侧可供驾驶人停车观景地带的两侧
	十字交叉路口告知标志，用以告知前方十字交叉路口信息		应急避难设施（场所）标志，设置在应急避难场所、隧道等设施的疏散通道以及其他应急避难设施附近
	丁字交叉路口告知标志，用以告知前方丁字交叉路口信息		休息区标志，一般设置在路侧休息区的两侧
	Y 形交叉路口告知标志，用以告知前方 Y 形交叉路口信息		绕行标志，用以指示前方路口车辆需绕行的路线

（续）

指路标志图形	含　义	指路标志图形	含　义
	互通式立体交叉告知标志，用以告知前方互通式立体交叉信息		此路不通标志，用以指示前方道路无出口，不能通行
	环形交叉路口告知标志，用以告知前方环形交叉路口信息		车道数变少标志，用以表示前方车道数量变少，需提高警惕
	国道编号标志，用以指示国道编号		车道数增加标志，用以提示车辆驾驶人车道数量增加，需要谨慎驾驶
	省道编号标志，用以指示省道编号		交通监控设备标志，设在设置了图像采集等交通监控设备的路段适当位置
	县道编号标志，用以指示县道编号		隧道出口距离预告标志，用以指示到前方隧道出口的距离
	乡道编号标志，用以指示乡道编号		线形诱导标志，用以引导行车方向，提示道路使用者前方线形变化，注意谨慎驾驶
	地点距离标志，用以指示前方所要经过的重要公路编号、道路名、地名和距离		线形诱导（两侧通行）标志，用以引导行车方向，提示道路使用者前方线形变化，注意谨慎驾驶
	露天停车场标志，设在露天停车场入口附近		线形诱导（右侧通行）标志，用以引导行车方向，提示道路使用者前方线形变化，注意谨慎驾驶
	室内停车场标志，设在室内停车场入口附近		线形诱导（左侧通行）标志，用以引导行车方向，提示道路使用者前方线形变化，注意谨慎驾驶

【相关试题】

题 190　这属于哪一类标志？

A. 指路标志

B. 指示标志

C. 禁令标志

D. 警告标志

答案：A

题 191　指路标志的作用是什么？

A. 限制车辆通行

B. 提示限速信息

C. 提供方向信息

D. 警告前方危险

答案：C

题 192　这个标志是何含义？

A. 车道方向预告

B. 交叉路口预告

C. 分道信息预告

D. 分岔处预告

答案：B

题 193　这个标志是何含义？

A. 分道信息预告
B. 道路分岔处预告
C. 地点和距离预告
D. 十字交叉路口预告

答案：D

题 194　这个标志是何含义？

A. 丁字交叉路口预告
B. 道路分叉处预告
C. Y 形交叉路口预告
D. 十字交叉路口预告

答案：A

题 195　这个标志是何含义？

A. 环行交叉路口预告
B. 十字交叉路口预告
C. Y 形交叉路口预告
D. 丁字交叉路口预告

答案：C

题 196　这个标志是何含义？

A. 十字交叉路口预告
B. 互通立体交叉预告
C. Y 形交叉路口预告
D. 环行交叉路口预告

答案：D

题 197　这个标志是何含义？

A. 十字交叉路口预告
B. 互通式立体交叉预告
C. Y 形交叉路口预告
D. 环行交叉路口预告

答案：B

题 198　这个标志是何含义？

A. 乡道编号
B. 县道编号
C. 省道编号
D. 国道编号

答案：D

题 199　这个标志是何含义？

A. 省道编号
B. 国道编号
C. 县道编号
D. 乡道编号

答案：A

题 200　这个标志是何含义？

A. 省道编号
B. 国道编号
C. 县道编号
D. 乡道编号

答案：C

题 201　这个标志是何含义？

A. 省道编号
B. 县道编号
C. 乡道编号
D. 国道编号

答案：C

题 202　这个标志是何含义？

A. 地点距离
B. 行驶路线
C. 终点地名
D. 行驶方向

答案：A

题 203　这个标志是何含义？

A. 内部停车场
B. 专用停车场
C. 露天停车场

D. 室内停车场

答案：C

题 204　这个标志是何含义？

A. 专用停车场

B. 露天停车场

C. 室内停车场

D. 内部停车场

答案：C

题 205　这个标志是何含义？

A. 露天停车场

B. 紧急停车带

C. 停车位

D. 错车道

答案：D

题 206　这个标志是何含义？

A. 观景台

B. 停车场

C. 休息区

D. 停车位

答案：A

题 207　这个标志是何含义？

A. 应急避难场所

B. 生活服务区

C. 行人专用通道

D. 横过道路设施

答案：A

题 208　这个标志是何含义？

A. 休息区

B. 服务区

C. 停车场

D. 观景台

答案：A

题 209　这个标志是何含义？

A. 禁止左转

B. 此路不通

C. 禁止通行

D. 绕行

答案：D

题 210　这个标志是何含义？

A. T 型路口

B. 分流路口

C. 减速通行

D. 此路不通

答案：D

题 211　这个标志是何含义？

A. 车道数变少

B. 合流处

C. 应急车道

D. 向左变道

答案：A

题 212　这个标志是何含义？

A. 向右变道

B. 分流处

C. 路面变宽

D. 车道数增加

答案：D

题 213　这个标志是何含义？

A. 道路流量监测

B. 减速拍照区

C. 全路段抓拍

D. 交通监控设备

答案：D

题 214　这个标志是何含义？

A. 隧道出口距离

B. 隧道入口距离

C. 隧道跟车距离

D. 隧道总长度

答案：A

题 215　这个标志是何含义？

A. 线形诱导标志

B. 合流诱导标志
C. 分流诱导标志
D. 转弯诱导标志

答案：A

题 216　这个标志是何含义？

A. 两侧通行
B. 不准通行
C. 左侧通行
D. 右侧通行

答案：A

题 217　这个标志是何含义？

A. 两侧通行
B. 右侧通行
C. 左侧通行
D. 不准通行

答案：B

题 218　这个标志是何含义？

A. 两侧通行
B. 右侧通行
C. 左侧通行
D. 不准通行

答案：C

题 219　这个标志的含义是指示此处设有室内停车场。

答案：√

题 220　这个标志的含义是指示此处设有室内停车场。

答案：×

解析：此标志是指示此处设有露天停车场，而不是“室内停车场”。

5. 高速公路、城市快速路指路标志

【考点归纳】高速公路、城市快速路指路标志的图形与含义见表 2-2-6。

表 2-2-6　高速公路、城市快速路指路标志的图形与含义

指路标志图形	含　义	指路标志图形	含　义
	入口预告标志，用以指示进入高速公路或城市快速路的入口		紧急电话标志，用以提示高速公路紧急电话的位置
	地点、方向标志，用以指示进入高速公路或城市快速路两个行驶方向		救援电话标志，用以指示救援电话号码
	编号标志，用以指示高速公路的编号，作为指路标志的路线信息		不设电子不停车收费（ETC）车道的收费站预告标志，用以预告前方收费站
	命名编号标志，用以指示高速公路的名称与编号		不设电子不停车收费（ETC）车道的收费站标志，用以指示前方收费站
	路名标志，用以指示高速公路或城市快速路的名称		设有电子不停车收费（ETC）车道的收费站预告标志，用以预告前方 ETC 收费站

（续）

指路标志图形	含　义	指路标志图形	含　义
璜塘 8km G42 17km 上海 25km	地点距离标志，用以预告高速公路或城市快速路前方所要经过的重要的地点、道路的名称和距离	ETC 收费站	设有电子不停车收费（ETC）车道的收费站标志，用以指示前方ETC收费站
下一出口 南京路 4km	出口预告标志，预告下一出口的信息和距离	ETC	ETC 车道指示标志，用以指示电子不停车收费车道
出口 48 G324 云霄 常山	右侧出口预告标志，用以预告前方出口	计重收费	计重收费标志，用以指示计重收费的位置
左出口 32 前进路 G206 G8	左侧出口预告标志，用以预告前方左侧出口		加油站标志，用以指示加油站的位置
出口 98 婺源	出口标志，用以指示高速公路或城市快速路出口		紧急停车带标志，用以指示紧急停车的位置
G15	起点标志，用以指示高速公路或城市快速路起点	P 天目湖	服务区预告标志，用以预告服务区的位置
G15 2km	终点预告标志，用以预告高速公路或城市快速路终点	P 浪网	停车区预告标志，用以预告停车区的位置
G15	终点标志，用以指示高速公路或城市快速路终点	60km/h	特殊天气建议速度标志，用以提醒驾驶人在雨、雪、雾等特殊天气下，以建议速度行驶
1620 kHz 道路交通信息	交通信息标志，用以指示高速公路或城市快速路交通信息广播的频率	爬坡车道	爬坡车道标志，用以指示前方最右侧车道是大型重载车辆爬坡专用的车道
停车领卡	停车领卡标志，用以提示停车领卡	超限超载检测站	超限检测站标志，用以预告超限检测站

【相关试题】

题 221　这个标志是何含义？

A. 高速公路入口预告

B. 高速公路终点预告

C. 高速公路起点预告

D. 高速公路出口预告

答案：A

题 222　这个标志是何含义？

A. 高速公路右侧出口预告

B. 高速公路下一出口预告

C. 高速公路地点、方向预告

D. 高速公路左侧出口预告

答案：C

题 223　这个标志是何含义？

A. 高速公路终点地名预告
B. 高速公路行驶路线预告
C. 高速公路行驶方向预告
D. 高速公路地点距离预告

答案：D

题 224　这个标志是何含义？

A. 高速公路里程编号
B. 高速公路界牌编号
C. 高速公路命名编号
D. 高速公路路段编号

答案：C

题 225　这个标志是何含义？

A. 高速公路左侧出口预告
B. 高速公路目的地预告
C. 高速公路右侧出口预告
D. 高速公路下一出口预告

答案：D

题 226　这个标志是何含义？

A. 高速公路右侧出口预告
B. 高速公路目的地预告
C. 高速公路左侧出口预告
D. 高速公路下一出口预告

答案：A

题 227　这个标志是何含义？

A. 高速公路下一出口预告
B. 高速公路右侧出口预告
C. 高速公路左侧出口预告
D. 高速公路目的地预告

答案：C

题 228　这个标志是何含义？

A. 高速公路出口
B. 高速公路起点
C. 高速公路入口
D. 高速公路终点

答案：B

题 229　这个标志是何含义？

A. 高速公路出口预告
B. 高速公路入口预告
C. 高速公路终点预告
D. 高速公路起点预告

答案：C

题 230　这个标志是何含义？

A. 高速公路救援电话号码
B. 高速公路服务电话号码
C. 高速公路报警电话号码
D. 高速公路交通广播频率

答案：D

题 231　这个标志是何含义？

A. 停车领卡
B. 停车缴费
C. ETC 通道

D. 停车检查

答案：A

题 232　这个标志是何含义？

A. 高速公路收费处
B. 高速公路检查站
C. 设有 ETC 的收费站
D. 高速公路领卡处

答案：C

题 233　这个标志是何含义？

A. 高速公路缴费车道
B. 高速公路检查车道
C. 高速公路领卡车道
D. 高速公路 ETC 车道

答案：D

题 234　这个标志是何含义？

A. 高速公路特殊天气建议速度
B. 高速公路特殊天气最低速度
C. 高速公路特殊天气平均速度
D. 高速公路特殊天气最高速度

答案：A

题 235　这个标志是何含义？

A. 高速公路公用电话
B. 高速公路报警电话
C. 高速公路紧急电话
D. 高速公路救援电话

答案：C

题 236　这个标志是何含义？

A. 高速公路报警电话
B. 高速公路公用电话
C. 高速公路紧急电话
D. 高速公路救援电话

答案：D

题 237　这个标志是何含义？

A. 高速公路紧急停车带
B. 高速公路避让处所
C. 高速公路客车站
D. 高速公路停车区

答案：A

题 238　这个标志是何含义？

A. 高速公路客车站
B. 高速公路休息区
C. 高速公路加油站
D. 高速公路服务区

答案：C

题 239　这个标志是何含义？

A. 高速公路客车站预告
B. 高速公路避险处预告
C. 高速公路服务区预告
D. 高速公路收费站预告

答案：C

题 240　这个标志是何含义？

A. 高速公路停车区预告
B. 高速公路避险处预告
C. 高速公路停车场预告
D. 高速公路服务区预告

答案：A

题 241　这个标志预告什么？

A. 高速公路服务区预告
B. 高速公路避险处预告
C. 高速公路客车站预告
D. 高速公路停车场预告

答案：D

6. 旅游区标志

【考点归纳】旅游区标志是为吸引和指引人们从高速公路或其他道路上前往邻近的旅游区，在通往旅游景点的路口设置的标志，使旅游者能方便地识别通往旅游区的方向和距离，了解旅游项目的类别。该标志的形状为矩形。其颜色为棕底、白字（图形）、白边框、棕色衬边。旅游区标志的图形与含义见表 2-2-7。

表 2-2-7　旅游区标志的图形与含义

图　形	含　义	图　形	含　义	图　形	含　义
	旅游区距离		野营地		潜水
	旅游区方向		营火		游泳
			游戏场		划船
	问讯处		骑马		冬季游览区
	徒步		钓鱼		滑雪
	索道		高尔夫球		滑冰

【相关试题】

题 242　这属于哪一类标志？

A. 作业区标志
B. 告示标志
C. 高速公路标志
D. 旅游区标志

答案：D

题 243　这个标志是何含义？

A. 旅游区距离
B. 旅游区方向
C. 旅游区符号
D. 旅游区类别

答案：A

题 244　这个标志是何含义？

A. 旅游区距离
B. 旅游区类别
C. 旅游区方向
D. 旅游区符号

答案：C

（三）交通标线

道路交通标线是由施划或安装于道路上的各种线条、箭头、文字、图案及立面标记、实体标记、突起路标和轮廓标等所构成的交通设施，它的作用是向道路使用者传递有关道路交通的规则、警告、指引等信息，可以与标志配合使用，也可以单独作用。

道路交通标线按功能可分为指示标线、禁止标线和警告标线三类。

1. 指示标线

【考点归纳】指示标线是指示车行道、行车方向、路面边缘、人行道、停车位、停靠站及减速丘等的标线。指示标线的图形、含义与作用见表 2-2-8。

表 2-2-8　指示标线的图形、含义与作用

图　形	标线特征	含　义	作　用
	黄色虚线	可跨越对向车行道分界线	用于分隔对向行驶的交通流
	白色虚线	可跨越同向车行道分界线	用于分隔同向行驶的交通流
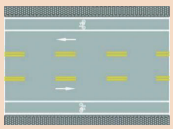	两条黄色虚线并列组成的双黄虚线	潮汐车道线（车辆行驶方向可随交通管理需要进行变化的车道称为潮汐车道）	指示潮汐车道的位置
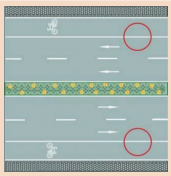	白色实线	车行道边缘线	用于指示禁止车辆跨越的车行道边缘或机非分界
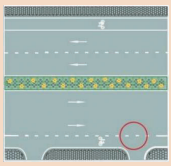	白色虚线	车行道边缘线	用以指示车辆可临时越线行驶的车行道边缘
	白色虚线	左弯待转区线	用来指示左转弯车辆在直行时段进入待转区等待左转的位置
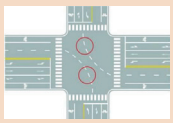	白色圆曲（或直）虚线	路口导向线	用于连接同向车行道分界线或机非分界线的路口导向

（续）

图　形	标线特征	含　义	作　用
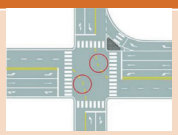	黄色圆曲（或直）虚线	路口导向线	用于连接对向车行道分界线的路口导向
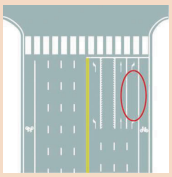	白色实线	导向车道线	用以指示车辆应按导向方向行驶的导向车道的位置
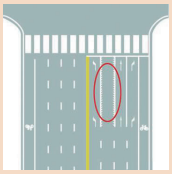	带有斜杠的白色实线	可变导向车道线	用以指示导向方向随需要可变的导向车道的位置
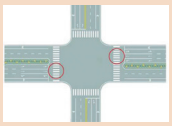	白色平行粗实线	人行横道线	既标示一定条件下准许行人横穿道路的路径，又警示机动车驾驶人注意行人及非机动车过街
	白色菱形图案	人行横道预告	用于告知前方为人行横道
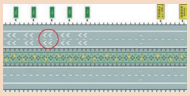	白色折线	车距确认	作为车辆驾驶人保持行车安全距离的参考，视需要设于较长直线段、易发生追尾事故或其他需要的路段，应与车距确确认标志配合使用
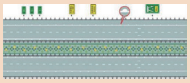	白色半圆状		
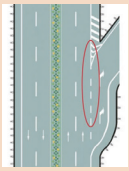	白色图案（结合出口形式和具体线形设计）	道路出口	用于高速公路出口横向标线或三角地带标线，为驶入匝道车辆提供安全交汇引导
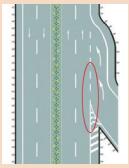	白色图案（结合入口形式和具体线形设计）	道路入口	用于高速公路入口横向标线或三角地带标线，为驶出匝道车辆提供安全交汇引导

（续）

图　　形	标线特征	含　　义	作　　用
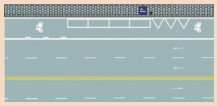	图示实线矩形框	平行式停车位	用于标示车辆停放位置。停车位标线的颜色为蓝色时表示此停车位为免费停车位，为白色时表示停车位为收费停车位，为黄色时表示此停车位为专属停车位
	图示实线菱形框	倾斜式停车位	
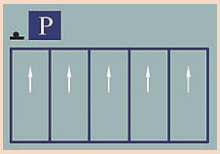	图示实线矩形框内有箭头	固定停车方向停车位	
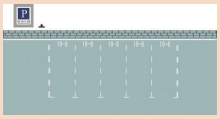	图示虚线矩形框内时间	限时停车位	
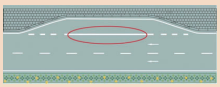	图示路边梯形框	港湾式停靠站	标示车辆通向专门的分离引道的路径和停靠位置
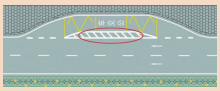	图示标有“公交车”的路边梯形框	公交车停靠站	指示公交车停靠站的位置，并指示除公交车外其他车辆不得在此区域停留
	图示白色箭头	指示直行	用以指示车辆的行驶方向
	图示白色箭头	指示前方可直行或左转	
	图示白色箭头	指示前方左转	
	图示白色箭头	指示前方右转	
	图示白色箭头	指示前方可直行或右转	
	图示白色箭头	指示前方掉头	

（续）

图　　形	标线特征	含　　义	作　　用
	图示白色箭头	指示前方可直行或掉头	用以指示车辆的行驶方向
	图示白色箭头	指示前方可左转或掉头	
	图示白色箭头	指示前方道路仅可左右转弯	
	图示白色箭头	指示前方道路有左弯或需向左合流	
	图示白色箭头	指示前方道路有右弯或需向右合流	
	黄色数字	最高限速	用于限制车辆最高行驶速度
	白色数字	最低限速	用于限制车辆最低行驶速度
	白色非机动车图案	非机动车道标记	施划于车道起点或车道中，表示该车道为非机动车道

【相关试题】

题 245　路中心黄色虚线属于哪一类标线？

A. 指示标线　　B. 禁止标线

C. 警告标志　　D. 辅助标线

答案：A

题 246　指示标线的作用是什么？

A. 禁止通行　　B. 指示通行

C. 限制通行　　D. 警告提醒

答案：B

题 247　路中白色虚线是什么标线？

A. 禁止跨越对向车道中心线

B. 限制跨越对向车道中心线

C. 单向行驶车道分界中心线

D. 可跨越同向车道中心线

答案：D

题 248　路中黄色分界线的作用是什么？

A. 允许在左侧车道行驶
B. 分隔对向行驶的交通流
C. 分隔同向行驶的交通流
D. 禁止跨越对向行车道

答案：B

题 249　路中两条双黄色虚线是什么标线？

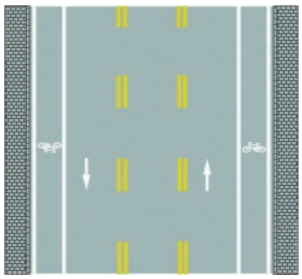

A. 双向分道线
B. 潮汐车道线
C. 可跨越分道线
D. 单向分道线

答案：B

题 250　路两侧的车行道边缘白色实线是什么含义？

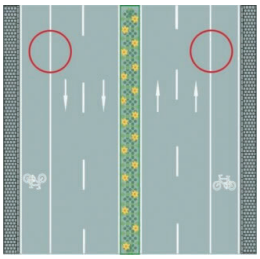

A. 车辆可临时跨越
B. 禁止车辆跨越
C. 机动车可临时跨越
D. 非机动车可临时跨越

答案：B

题 251　路右侧车行道边缘白色虚线是什么含义？

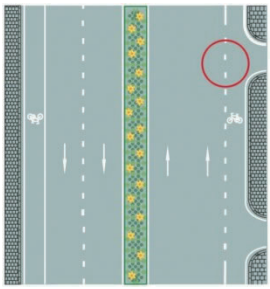

A. 车辆可临时越线行驶
B. 车辆禁止越线行驶
C. 应急车道分界线
D. 人行横道分界线

答案：A

题 252　图中圈内两条白色虚线是什么标线？

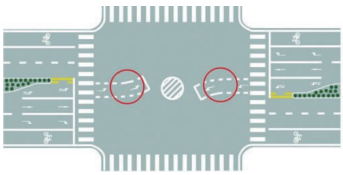

A. 交叉路停车线
B. 左弯待转区线
C. 掉头引导线
D. 小型车转弯线

答案：B

题 253　图中圈内白色虚线是什么标线？

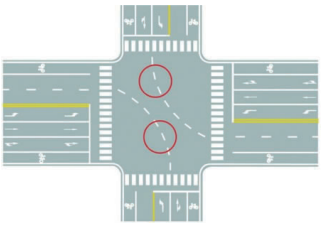

A. 小型车转弯线

B. 车道连接线
C. 非机动车引导线
D. 路口导向线
答案：D

题 254　图中圈内黄色虚线是什么标线？

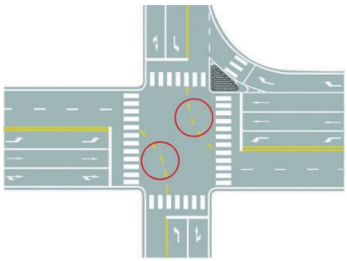

A. 非机动车引导线
B. 路口导向线
C. 车道连接线
D. 小型车转弯线
答案：B

题 255　图中圈内白色实线是什么标线？

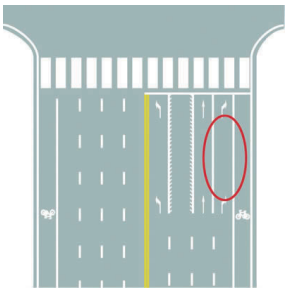

A. 导向车道线
B. 可变导向车道线
C. 方向引导线
D. 单向行驶线
答案：A

题 256　图中圈内的锯齿状白色实线是什么标线？

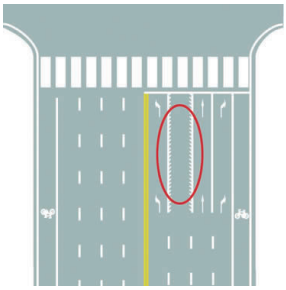

A. 导向车道线
B. 方向引导线
C. 可变导向车道线
D. 单向行驶线
答案：C

题 257　图中圈内的路面标记是什么标线？

A. 人行横道线　B. 减速让行线
C. 停车让行线　D. 路口示意线
答案：A

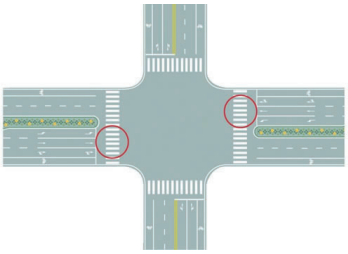

题 258　这个地面标记是什么标线？

A. 人行横道预告
B. 交叉路口预告
C. 减速让行预告
D. 停车让行预告

答案：A

题 259　图中圈内的白色折线是什么标线？

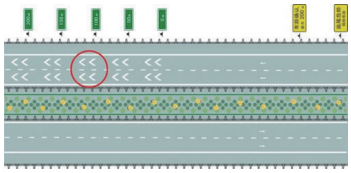

A. 车距确认线　B. 减速行驶线
C. 车速确认线　D. 路口减速线

答案：A

题 260　图中圈内的白色半圆状标记是什么标线？

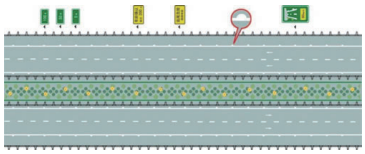

A. 减速行驶线　B. 车速确认线
C. 路口减速线　D. 车距确认线

答案：D

题 261　路面由白色虚线和三角地带标线组成的是什么标线？

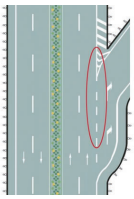

A. 道路入口标线
B. 可跨越式分道线
C. 道路出口减速线
D. 道路出口标线

答案：D

题 262　路面上白色虚线和三角地带标线组成的是什么标线？

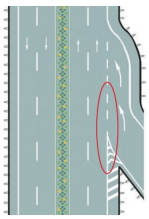

A. 道路入口标线
B. 可跨越式分道线
C. 道路入口减速线
D. 道路出口标线

答案：A

题 263　这种白色矩形标线框含义是什么？

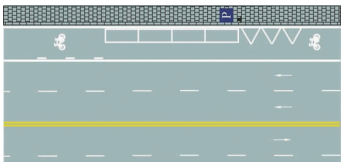

A. 出租车专用上下客停车位
B. 平行式停车位
C. 倾斜式停车位
D. 垂直式停车位

答案：B

题 264　这种停车标线含义是什么？

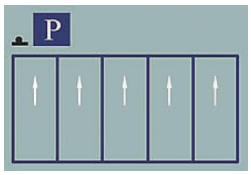

A. 专用待客停车位
B. 专用上下客停车位
C. 机动车限时停车位
D. 固定停车方向停车位

答案：D

题 265　这种白色矩形标线框含义是什么？

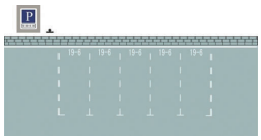

A. 长时停车位　B. 限时停车位
C. 免费停车位　D. 专用停车位

答案：B

题 266　红色圆圈内标线含义是什么？

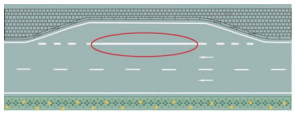

A. 临时停靠站　B. 港湾式停靠站
C. 应急停车带　D. 公交车停靠站

答案：B

题 267　红色圆圈内标线含义是什么？

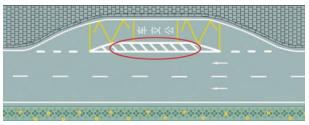

A. 临时停靠站　B. 大客车停靠站
C. 公交车停靠站 D. 应急停车带

答案：C

题 268　这个导向箭头是何含义？

A. 指示禁行　B. 指示车道
C. 指示合流　D. 指示直行

答案：D

题 269　这个导向箭头是何含义？

A. 指示直行或掉头
B. 指示直行或左转弯
C. 指示直行或向左变道
D. 指示向左转弯或掉头

答案：B

题 270　这个导向箭头是何含义？

A. 指示直行或右转弯
B. 指示向右转弯或掉头
C. 指示直行或向右变道
D. 指示直行或掉头

答案：A

题 271　这个导向箭头是何含义？

A. 指示向左变道
B. 指示前方直行
C. 指示前方左转弯
D. 指示前方右转弯

答案：C

题 272　这个导向箭头是何含义？

A. 指示向左变道
B. 指示前方直行
C. 指示前方掉头
D. 指示前方右转弯

答案：D

题 273　这个导向箭头是何含义？

A. 指示向左变道
B. 指示前方直行
C. 指示前方掉头

D. 指示前方右转

答案：C

题 274　这个导向箭头是何含义？

A. 指示前方可左转或掉头

B. 指示前方可直行或左转

C. 指示前方直行向左变道

D. 指示前方可直行或掉头

答案：D

题 275　这个导向箭头是何含义？

A. 指示前方可直行或掉头

B. 指示前方可左转或掉头

C. 指示前方可直行或向左变道

D. 指示前方可直行或左转

答案：B

题 276　这个导向箭头是何含义？

A. 提示前方有左弯或需向左合流

B. 提示前方有右弯或需向右合流

C. 提示前方右侧有障碍需向左合流

D. 提示前方有左弯或需向左绕行

答案：A

题 277　路面上导向箭头是何含义？

A. 提示前方有左弯或需向左绕行

B. 提示前方有障碍需向左合流

C. 提示前方有右弯或需向右合流

D. 提示前方有左弯或需向左合流

答案：C

题 278　路面上导向箭头是何含义？

A. 指示前方道路是 Y 型交叉口

B. 指示前方道路是分离式道路

C. 指示前方道路仅可左右转弯

D. 指示前方道路需向左右合流

答案：C

题 279　这个路面数字标记是何含义？

A. 保持车距标记

B. 最小间距标记

C. 速度限制标记

D. 道路编号标记

答案：C

题 280　这个路面标记是何含义？



A. 平均速度为 100 公里 / 小时

B. 最低限速为 100 公里 / 小时

C. 解除 100 公里 / 小时限速

D. 最高限速为 100 公里 / 小时

答案：D

题 281　这个路面标记是何含义？

A. 最低限速为 80 公里 / 小时
B. 平均速度为 80 公里 / 小时
C. 最高限速为 80 公里 / 小时
D. 解除 80 公里 / 小时限速

答案：A

题 282　这个路面标记是何含义？

A. 非机动车道
B. 摩托车专用道
C. 电瓶车专用道
D. 自行车专用道

答案：A

题 283　这个地面标记的含义是预告前方设有交叉路口。

答案：×

解析：图中地面标记的含义是人行横道预告，而不是“预告前方设有交叉路口”。

题 284　路中心黄色虚线的含义是分隔对向交通流，在保证安全的前提下，可越线超车或转弯。

答案：√

2. 禁止标线

【考点归纳】禁止标线是告示道路交通遵行、禁止、限制等特殊规定的标线。禁止标线的图形、含义与作用见表 2-2-9。

表 2-2-9　禁止标线的图形、含义与作用

图　形	标线特征	含　义	作　用
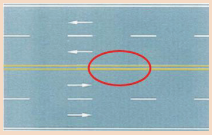	双黄实线	禁止跨越对向车行道分界线	禁止双方向车辆越线或压线行驶
	黄色虚实线	禁止跨越对向车行道分界线	实线一侧禁止车辆越线或压线行驶，虚线一侧准许车辆暂时越线或转弯
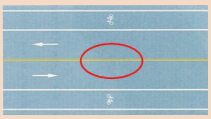	单黄实线	禁止跨越对向车行道分界线	禁止双方向车辆越线或压线行驶
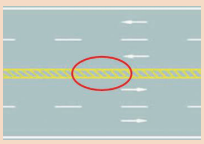	双黄实线中黄色斜线填充	禁止跨越对向车行道分界线	禁止双方向车辆越线或压线行驶

（续）

图　　形	标线特征	含　　义	作　　用
	双黄实线	禁止跨越同向车行道分界线	设于交通繁杂而同向有多条车行道的路段。用于禁止车辆跨越车行道分界线进行变换车道或借道超车
	图示人行道边缘黄色虚线	禁止长时停车线	用以禁止路边长时停、放车辆
	图示人行道边缘黄色实线	禁止停车线	用以指示禁止路边停、放车辆
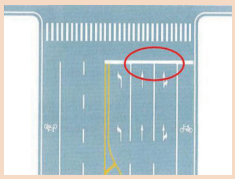	单条白色实线	停止线	表示车辆让行、等候放行等情况下的停车位置
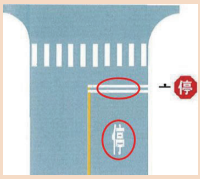	两条平行白色实线和一个白色“停”字	停车让行线	表示车辆在此路口停车让干道车辆先行
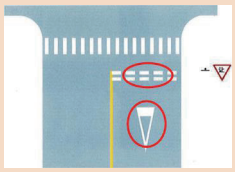	两条平行的白色虚线和一个白色倒三角形	减速让行线	表示车辆在此路口应减速让干道车辆先行
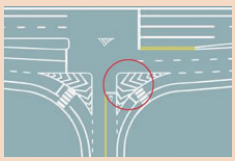	图示白色图案	导流线	表示车辆需按规定的路线行驶，不得压线或越线行驶
	白色圆形	中心圈	用以区分车辆大、小转弯或作为交叉口车辆左右转弯的指示，车辆不得压线行驶
	白色菱形		

（续）

图　　形	标线特征	含　　义	作　　用
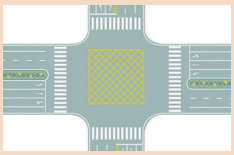	黄色网状	网状线	用以标示禁止以任何原因停车的区域
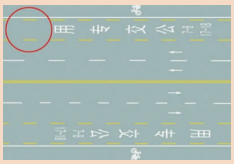	由黄色虚线及白色文字组成	公交专用车道	表示除公交车外，其他车辆及行人不得进入该车道
	由白色虚线及白色文字组成	多乘员车辆专用车道	表示该车行道为有多个乘车人的多乘员车辆专用的车道，未载乘客或乘员数未达规定的车辆不得入内行驶
	由黄色导向箭头和黄色叉形标记组成	禁止掉头	用于禁止车辆掉头的路口或区间
	由黄色导向箭头和黄色叉形标记组成	禁止转弯	用于禁止车辆转弯的路口或区间

【相关试题】

题 285　路中心的双黄实线属于哪一类标线？

A. 辅助标线　　B. 警告标志

C. 禁止标线　　D. 指示标线

答案：C

题 286　路中心双黄实线是何含义？

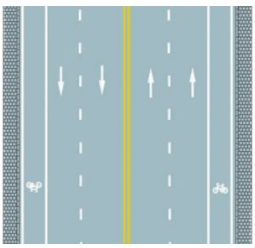

A. 禁止跨越对向车行道分界线

B. 可跨越对向车道分界线

C. 双侧可跨越同向车道分界线

D. 单向行驶车道分界线

答案：A

题 287　路中心黄色虚实线是何含义？



A. 虚线一侧禁止越线
B. 实线一侧禁止越线
C. 实线一侧允许越线
D. 两侧均可越线行驶

答案：B

题 288　路中心的黄色斜线填充是何含义？



A. 单向行驶车道分界线
B. 禁止跨越对向车行道分界线
C. 双侧可跨越同向车道分界线
D. 可跨越对向车道分界线

答案：B

题 289　路中心白色实线是何含义？

A. 单侧可跨越同向车道分界线
B. 禁止跨越同向车行道分界线
C. 双侧可跨越同向车道分界线
D. 禁止跨越对向车行道分界线

答案：B

题 290　路缘石上的黄色虚线是何含义？

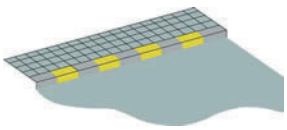

A. 禁止临时停车　B. 禁止上下人员
C. 禁止装卸货物　D. 禁止长时停车

答案：D

题 291　路缘石上的黄色实线是何含义？

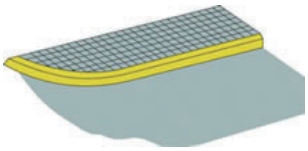

A. 仅允许上下人员
B. 仅允许装卸货物
C. 禁止长时间停车
D. 禁止停放车辆

答案：D

题 292　图中圈内白色横实线是何含义？

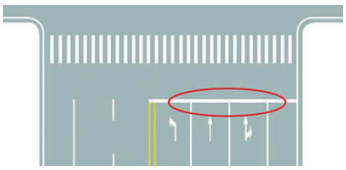

A. 待转线　B. 减速线
C. 让行线　D. 停止线

答案：D

题 293　路口最前端的双白实线是什么含义？

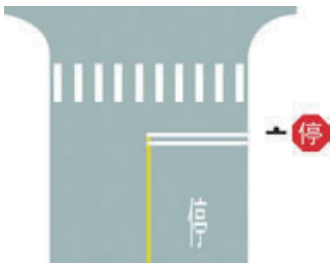

A. 停车让行线　B. 减速让行线
C. 左弯待转线　D. 等候放行线

答案：A

题 294　路口最前端的双白虚线是什么含义？

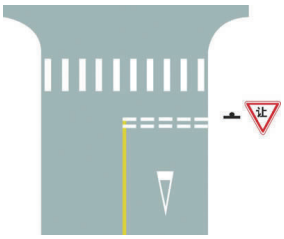

A. 等候放行线　B. 停车让行线
C. 减速让行线　D. 左弯待转线

答案：C

题 295　图中圈内三角填充区域是什么标线？

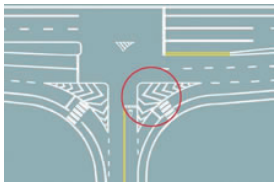

A. 停车线　B. 减速线
C. 导流线　D. 网状线

答案：C

题 296　这个路面标记是什么标线？

A. 网状线　B. 禁驶区
C. 导流线　D. 中心圈

答案：D

题 297　这个路面标记是什么标线？

A. 禁驶区　B. 网状线
C. 导流线　D. 中心圈

答案：D

题 298　图中路口中央黄色路面标记是什么标线？

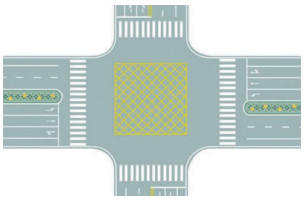

A. 中心圈　B. 导流线
C. 网状线　D. 停车区

答案：C

题 299　图中圈内两条黄色虚线间的区域是何含义？

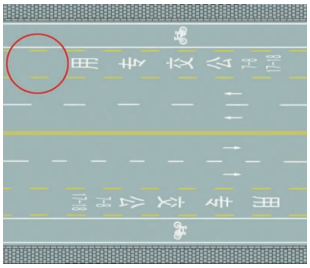

A. 营运客车专用车道
B. 大客车专用车道
C. 出租车专用车道
D. 公交专用车道

答案：D

题 300　道路最左侧白色虚线区域是何含义？

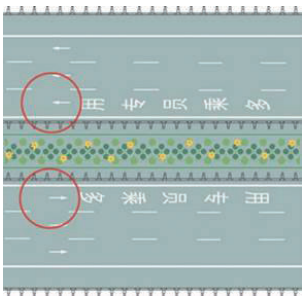

A. 多乘员车辆专用车道
B. 小型客车专用车道
C. 未载客出租车专用车道
D. 大型客车专用车道

答案：A

题 301　路面上的黄色标记是何含义？

A. 禁止直行
B. 允许掉头
C. 禁止掉头
D. 禁止转弯

答案：C

题 302　路面上的黄色标记是何含义？

A. 禁止掉头
B. 禁止左转
C. 禁止右转
D. 禁止直行

答案：C

题 303　路中心的双黄实线作用是分隔对向交通流，在保证安全的前提下，可越线超车或转弯。

答案：×

解析：路中心的双黄实线严禁跨越，所以不允许越线超车或转弯。

3. 警告标线

【考点归纳】警告标线是促使道路使用者了解道路上的特殊情况，提高警觉准备应变防范措施的标线。警告标线的图形、含义与作用见表 2-2-10。

表 2-2-10　警告标线的图形、含义与作用

图　形	标线特征	含　义	作　用
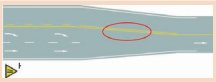	图示双黄实线	路面（车行道）宽度渐变标线	用以警告车辆驾驶人路宽或车道数变化，应谨慎行车，并禁止超车
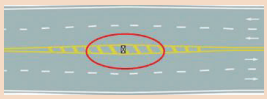	图示车行道分界线变为菱形，其中填充倾斜平行粗实线	接近障碍物标线	用以指示路面有固定性障碍物，警告车辆驾驶人谨慎行车，引导交通流顺畅驶离障碍物区域
	图示叉形白色粗实线旁白色“铁路”二字	铁路平交道口标线	用以指示前方有铁路平交道口，警告车辆驾驶人应在停车线处停车，在确认安全情况下或信号灯放行时，才可通过
	图示一组垂直于车道中心线的白色标线	车行道横向减速标线	用于警告车辆驾驶人前方应减速慢行
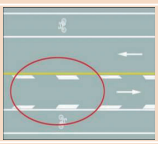	图示一组平行于车道分界线的菱形虚线	车行道纵向减速标线	用于警告车辆驾驶人前方应减速慢行
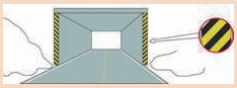	黄黑相间的倾斜线条	立面标记	用以提醒驾驶人注意，在车行道或近旁有高出路面的构造物

【相关试题】

题 304　路面上的黄色标线是何含义？

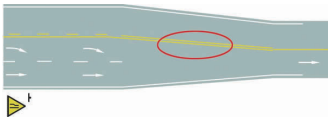

A. 路面宽度渐变标线
B. 车行道变多标线
C. 接近障碍物标线
D. 施工路段提示线

答案：A

题 305　路面上的黄色填充标线是何含义？

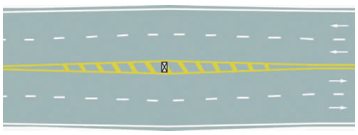

A. 接近移动障碍物标线
B. 远离狭窄路面标线
C. 接近障碍物标线
D. 接近狭窄路面标线

答案：C

题 306　路面上的白色标线是何含义？

A. 道路施工提示标线
B. 车行道横向减速标线
C. 车行道纵向减速标线
D. 车道变少提示标线

答案：B

题 307　路面上的菱形块虚线是何含义？

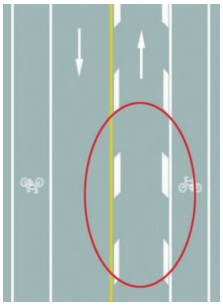

A. 道路施工提示标线
B. 车行道纵向减速标线
C. 车行道横向减速标线
D. 车道变少提示标线

答案：B

题 308　这种黄黑相间的倾斜线条是什么标记？

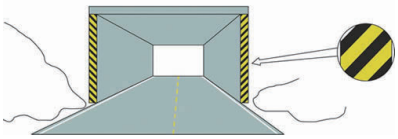

A. 实体标记　　B. 突起标记
C. 立面标记　　D. 减速标记

答案：C

题 309　驾驶机动车跨越双实线行驶属于什么行为？

A. 违章行为　　B. 违法行为
C. 过失行为　　D. 违规行为

答案：B

（四）交通警察手势信号

【考点归纳】交通警察手势信号有停止信号、直行信号、左转弯信号、左转弯待转信号、右转弯信号、变道信号、减速慢行信号、示意车辆靠边停车信号八种，各种信号的含义及动作要领见表 2-2-11。

表 2-2-11 交通警察手势信号的含义及动作要领

序号	种类	含义	动作要领	图示
1	停止信号	不准前方车辆通行	左臂向前上方直伸，掌心向前	
2	直行信号	准许右方直行的车辆通行	左臂向左平伸，掌心向前；右臂向右平伸，掌心向前，向左摆动	
3	左转弯信号	准许车辆左转弯，在不妨碍被放行车辆通行的情况下可以掉头	右臂向前平伸，掌心向前；左臂与手掌平直向右前方摆动，掌心向右	
4	左转弯待转信号	准许左方左转弯的车辆进入路口，沿左转弯行驶方向靠近路口中心，等候左转弯信号	左臂向左下方平伸，掌心向下；左臂与手掌平直向下方摆动	
5	右转弯信号	准许右方的车辆右转弯	左臂向前平伸，掌心向前；右臂与手掌平直向左前方摆动，手掌向左	
6	变道信号	车辆应当腾空指定的车道，减速慢行	右臂向前平伸，掌心向左；右臂向左水平摆动	
7	减速慢行信号	车辆应当减速慢行	右臂向右前方平伸，掌心向下；右臂与手掌平直向下方摆动	
8	靠边停车信号	车辆应当靠边停车	左臂向前上方平伸，掌心向前；右臂向前下方平伸，掌心向左；右臂向左水平摆动	

【相关试题】

题 310 这一组交通警察手势是什么信号？

A. 右转弯信号 B. 靠边停车信号

C. 左转弯信号　D. 停止信号

答案：D

题 311　这一组交通警察手势是什么信号？

A. 直行信号　B. 转弯信号

C. 停止信号　D. 靠边停车信号

答案：A

题 312　这一组交通警察手势是什么信号？

A. 左转弯待转信号

B. 靠边停车信号

C. 左转弯信号

D. 右转弯信号

答案：C

题 313　这一组交通警察手势是什么信号？

A. 左转弯待转信号

B. 靠边停车信号

C. 减速慢行信号

D. 左转弯信号

答案：D

题 314　这一组交通警察手势是什么信号？

A. 左转弯信号

B. 左转弯待转信号

C. 减速慢行信号

D. 右转弯信号

答案：B

题 315　这一组交通警察手势是什么信号？

A. 减速慢行信号　B. 靠边停车信号

C. 停止信号　D. 右转弯信号

答案：D

题 316　这一组交通警察手势是什么信号？

A. 左转弯待转信号

B. 靠边停车信号

C. 右转弯信号

D. 减速慢行信号

答案：C

题 317　这一组交通警察手势是什么信号？

A. 右转弯信号　B. 减速慢行信号

C. 靠边停车信号 D. 变道信号

答案：D

题 318　这一组交通警察手势是什么信号？

A. 右转弯信号　B. 变道信号

C. 减速慢行信号 D. 靠边停车信号

答案：C

三、安全行车、文明驾驶知识

（一）一般道路安全行车

【考点归纳】一般道路安全行车考点见表 2-3-1。

表 2-3-1　一般道路安全行车考点

序　号	项　目	考　点
1	安全起步	（1）车辆起步前，驾驶人应绕车一周，对车辆及周围交通情况进行观察，确认安全后，再开始起步 （2）车辆起步后，注意观察车辆左侧道路情况，确认安全后再缓慢向左转向，安全驶入行车道
2	安全汇入车流	驾驶车辆汇入车流前，应开启转向灯，通过后视镜观察侧后方正常行驶的车辆，正确估计车流速度和安全距离，根据车流情况选择汇入的最佳时机，在不影响正常行驶车辆的情况下安全汇入车流
3	变更车道	（1）变更车道时，首先要观察车辆后方、侧方和准备变更的车道上的交通流情况。确认安全后，打开转向指示灯示意，在不妨碍驶入车道内车辆正常行驶的情况下，平稳转向、驶往所需车道，然后关闭转向指示灯 （2）在交叉路口变更车道，应提前观察道路交通标志和路面标线，根据需要行驶的方向选择行驶车道，按导向箭头方向在进入实线区前驶入导向车道
4	安全会车	（1）会车前，应仔细观察来车及路面等交通情况，选择适当地点会车。如选择的交会位置不理想时，应减速、低速会车或停车让行 （2）会车时，必须遵守交通法规，在狭窄的路段会车时，应做到“礼让三先”，即“先让、先慢、先停”。会车中遇到对方来车行进有困难需借道时，应尽量礼让对方先行 （3）在有障碍的路段，无障碍的一方先行；但有障碍的一方已驶入障碍路段而无障碍的一方未驶入时，有障碍的一方先行

（续）

序　号	项　目	考　点
4	安全会车	（4）在路面狭窄或道路两旁有障碍物的情况下会车，应根据对面来车的速度、路面等选定交会点，正确控制自己的车辆。如离交会点较远，也可加速行驶，反之则应减速等候
5	安全避让	（1）行驶中，一旦发现有尾随车辆发出超车信号后，应根据道路、交通情况来决定是否减速让路。若条件允许，应主动减速靠右行驶，让后车超越 （2）让超要既让道又让速，不能故意不让或让道不让速，甚至在超越时故意加速等
6	安全超车	（1）超车前，应正确判断对方驶来车辆的车速，果断决策能否超越前车，必须在确保安全的前提下才能超车 （2）超车时，先开左转向灯并鸣喇叭示意，夜间超车时应不断开关灯光示意，等前车有让路表示后，方可从前车的左侧超越。如前车不减速、不让道，千万不能强行超越，以免发生事故 （3）超车时，应与被超车保持足够的横向安全间距。若无法保证与正常行驶前车的横向安全间距时，应放弃超车 （4）超越前车后，不能过早地驶入原来的行驶路线，在同被超车辆保持必要的安全距离后，打开右转向灯驶回原车道 （5）行车中超越右侧停放的车辆时，为预防其突然起步或开启车门，应预留出横向安全距离，减速行驶 （6）注意下列情况不能超车：一是前车正在左转弯、掉头、超车；二是与对面来车有会车可能；三是前车为执行紧急任务的警车、消防车、救护车、工程救险车；四是行经铁路道口、交叉路口、窄桥、弯道、陡坡、隧道、人行横道、市区交通流量大的路段等没有超车条件；五是有较大的风、雨、雪、雾等复杂气象条件
7	安全停车	（1）在道路边临时停车前，一定要仔细观察后方和右侧交通情况。确认安全后，打开右转向灯，缓慢地向道路右侧，不得逆向或并列停放 （2）车辆停稳后，才能开车门和上下人，开车门的动作要缓慢，且不能妨碍其他车辆和行人通行 （3）车辆长时间停放时，应选择停车场停车。并将车辆停放整齐，保持车辆间能够驶出的间隔距离
8	安全掉头	（1）机动车在有禁止掉头或者禁止左转弯标志、标线的地点以及在铁路道口、人行横道、桥梁、急弯、陡坡、隧道或者容易发生危险的路段，不得掉头 （2）掉头过程中，应严格控制车速，仔细观察道路前后方情况，确认安全后方可前进或倒车
9	安全倒车	（1）机动车倒车时，应当察明车后情况，确认安全后倒车 （2）倒车过程中要缓慢行驶，注意观察车辆两侧和后方的情况，随时做好停车准备 （3）倒车时，若发现有过往车辆通过，应主动停车避让 （4）不得在铁路道口、交叉路口、单行路、桥梁、急弯、陡坡或者隧道中倒车

【相关试题】

（1）安全起步

题 1　车辆起步前，驾驶人应对车辆周围交通情况进行观察，确认安全时再开始起步。

答案：√

题 2　车辆临时靠边停车后准备起步时，应先怎样做？

A. 加油起步

B. 鸣喇叭

C. 提高发动机转速

D. 观察周围交通情况

答案：D

题 3　车辆在路边起步后应尽快提速，并向左迅速转向驶入正常行驶道路。

答案：×

解析：起步后“尽快提速”、“迅速转向”影响行车安全。

（2）安全汇入车流

题 4　行车中从其他道路汇入车流前，应注意观察侧后方车辆的动态。

答案：√

题 5　驾驶车辆汇入车流时，应提前开启转向灯，保持直线行驶，通过后视镜观察左右情况，确认安全后汇入合流。

答案：√

（3）变更车道

题 6　驾驶车辆变更车道时，应提前开启转向灯，注意观察，保持安全距离，驶入要变更的车道。

答案：√

题 7　驾驶车辆在交叉路口前变更车道时，应怎样驶入要变更的车道？

A. 在路口前实线区内根据需要

B. 进入路口实线区内

C. 在路口停止线前

D. 在虚线区按导向箭头指示

答案：D

题 8　变更车道时只需开启转向灯，便可迅速转向驶入相应的行车道。

答案：×

解析：开启转向灯 3 秒后，才能转向。若开灯后迅速转向，会使后方来车措手不及，而导致碰撞事故。

题 9　变更车道时，应开启转向灯，迅速驶入侧方车道。

答案：×

解析：开启转向灯 3 秒后，才能驶入侧方车道。迅速驶入侧方车道容易导致交通事故。

题 10　这辆红色轿车变更车道的方法和路线是正确的。

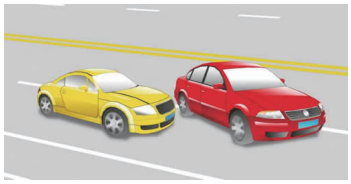

答案：×

解析：红色轿车有两点错误：一是变更车道没有开启转向灯；二是与后车没留出足够安全距离。

（4）安全会车

题 11　会车前选择的交会位置不理想时，应怎样做？

A. 减速、低速会车或停车让行

B. 向左占道，让对方减速让行

C. 打开前照灯，示意对方停车让行

D. 加速选择理想位置

答案：A

题 12　在狭窄的路段会车时，应做到礼让三先：先慢、先让、先停。

答案：√

题 13　行车中需要借道绕过前方障碍物，但对向来车已接近障碍物时，应怎样做？

A. 加速提前抢过

B. 鸣喇叭示意对向车辆让道

C. 迅速占用车道，迫使对向来车停车让道

D. 降低速度或停车，让对向来车优先通行

答案：D

（5）安全避让

题 14　遇后车发出超车信号后，只要具备让超条件应怎样做？

A. 靠道路右侧加速行驶

B. 主动减速并靠右侧行驶

C. 让出适当空间加速行驶

D. 迅速减速或紧急制动

答案：B

题 15　驾驶的车辆正在被其他车辆超越时，应怎样做？

A. 靠道路中心行驶

B. 加速让路

C. 继续加速行驶

D. 减速，靠右侧行驶

答案：D

题 16　驾驶的车辆正在被其他车辆超越时，若此时后方有跟随行驶的车辆，应怎样做？

A. 继续加速行驶

B. 稍向右侧行驶，保证横向安全距离

C. 靠道路中心行驶

D. 加速向右侧让路

答案：B

题 17　行车中遇到后方车辆要求超车时，应怎样做？

A. 保持原有车速行驶

B. 及时减速、观察后靠右行驶让行

C. 靠右侧加速行驶

D. 不让行

答案：B

（6）安全超车

题 18　驾驶人在超车时，前方车辆不减速、不让道，应怎样做？

A. 紧跟其后，伺机再超

B. 停止继续超车

C. 加速继续超越

D. 连续鸣喇叭加速超越

答案：B

题 19　进入左侧道路超车，无法保证与正常行驶前车的横向安全间距时，应怎样做？

A. 谨慎超越

B. 放弃超车

C. 并行一段距离后再超越

D. 加速超越

答案：B

题 20　预计在超车过程中与对面来车有会车可能时，应提前加速超越。

答案：×

解析：依据《道路交通安全法》第 43 条，与对面来车有会车可能时，不得超车。

题 21　通过隧道时，不得超车。

答案：√

题 22　通过铁路道口时，不得超车。

答案：√

题 23　通过急转弯路段时，在车辆较少的情况下可以超车。

答案：×

解析：依据《道路交通安全法》第 43 条，通过弯道时，不得超车。

题 24　通过窄路、窄桥时，不得

超车。

答案：√

题 25　同车道行驶的车辆前方遇到下列哪种车辆不得超车？

A. 大型客货车

B. 执行任务的消防车

C. 公共汽车

D. 出租汽车

答案：B

题 26　同车道行驶的车辆前方遇到下列哪种车辆不得超车？

A. 大型客货车

B. 出租汽车

C. 执行任务的救护车

D. 公共汽车

答案：C

题 27　同车道行驶的车辆前方遇到下列哪种车辆不得超车？

A. 执行任务的警车

B. 大型客货车

C. 出租汽车

D. 城市公交车

答案：A

题 28　在道路上超车时，应尽量加大横向距离，必要时可越实线超车。

答案：×

解析：道路上实线不能跨越。

题 29　风、雨、雪、雾等复杂气象条件，遇前车速度较低时，应开启前照灯，连续鸣喇叭迅速超越。

答案：×

解析：遇到题中情形，“连续鸣喇叭”不礼貌，“迅速超越”不安全。

题 30　行车中超越右侧停放的车辆时，为预防其突然起步或开启车门，应怎样做？

A. 加速通过

B. 长鸣喇叭

C. 保持正常速度行驶

D. 预留出横向安全距离，减速行驶

答案：D

（7）安全停车

题 31　机动车在道路边临时停车时，应怎样做？

A. 不得逆向或并列停放

B. 只要出去方便，可随意停放

C. 可逆向停放

D. 可并列停放

答案：A

题 32　车辆长时间停放时，应选择停车场停车。

答案：√

（8）安全掉头

题 33　以下准许机动车掉头的地方是：

A. 铁路道口　　B. 人行横道

C. 隧道　　D. 环岛

答案：D

题 34　掉头过程中，应严格控制车速，仔细观察道路前后方情况，确认安全后方可前进或倒车。

答案：√

（9）安全倒车

题 35　在一般道路倒车时，若发现有过往车辆通过，应怎样做？

A. 鸣喇叭示意　　B. 主动停车避让

C. 加速倒车　　D. 继续倒车

答案：B

题 36　倒车过程中要缓慢行驶，

注意观察车辆两侧和后方的情况，随时做好停车准备。　　答案：√

（二）特殊路段安全行车

【考点归纳】特殊路段安全行车考点见表 2-3-2。

表 2-3-2　特殊路段安全行车考点

序　号	项　目	考　点
1	通过交叉路口	（1）通过交叉路口要严格遵守信号灯、标志、标线及交警的指挥。通过前应注意观察交通情况，尤其要警惕行人横穿路口，随时准备采取措施，预防突然出现的意外事件 （2）驾驶车辆进入交叉路口前，要提前降低车速，以慢速通过交叉路口 （3）车辆行至交叉路口，左转弯车辆只有在左转是红灯，直行是绿灯时，才可以进入左弯待转区 （4）遇有路口交通阻塞时，即便是绿灯亮，也应将车辆停在路口外等候，以免被夹在路口内进退两难 （5）通过环形路口应注意：一是驶入环形路口不用开启转向灯，驶出环形路口应打开右转向灯；二是准备进入环形路口的车辆让已在路口内的机动车先行
2	通过铁路道口	（1）车辆通过没有道口信号灯又无人看守的道口时，应提前减速，并停车观望，确认无列车开来时方准通行，做到“一停、二看、三通过” （2）通过铁道路口时，应用低速档安全通过，中途不得换档，以避免发动机熄火
3	通过人行横道	（1）车辆驶近人行横道时，应注意观察行人、非机动车动态，确认安全后再通过 （2）车辆行经人行横道时，应当减速行驶，遇行人正在通过人行横道，应当停车让行 （3）当人行横道内没有行人时，要注意观察人行横道两端是否有行人或非机动车突然急速通过 （4）驶近没有人行横道的交叉路口时，发现有人横穿道路，应减速或停车让行
4	通过学校区域和公共汽车站	（1）车辆行驶至学校和小区时，应注意观察交通标志与标线，提前减速，禁止鸣喇叭 （2）有学生列队通过道路时，应及时停车让行，不得与学生抢行 （3）车辆接近公共汽车站时，应降低车速。注意观察交通情况和行人动态，尤其要注意乘客突然横穿公路 （4）超越停驶的公共汽车时，车速不能过快，并与之保持较大的横向距离，要鸣喇叭，以防车前有行人横穿马路

【相关试题】

（1）通过交叉路口

题 37　在堵车的交叉路口绿灯亮时，车辆应怎样做？

A. 可直接驶入交叉路口

B. 不能驶入交叉路口

C. 可借对向车道通过路口

D. 在保证安全的情况下驶入交叉路口

答案：B

题 38　驾驶车辆进入交叉路口前，应降低行驶速度，注意观察，确认安全。

答案：√

题 39　车辆行至交叉路口时，左转弯车辆在任何时段都可以进入左弯待转区。

答案：×

解析：遇题中情形，只有在左转是红灯，直行是绿灯时，才可以进入左弯待转区。

题 40　在路口遇这种情形要减速让行。



答案：√

题 41　进入这个路口应该怎样做？

A. 交替变换远近光灯提醒路口内车辆让行

B. 从路口内车辆前迅速插入

C. 让已在路口内的车辆先行

D. 鸣喇叭直接进入路口

答案：C

（2）通过铁路道口

题 42　怎样通过这样的路口？

A. 不减速通过

B. 加速尽快通过

C. 空档滑行通过

D. 减速或停车观察

答案：D

题 43　驾驶车辆通过无人看守的铁路道口时，应怎样做？

A. 减速通过

B. 匀速通过

C. 一停、二看、三通过

D. 加速通过

答案：C

题 44　驾驶车辆驶入铁路道口前减速降档，进入道口后应怎样做？

A. 不能变换档位 B. 可以变换档位

C. 可换为高档　D. 停车观察

答案：A

题 45　车辆通过铁道路口时，应用低速档安全通过，中途不得换档，以避免发动机熄火。

答案：√

（3）通过人行横道

题 46　车辆驶近人行横道时，应怎样做？

A. 加速通过

B. 立即停车

C. 先减速注意观察行人、非机动车动态，确认安全后再通过

D. 鸣喇叭示意行人让道

答案：C

题 47　行驶车道绿灯亮时，但车辆前方人行横道仍有行人行走，应怎样做？

A. 直接起步通过

B. 起步后从行人后方绕过

C. 等行人通过后再起步

D. 起步后从行人前方绕过

答案：C

题 48　驶近没有人行横道的交叉路口时，发现有人横穿道路，应怎样做？

A. 减速或停车让行

B. 鸣喇叭示意其让道

C. 立即变道绕过行人

D. 抢在行人之前通过

答案：A

题 49　驾驶车辆通过人行横道线时，应注意礼让行人。

答案：√

题 50　在这种情况下可以加速通过人行横道。



答案：×

解析：图中车辆前方有人通过人行横道，若加速通过容易造成危险。

（4）通过学校区域和公共汽车站

题 51　车辆通过学校和小区应注意观察标志标线，低速行驶，不要鸣喇叭。

答案：√

题 52　行车中遇列队横过道路的学生时，应怎样做？

A. 提前加速抢行

B. 停车让行

C. 降低车速、缓慢通过

D. 连续鸣喇叭催促

答案：B

题 53　车辆驶近停在车站的公交车辆时，为预防公交车突然起步或行人从车前穿出，应怎样做？

A. 减速，保持足够间距，随时准备停车

B. 保持正常车速行驶

C. 鸣喇叭提醒，加速通过

D. 随时准备紧急制动

答案：A

（三）山区道路安全行车

【考点归纳】山区道路安全行车考点见表 2-3-3。

表 2-3-3　山区道路安全行车考点

序　号	项　目	考　点
1	山区一般道路安全行车	（1）山区道路坡长弯急，视距不足，行车难度大，驾驶人必须掌握山区道路的特点，采取恰当的驾驶操作方法，正确处理各种情况，谨慎驾驶

（续）

序　号	项　目	考　点
1	山区一般道路安全行车	（2）在山区道路上会车，应提前处理情况，做到“一让、二慢、三停”，观察好前方道路和右侧路面情况，选择好会车地点，主动做好停让车的准备。如会车时靠近山崖边或河崖一侧，应停下来观察路基情况，在确保安全的情况下才能通过。特别在山区公路的雨季，由于公路狭窄，交会时不能太靠边，应选择适当地点，提前让车。不盲目交会，安全礼让，做到“宁停三分，不抢一秒” （3）在山区道路上尽量不要超车，更不能强行超车。必须超车时，应选择路面宽阔、最好是平坦或缓上坡的路段，并要等前车让道后，在视线良好、对面无来车和障碍物的情况下，才能进行超车。在陡坡、弯道、窄道等险要路段，以及气象不良时坚决避免超车 （4）在山区道路上跟车时，应加大跟车距离。上坡时前车与后车之间距离应不少于 75 米；下坡时车距应增大到 100 米。若前车为重车拖挂、半挂车，则车距还应再适当加大，以防前车或本车突发故障，造成相撞事故
2	山区坡道安全行车	（1）汽车上陡坡时，应提前将汽车换入中、低速档，使发动机保持足够的动力，平稳地上坡。当动力不足时，应迅速减档，不可强撑，以防拖档熄火。如错过换档时机，可越级减档。若遇换不进档或发动机熄火时，应立即联合使用行车制动器与驻车制动器强行停车，然后重新起步 （2）汽车下坡时，由于汽车的重心前移，其惯性力也随之增大，应注意检查制动器的工作情况，要严格控制车速，不能过快，运用发动机和低速档位的牵阻作用控制车速。并要合理使用制动器稳定车速，严禁熄火、空档或踏下离合器踏板滑行 （3）汽车上长坡时，车速慢，时间长，要求驾驶人要有耐心，使发动机平稳地工作。不应操之过急，狠踏加速踏板使发动机高速运转，而使发动机过热开锅，油路气阻而供油不良 （4）汽车下长坡时，主要是利用发动机制动控制车速，辅助以间歇行车制动。要防止长时间连续使用行车制动，使制动蹄片过热，以及气压过低，而降低制动效能
3	山区弯道安全行车	（1）汽车在山区弯道行驶时，进入弯道前应减速、鸣喇叭、靠右行，不要侵占对方的车道，做到“左转转大弯，右转转小弯” （2）行至下坡弯道时，应在转弯前平稳降低车速，随时做好停车准备，以防转弯中遇到来车交会或转弯后遇到路障 （3）行至上坡弯道时，应提前减档，使车辆有足够的动力，避免转弯时换档 （4）行至急转弯处，应充分减速并靠右侧行驶，防止与越过弯道中心线的对方车辆相撞 （5）行至连续转弯路段，应提前鸣喇叭，适时减速，并主动避让车辆及行人
4	山区窄道安全行车	车辆在较窄的山路上行驶时，靠山体的一方应该让行。如果没有让行，此时千万不要斗气，应以安全为重，做到提前减速或停车避让
5	山区险道安全行车	汽车在易出现塌方、滑坡和泥石流的危险地段行驶，应谨慎驾驶，避免停车

【相关试题】

（1）山区一般道路安全行车

题 54　山区道路对安全行车的主要影响是什么？

A. 交通情况单一

B. 坡长弯急，视距不足

C. 车流密度大

D. 道路标志少

答案：B

题 55　车辆在山区道路跟车行驶时，应怎样做？

A. 适当加大安全距离

B. 紧随前车之后

C. 适当减小安全距离

D. 尽可能寻找超车机会

答案：A

题 56　在山区道路超车时，应怎样超越？

A. 抓住任何机会尽量

B. 选择宽阔的缓上坡路段

C. 选择较长的下坡路

D. 选择较缓的下坡路

答案：B

题 57　在山区道路遇对向来车时，应怎样会车？

A. 紧靠道路中心

B. 不减速

C. 加速

D. 减速或停车让行

答案：D

（2）山区坡道安全行车

题 58　下长坡时，控制车速除了踩制动踏板减速以外还有什么有效的辅助方法？

A. 挂入空档滑行

B. 利用发动机制动

C. 关闭发动机熄火滑行

D. 踏下离合器滑行

答案：B

题 59　下长坡连续使用行车制动会导致什么？

A. 会缩短发动机寿命

B. 增加驾驶人的劳动强度

C. 容易造成车辆倾翻

D. 会使制动器温度升高而使制动效果急剧下降

答案：D

题 60　车辆上坡行驶，要提前观察路况、坡道长度，及时减档使车辆保持充足的动力。

答案：√

题 61　车辆下坡行驶，要适当控制车速，充分利用发动机进行制动。

答案：√

题 62　车辆下长坡时要减档行驶，以充分利用发动机的制动作用。

答案：√

题 63　车辆在山区道路行车下陡坡时，不得超车。

答案：√

题 64　车辆在下坡行驶时，可充分利用空档滑行。

答案：×

解析：车辆下坡时空档滑行，会增加行车制动的负担，不利于行车安全。

题 65　车辆在山区上坡路驾驶，减档要及时、准确、迅速，避免拖档行驶导致发动机动力不足。

答案：√

（3）山区弯道安全行车

题 66　车辆在通过山区道路弯道时，要做到“减速、鸣喇叭、靠右行”。

答案：√

题 67　山区道路车辆进入弯道前，在对面没有来车的情况下，应怎样做？

A. 可靠弯道外侧行驶

B. 可短时间借用对方的车道

C. 可加速沿弯道切线方向通过

D. 应“减速、鸣喇叭、靠右行”

答案：D

题 68　驾驶车辆行至道路急转弯处，应怎样做？

A. 急剧制动低速通过

B. 靠弯道外侧行驶

C. 充分减速并靠右侧行驶

D. 借对向车道行驶

答案：C

题 69　车辆转弯时应沿道路右侧行驶，不要侵占对方的车道，做到“左转转大弯，右转转小弯”。

答案：√

题 70　车辆行至急转弯处时，应减速并靠右侧行驶，防止与越过弯道中心线的对方车辆相撞。

答案：√

题 71　车辆进入山区道路后，要特别注意“连续转弯”标志，并主动避让车辆及行人，适时减速和提前鸣喇叭。

答案：√

（4）山区窄道安全行车

题 72　车辆在较窄的山路上行驶时，如果靠山体的一方不让行，应怎样做？

A. 鸣喇叭催其让行

B. 保持正常车速行驶

C. 提前减速或停车避让

D. 向左占道，谨慎驶过

答案：C

（5）山区险道安全行车

题 73　通过山区危险路段，尤其是通过经常发生塌方、泥石流的山区地段，应谨慎驾驶，避免停车。

答案：√

题 74　通过经常发生塌方、泥石流的山区地段，避免停车。

答案：√

（四）高速公路安全行车

【考点归纳】高速公路安全行车考点见表 2-3-4。

表 2-3-4　高速公路安全行车考点

序　号	项　目	考　点
1	高速公路驶入与驶离	（1）车辆在驶入收费站前，应密切注视通道上方的灯光信号，选择绿灯通道进入收费口。当驶近收费站时，要减速缓行，依次排队，按次序交费通过，切勿急于通过而争道抢行 （2）汽车驶离高速公路，要注意观察出口预告标志，如因疏忽驶过出口，应继续向前行驶，寻找下一个出口。当汽车按出口预告标志进入与出口相连接的车道时，应减速行驶，打开右转向灯，做好进入减速车道的准备。进入减速车道后，应关闭转向灯，利用制动器并配合以发动机制动使车辆减速。在到达减速车道与出口匝道分流点的三角地带端部之前，将车速降低到 40km/h 左右，然后进入出口匝道

（续）

序　号	项　目	考　点
2	高速公路匝道和加速车道安全行驶	（1）车辆经匝道驶入加速车道，在匝道上不准超车、停车、倒车和掉头 （2）车辆进入加速车道后，应尽快将车速提高到 60 公里 / 小时以上，并开启左转向灯，从车外及车内后视镜仔细观察后面行车道上的车辆，正确估计车流速度，调整和控制好车速，在不妨碍正在行车道上行驶的车辆的情况下，适时驶入行车道
3	高速公路车道选择	（1）在同向 4 车道高速公路上，以沿机动车行驶方向左侧算起： 第一车道为小客车道，最高限速 120 公里 / 小时，最低限速 110 公里 / 小时 第二车道为小客车道，最高限速 120 公里 / 小时，最低限速 90 公里 / 小时 第三车道为客货车道，最高限速 100 公里 / 小时，最低限速 80 公里 / 小时 第四车道为客货车道，最高限速 100 公里 / 小时，最低限速 60 公里 / 小时 最右侧车道为应急车道 （2）在高速公路上行车必须严格遵守分道行驶原则，所有车辆都应按照标志或标线规定的车道和车速行驶 （3）应急车道或路肩主要用于车辆遇到紧急情况临时停放，非紧急情况时不得在应急车道或路肩行驶、停车
4	高速公路行车道安全行驶	（1）在高速公路上行驶，要注意控制行驶速度。最高车速不得超过 120 公里 / 小时，最低车速不得低于 60 公里 / 小时。行车速度的确认，必须依据车速表，切不可过分相信自己的估计 （2）在高速公路上行驶，应保持合适的行车间距。以 100 公里 / 小时的速度行驶时，距同车道前车 100 米以上为安全距离 （3）车辆在高速公路上行驶，不要频繁变更车道。需要变更车道时，应提前开启转向灯，观察情况，确认安全后，驶入需要变更的车道 （4）车辆在高速公路上遇前方交通受阻时，应当跟随前车顺序排队，并立即开启危险报警闪光灯，防止追尾 （5）车辆在高速公路上要防止爆胎，如行驶在平坦的路面上，突然有颠簸的感觉，应迅速降低车速，以防止轮胎爆破 （6）在高速公路上行驶，无特殊情况，不准随意停车。如因故障需要临时停车检修时，必须提前开启右转向灯驶离行车道，停在紧急停车带内或者右侧路肩上。如果汽车不能离开行车道，应立即开启危险警告灯，并在行车方向的后方 150 米以外设置故障车警告标志

【相关试题】

（1）高速公路驶入与驶离

题 75　驶入高速公路的收费口时，应选择怎样的入口？

A. 车辆多　　B. 红灯亮

C. 绿灯亮　　D. 暂停服务

答案：C

题 76　车辆驶离高速公路时，应当经减速车道减速后进入匝道。

答案：√

题 77　高速公路上行车，如果因疏忽驶过出口，应怎样做？

A. 立即停车

B. 在原地掉头

C. 在原地倒车驶回

D. 继续向前行驶，寻找下一个出口

答案：D

（2）高速公路匝道和加速车道安

全行驶

题 78　车辆在高速公路匝道上可以停车。

答案：×

解析：依据《实施条例》第 82 条，车辆不得在高速公路匝道上停车。

题 79　车辆不得在高速公路匝道上掉头。

答案：√

题 80　车辆不得在高速公路匝道上倒车。

答案：√

题 81　车辆驶入匝道后，迅速将车速提高到 60 公里 / 小时以上。

答案：×

解析：匝道大多为弯道，车速一般不要超过 40 公里 / 小时，提速应在加速车道进行。

题 82　驾驶车辆进入高速公路加速车道后，应尽快将车速提高到多少公里 / 小时以上？

A. 50　B. 60　C. 30　D. 40

答案：B

题 83　车辆在高速公路匝道提速到 60 公里 / 小时以上时，可直接驶入行车道。

答案：×

解析：匝道大多为弯道，车速不宜过快，所以不能在匝道提速直接驶入行车道。

（3）高速公路车道选择

题 84　在标志、标线齐全的高速公路上行车，应当按照什么规定的车道和车速行驶？

A. 标志或标线

B. 《道路交通安全法》

C. 车辆说明书

D. 地方法规

答案：A

题 85　在同向 4 车道高速公路上行车，车速高于 110 公里 / 小时的车辆应在哪条车道上行驶？

A. 最左侧　B. 第二条

C. 最右侧　D. 第三条

答案：A

题 86　机动车在高速公路行驶，下列做法正确的是？

A. 非紧急情况时不得在应急车道行驶或者停车

B. 可在减速车道或加速车道上超车、停车

C. 可在紧急停车带停车装卸货物

D. 可在路肩停车上下人员

答案：A

题 87　车辆应靠高速公路右侧的路肩上行驶。

答案：×

解析：路肩只有遇到紧急情况才能使用，非紧急情况不得在路肩上行驶。

题 88　高速公路因发生事故造成堵塞时，可在右侧紧急停车带或路肩行驶。

答案：×

解析：高速公路堵塞时，右侧紧急停车带或路肩仅供救援等执行紧急公务的车辆使用，其他社会车辆不得使用。

（4）高速公路行车道安全行驶

题 89　《实施条例》规定，高速

公路上最高时速不得超过 120 公里。因此在高速公路上行驶只要时速不超过 120 公里就不违法。

答案：×

提示：当时速低于 60 公里时，当遇有低于 120 公里 / 小时的限速标志时，当遇恶劣气象时，题库中试题的说法均不正确。

题 90　车辆在高速公路行驶时，可以仅凭感觉确认车速。

答案：×

解析：车速应通过车速表来确认，不能仅凭感觉。

题 91　车辆在高速公路以 100 公里 / 小时的速度行驶时，距同车道前车 100 米以上为安全距离。

答案：√

题 92　车辆在高速公路上行车，可以频繁地变更车道。

答案：×

解析：高速公路车辆多，车速快，频繁变更车道非常危险。

题 93　在高速公路变更车道时，应提前开启转向灯，观察情况，确认安全后，驶入需要变更的车道。

答案：√

题 94　行驶在高速公路上遇大雾视线受阻时，应当立即紧急制动停车。

答案：×

解析：遇到题中情形，应逐渐减速停车，不能立即紧急制动。

题 95　机动车在高速公路上遇前方交通受阻时，应当跟随前车顺序排队，并立即开启危险报警闪光灯，防止追尾。

答案：√

题 96　小型客车行驶在平坦的高速公路上，突然有颠簸感觉时，应迅速降低车速，防止爆胎。

答案：√

题 97　在高速公路上遇分流交通管制时，可不驶出高速公路，就地靠边停靠等待管制结束后继续前行。

答案：×

解析：高速公路的分流交通管制就是指在高速公路上遇到紧急情况后，将后续来车在匝道口进行管制通行，避免次生事故和交通拥堵。为此，在匝道口的车辆都应驶出高速公路。

题 98　在高速公路上行驶感觉疲劳时，应立即停车休息。

答案：×

解析：高速公路上不准停车，感觉疲劳时，应到最近的服务区停车休息。

题 99　车辆因故障必须在高速公路停车时，应在车后方至少多少米处设置故障警告标志，夜间还需开启示廓灯和后位灯？

A. 150　B. 200　C. 100　D. 50

答案：A

（五）恶劣气候条件下安全行车

【考点归纳】恶劣气候条件下安全行车考点见表 2-3-5。

表 2-3-5 恶劣气候条件下安全行车考点

序号	项目	考点
1	雨天安全行车	下雨天气，路面湿滑，视线受阻，为确保安全行车应掌握以下要点： （1）雨天行车，一定要保证刮水器工作正常。在暴雨天气驾车，刮水器无法刮净雨水时，应立即减速靠边停车 （2）雨天行车，天气昏暗时，应开启近光灯。在雨天临时停车时，应开启危险报警闪光灯 （3）雨天道路湿滑，应严格控制车速，适当加大与前车的距离 （4）汽车转弯，应慢转转向盘，少打少回，防止方向打动过急，增加汽车侧向惯性，引发侧滑 （5）雨天应多采用发动机牵制作用降低车速，使用制动要轻踏快抬，尽量避免使用紧急制动，以防造成车轮抱死导致汽车侧滑 （6）在大雨天行车，路面上会有积水，使胎面和路面间形成一层水膜，汽车高速行驶时易发生“水滑”现象，为此应控制车速 （7）久雨或暴雨天气可能造成道路、桥梁损坏，要注意路基疏松和可能出现坍塌。在傍山路、堤路或沿河道上，不宜靠边行驶或停车 （8）暴雨天气，一些低洼路段容易产生积水，无法观察到暗坑和凸起的路面。行车中应选用低速档，减速慢行。涉水后，应保持低速行驶，间断轻踏制动踏板，把制动蹄（片）与制动毂（盘）接触面上的水挤出，并靠制动时产生的热能使水尽快挥发，以恢复制动效能 （9）下雨后一些泥土路面变成了泥泞道路，车辆行驶阻力大，附着力减小，车轮极易滑转和侧滑。车辆行至泥泞或翻浆路段时，应选择平整、坚实的路段缓慢通过。行车中应保持匀速行进，需减速或停车时，应尽量利用发动机的牵阻作用，以防汽车制动时，车轮易发生侧滑或甩尾，导致交通事故
2	雾天安全行车	雾天能见度低，视线不清，使驾驶人难以全面了解道路和交通情况，为确保行车安全应掌握以下要点： （1）雾天行车时，应及时开启雾灯。遇有浓雾或特大雾天能见度过低，行车困难时，应开启危险报警闪光灯和雾灯，选择安全地点停车 （2）雾中行车，应多鸣号，以引起前后车辆及行人的注意。听到来车喇叭声时，也应鸣号反应，让对方知道。会车时，除了鸣喇叭外，还可开关灯光示意，以免发生碰擦撞车事故 （3）雾中行车时，因能见度低，盲区大，视线不清，一定要严格遵守雾天限速规定，千万不可开快车 （4）雾天跟车应加大间距，并密切注意前车动态，适当控制车速 （5）雾天行车，应选择宽阔的路段和地点会车，严禁超越正在行驶的前方车辆 （6）雾中行车发生道路堵塞时，应立即停车，打开危险警告灯
3	雪天安全行车	下雪天，飞舞的雪花阻碍驾驶人的视线，道路变成冰雪路面，为确保行车安全，驾驶人应掌握以下要点： （1）雪天能见度低，行车中应开启近光灯。在雪天临时停车时，应开启危险报警闪光灯 （2）雪天行车中，在有车辙的路段应循车辙行驶 （3）在冰雪路面上行车，制动性能差，方向易跑偏，为此行车中应降低车速，缓慢转向，并加大安全距离

（续）

序　号	项　目	考　点
3	雪天安全行车	（4）冰雪道路行车，由于积雪对光线的反射，极易造成驾驶人目眩而产生错觉，为此行车中要注意观察，谨慎驾驶 （5）在冰雪道路上行车时，车辆的稳定性降低，加速过急时车轮极易空转或溜滑 （6）车辆在冰雪路面紧急制动易产生侧滑，应低速行驶，可利用发动机制动进行减速 （7）在山区冰雪道路上行车，遇有前车正在爬坡时，后车应选择适当地点停车，等前车通过后再爬坡

【相关试题】

（1）雨天安全行车

题 100　雨天对安全行车的主要影响是什么？

A. 路面湿滑，视线受阻

B. 发动机易熄火

C. 行驶阻力增大

D. 电器设备易受潮短路

答案：A

题 101　下雨后路面湿滑，车辆行驶中紧急制动时，容易导致什么？

A. 发生侧滑、引发交通事故

B. 因视线模糊而撞车

C. 不被其他车辆驾驶人发现

D. 引起发动机熄火

答案：A

题 102　雨天路面湿滑，车辆制动距离增大，行车中尽量使用紧急制动减速。

答案：×

解析：在湿滑的路面上不能使用紧急制动，否则会发生侧滑。

题 103　车辆在雨天临时停车时，应开启什么灯？

A. 前后雾灯　　B. 危险报警闪光灯

C. 前照灯　　D. 倒车灯

答案：B

题 104　在暴雨天气驾车，刮水器无法刮净雨水时，应怎样做？

A. 集中注意力谨慎驾驶

B. 立即减速靠边停车

C. 以正常速度行驶

D. 减速行驶

答案：B

题 105　连续降雨天气，山区公路可能会出现路肩疏松和堤坡坍塌现象，行车时应选择道路中间坚实的路面，避免靠近路边行驶。

答案：√

题 106　在大雨天行车，为避免发生“水滑”而造成危险，要控制速度行驶。

答案：√

题 107　在这种雨天跟车行驶使用灯光，以下做法正确的是？

A. 使用远光灯

B. 不能使用近光灯

C. 不能使用远光灯

D. 使用雾灯

答案：C

题 108　水淹路面影响行车安全，不易通行的原因是什么？

A. 路面附着力增大

B. 无法观察到暗坑和凸起的路面

C. 能见度低，视野模糊

D. 日光反射阻挡视线

答案：B

题 109　漫水道路行车时，应挂高速档，快速通过。

答案：×

解析：在漫水道路行车时，若车速过快，水花会溅湿电器设备，造成短路。

题 110　驾驶人在行车中经过积水路面时，应怎样做？

A. 减速慢行

B. 保持正常车速通过

C. 空档滑行通过

D. 加速通过

答案：A

题 111　车辆涉水后，应保持低速行驶，怎样操作制动踏板，以恢复制动效果？

A. 持续重踏　　B. 间断重踏

C. 持续轻踏　　D. 间断轻踏

答案：D

题 112　泥泞道路对安全行车的主要影响是什么？

A. 行驶阻力变小

B. 车轮极易滑转和侧滑

C. 能见度低，视野模糊

D. 路面附着力增大

答案：B

题 113　在泥泞路上制动时，车轮易发生侧滑或甩尾，导致交通事故。

答案：√

题 114　车辆行至泥泞或翻浆路段时，应停车观察，选择平整、坚实的路段缓慢通过。

答案：√

（2）雾天安全行车

题 115　雾天对安全行车的主要影响是什么？

A. 发动机易熄火

B. 易发生侧滑

C. 能见度低，视线不清

D. 行驶阻力增大

答案：C

题 116　雾天行车时，应及时开启什么灯？

A. 倒车灯　　B. 近光灯

C. 雾灯　　D. 远光灯

答案：C

题 117　遇有浓雾或特大雾天能见度过低，行车困难时，应怎样做？

A. 开启前照灯，继续行驶

B. 开启示廓灯、雾灯，靠右行驶

C. 开启危险报警闪光灯，继续行驶

D. 开启危险报警闪光灯和雾灯，选择安全地点停车

答案：D

题 118　浓雾天气能见度低，开启远光灯会提高能见度。

答案：×

解析：浓雾天气应开启雾灯，若开启远光灯，浓雾会对灯光反射，使驾驶人视线模糊。

题 119　雾天行车多使用喇叭可引起对方注意；听到对方车辆鸣喇叭，也应鸣喇叭回应。

答案：√

（3）雪天安全行车

题 120　冰雪道路对安全行车的主要影响是什么？

A. 电器设备易受潮短路

B. 能见度降低，视野模糊

C. 行驶阻力增大

D. 制动性能差，方向易跑偏

答案：D

题 121　冰雪路行车时应注意什么？

A. 制动距离延长

B. 抗滑能力变大

C. 制动性能没有变化

D. 路面附着力增大

答案：A

题 122　车辆在雪天临时停车时，应开启什么灯？

A. 前后雾灯　　B. 倒车灯

C. 前照灯　　D. 危险报警闪光灯

答案：D

题 123　雪天行车中，在有车辙的路段应循车辙行驶。

答案：√

题 124　在这种天气条件下行车如何使用灯光？

A. 使用近光灯　B. 不使用灯光

C. 使用远光灯　D. 使用雾灯

答案：A

题 125　冰雪道路行车，由于积雪对光线的反射，极易造成驾驶人目眩而产生错觉。

答案：√

题 126　在冰雪道路上行车时，车辆的稳定性降低，加速过急时车轮极易空转或溜滑。

答案：√

题 127　在山区冰雪道路上行车，遇有前车正在爬坡时，后车应怎样做？

A. 低速爬坡

B. 紧随其后爬坡

C. 选择适当地点停车，等前车通过后再爬坡

D. 迅速超越前车

答案：C

题 128　在冰雪路面上行车，必须降低车速、加大安全距离。

答案：√

题 129　车辆在冰雪路面紧急制动易产生侧滑，应低速行驶，可利用发动机制动进行减速。

答案：√

（六）夜间安全行车

【考点归纳】夜间安全行车考点见表 2-3-6。

表 2-3-6 夜间安全行车考点

序号	项目	考点
1	夜间行车特点	（1）夜间能见度低、不利于观察道路交通情况 （2）夜间驾驶人对物体的观察明显比白天差，视距变短 （3）夜间行车，驾驶人视距变短，影响观察，同时注意力高度集中，易产生疲劳 （4）夜间行车，驾驶人的视野受限，很难观察到灯光照射区域以外的交通情况，因此要减速行驶
2	夜间行车灯光使用方法	（1）夜间起步前，应当先开启近光灯 （2）夜间车辆通过照明条件良好的路段时，应使用近光灯。通过没有路灯或路灯照明不良时，应将近光灯转换为远光灯，但同向行驶的后车不得使用远光灯 （3）夜间通过无交通信号灯控制的交叉路口时，应变换远、近光灯，以让来车知道前方有车，注意安全 （4）夜间行车中，前方出现弯道时，灯光照射会由路中移到路侧，应提前变换远、近光灯示意 （5）夜间在道路上遇到对向来车，应在 150 米以外将远光灯改用近光灯。会车时，若对方车辆不关闭远光灯，可变换灯光提示对向车辆，同时减速靠右侧行驶或停车，以防两车灯光的交汇处有行人通过时发生事故 （6）夜间尾随前车行驶时，后车应使用近光灯

【相关试题】

（1）夜间行车特点

题 130 夜间道路环境对安全行车的主要影响是什么？

A. 驾驶人体力下降

B. 驾驶人易产生冲动、幻觉

C. 能见度低、不利于观察道路交通情况

D. 路面复杂多变

答案：C

题 131 夜间驾驶人对物体的观察明显比白天差，视距会有什么变化？

A. 不变　　B. 无规律

C. 变长　　D. 变短

答案：D

题 132 夜间行车，驾驶人视距变短，影响观察，同时注意力高度集中，易产生疲劳。

答案：√

题 133 夜间行车，驾驶人的视野受限，很难观察到灯光照射区域以外的交通情况，因此要减速行驶。

答案：√

题 134 夜间驾驶人对事物的观察能力明显比白天差，视距变短。

答案：√

（2）夜间行车灯光使用方法

题 135 夜间起步前，应当先开启近光灯。

答案：√

题 136 夜间车辆通过照明条件良好的路段时，应使用什么灯？

A. 危险报警闪光灯　　B. 远光灯

C. 近光灯　　D. 雾灯

答案：C

题 137 夜间行车中，前方出现弯

道时，灯光照射会发生怎样的变化？

A. 离开路面

B. 由路中移到路侧

C. 距离不变

D. 由高变低

答案：B

题 138　夜间在道路上会车时，距离对向来车多远将远光灯改用近光灯？

A. 不必变换灯光　B. 150 米以外

C. 100 米以内　D. 50 米以内

答案：B

题 139　夜间会车时，若对方车辆不关闭远光灯，可变换灯光提示对向车辆，同时减速靠右侧行驶或停车。

答案：√

题 140　夜间行车，遇对面来车未关闭远光灯时，应减速行驶，以防两车灯光的交汇处有行人通过时发生事故。

答案：√

题 141　夜间尾随前车行驶时，后车可以使用远光灯。

答案：×

解析：依据《实施条例》第 58 条，同方向行驶的后车与前车近距离行驶时，不得使用远光灯。

题 142　夜间通过没有路灯或路灯照明不良时，应将近光灯转换为远光灯，但同向行驶的后车不得使用远光灯。

答案：√

题 143　夜间通过无交通信号灯控制的交叉路口时，不得变换远、近光灯。

答案：×

解析：依据《实施条例》第 59 条，夜间通过没有交通信号灯控制的路口时，应当交替使用远近光灯示意。

题 144　夜间行车，要尽量避免超车，确需超车时，可变换远近光灯向前车示意。

答案：√

（七）轮胎爆裂避险知识

【考点归纳】轮胎爆裂避险知识考点见表 2-3-7。

表 2-3-7　轮胎爆裂避险知识考点

序　号	项　目	考　点
1	轮胎漏气	（1）驾驶人发现轮胎漏气，将车辆驶离主车道时，不要采用紧急制动，以免造成翻车或后车采取制动不及时导致追尾事故 （2）轮胎气压过低，高速行驶时轮胎会出现波浪变形，使轮胎温度升高，从而导致爆胎。所以，降低轮胎气压，是避免爆胎的错误做法
2	爆胎	（1）汽车在行驶中，如果前轮爆胎，危险较大，方向会立刻向爆胎车轮一侧跑偏，直接影响驾驶人对转向盘的控制。如已发生转向，驾驶人应双手紧握转向盘，尽力控制车辆直线行驶，同时松开加速踏板，迅速挂入低速档，轻踏制动踏板，使车辆缓慢减速 （2）汽车在行驶中，如果后轮爆胎，车尾会摇摆不定，产生一股轻微的力量，使汽车倾向爆胎的那一边。此时驾驶人应双手紧握转向盘，控制车辆保持直线行驶，减速停车 总之，发现爆胎后，应先控制住方向，然后再采取制动措施，使车辆缓慢减速停车。但要注意，切忌使用紧急制动

【相关试题】

（1）轮胎漏气

题 145　驾驶人发现轮胎漏气，将车辆驶离主车道时，不要采用紧急制动，以免造成翻车或后车采取制动不及时导致追尾事故。

答案：√

题 146　轮胎气压过低时，高速行驶轮胎会出现波浪变形温度升高而导致什么？

A. 气压更低　　B. 行驶阻力增大

C. 爆胎　　D. 气压不稳

答案：C

题 147　避免爆胎的错误的做法是什么？

A. 降低轮胎气压

B. 定期检查轮胎

C. 更换有裂纹或有很深损伤的轮胎

D. 及时清理轮胎沟槽里的异物

答案：A

（2）爆胎

题 148　车辆前轮胎爆裂，危险较大，方向会立刻向爆胎车轮一侧跑偏，直接影响驾驶人对转向盘的控制。

答案：√

题 149　行车中当车辆前轮爆胎已发生转向时，驾驶人应双手紧握转向盘，尽力控制车辆直线行驶。

答案：√

题 150　前轮胎爆裂已出现转向时，驾驶人不要过度矫正，在控制住方向的情况下，应怎样做，使车辆缓慢减速？

A. 采取紧急制动

B. 使用驻车制动

C. 轻踏制动踏板

D. 迅速踏下制动踏板

答案：C

题 151　车辆后轮胎爆裂，车尾会摇摆不定，驾驶人应双手紧握转向盘，控制车辆保持直线行驶，减速停车。

答案：√

题 152　行车中当驾驶人意识到爆胎时，应在控制住方向的情况下，轻踏制动踏板，使车辆缓慢减速，逐渐平稳地停靠于路边。

答案：√

题 153　行车中当车辆突然爆胎时，驾驶人切忌慌乱中急踏制动踏板，尽量采用“抢档”的方法，利用发动机制动使车辆减速。

答案：√

题 154　车辆发生爆胎后，驾驶人在尚未控制住车速前，不要冒险使用行车制动器停车，以避免车辆横甩发生更大的险情。

答案：√

题 155　行车中当驾驶人意识到车辆爆胎时，应在控制住方向的情况下采取紧急制动，迫使车辆迅速停住。

答案：×

解析：先方向后制动是对的，但采取紧急制动，迅速停车是错误的。

（八）文明行车

【考点归纳】文明行车考点见表 2-3-8。

表 2-3-8　文明行车考点

序　号	项　目	考　点	
1	文明驾驶	一个合格的驾驶人，不仅表现在技术的娴熟上，更重要的是应该具有良好的驾驶行为习惯和道德修养。具体应做到： （1）驾驶人不得赤背、光脚、穿拖鞋驾驶车辆。女驾驶人不得穿高跟鞋驾驶车辆 （2）驾驶车辆时，不要接听手机或发短信；不要向车外吐痰或扔弃废物；不得一边驾车，一边吸烟 （3）驾驶车辆时，驾驶人不得长时间左臂搭在车门窗上，或者长时间右手抓住变速器操纵杆球头 （4）经过不允许鸣喇叭的路段，应注意安全，禁止鸣喇叭；行经没有禁止鸣喇叭的路段时，驾驶人应尽可能地少鸣喇叭，以免影响他人 （5）车辆起步、转向、变更车道、超车、停车前应打开转向灯。夜间在市区照明良好条件下行车，不开远光灯，会车时及时变换近光灯 （6）雨天遇撑雨伞和穿雨衣的行人在公路上行走时，应提前鸣喇叭，并适当降低车速。当汽车经过积水路面，应特别注意减速慢行，以免泥水飞溅到道路两侧行人身上	
2	文明礼让	遇机动车的礼让	（1）行车中应要礼让三先：先慢、先让、先停。做到不开英雄车、冒险车、赌气车和带病车。遇到复杂情况时，应做到“宁停三分，不抢一秒” （2）车辆在拥挤路段低速行驶时，不要与其他车辆争道强行。发现前方道路拥堵，应减速停车，依次排队等候 （3）行车中遇到执行任务的特种车辆应主动避让 （4）行车中遇到违法行驶、占道抢行、强行超车等不讲文明礼貌的行为时，应以安全为重，尽可能减速避让直至停车
		遇行人的礼让	（1）车辆驶近人行横道时，应注意观察行人动态，不得与行人争道抢行 （2）行车中遇到老人、儿童或残疾人时，应减速慢行，确认安全后通过，以免行人受到惊吓，发生意外 （3）行车中，发现行人突然横过道路时，应迅速减速避让
		遇非机动车的礼让	（1）行车中，超越同向行驶的自行车时，应注意观察动态，减速慢行，留有足够的安全距离 （2）行车中，前方遇自行车影响通行时，可鸣喇叭提示，减速紧随其后，道路宽度允许通过时谨慎通过 （3）行车中，遇非机动车抢行时，应减速让行 （4）行车中，遇有非机动车准备绕过停放的车辆时，应让其先行 （5）夜间驾驶车辆遇自行车对向驶来时，应使用近光灯，减速或停车避让
3	助人为乐	（1）行车中遇有前方发生交通事故，需要帮助时，应协助保护现场，并立即报警。 （2）行车中遇交通事故受伤者需要抢救时，应及时将伤者送医院抢救或拨打急救电话	

【相关试题】

（1）文明驾驶

题 156　一个合格的驾驶人，不仅表现在技术的娴熟上，更重要的是应该具有良好的驾驶行为习惯和道德修养。

答案：√

题 157　驾驶人一边驾车，一边打手持电话是违法行为。

答案：√

题 158　女驾驶人穿高跟鞋驾驶车辆，不利于安全行车。

答案：√

题 159　驾驶车辆时，长时间左臂搭在车门窗上，或者长时间右手抓住变速器操纵杆，是一种驾驶陋习。

答案：√

题 160　驾驶人一边驾车，一边吸烟对安全行车无影响。

答案：×

解析：开车时吸烟有四点主要危害：一是掏烟、掏火、点火、放火机、抖烟灰等动作都需要腾出一只手，从而影响到正常的驾驶操作；二是烟雾会影响驾驶人视线；三是烟雾造成车内污染，导致身体不适；四是易引发火灾。可见，驾驶人一边驾车，一边吸烟对安全行车影响很大。

题 161　谨慎驾驶的三原则是集中注意力、仔细观察和提前预防。

答案：√

题 162　驾驶人在观察后方无来车的情况下，未开转向灯就变更车道也是合理的。

答案：×

解析：要形成良好的驾驶习惯，才能防患未然。

题 163　雨天行车，遇撑雨伞和穿雨衣的行人在公路上行走时，应怎样做？

A. 持续鸣喇叭示意其让道

B. 加速绕行

C. 提前鸣喇叭，并适当降低车速

D. 以正常速度行驶

答案：C

题 164　驾驶人在行车中经过积水路面时，应怎样做？

A. 保持正常车速通过

B. 低档加速通过

C. 特别注意减速慢行

D. 迅速加速通过

答案：C

题 165　当驾驶车辆行经两侧有行人且有积水的路面时，应怎样做？

A. 加速通过　　B. 正常行驶

C. 连续鸣喇叭　　D. 减速慢行

答案：D

题 166　当驾驶车辆行经两侧有非机动车行驶且有积水的路面时，应怎样做？

A. 减速慢行　　B. 正常行驶

C. 加速通过　　D. 连续鸣喇叭

答案：A

（2）文明礼让

1）遇机动车的礼让

题 167　机动车在环形路口内行驶，遇有其他车辆强行驶入时，只要有优先权就可以不避让。

答案：×

解析：要时刻记住安全第一，礼让三先，做到既“得理”，又“饶人”。

题 168　车辆行至交叉路口，遇有转弯的车辆抢行，应怎样做？

A. 提高车速抢先通过

B. 鸣喇叭抢先通过

C. 停车避让

D. 保持正常车速行驶

答案：C

题 169　车辆在交叉路口绿灯亮后，遇非机动车抢道行驶时，可以不让行。

答案：×

解析：记住遇到弱势群体（非机动车、行人等）都要让行。

题 170　会车中遇到对方来车行进有困难需借道时，应怎样做？

A. 靠右侧加速行驶

B. 尽量礼让对方先行

C. 不侵占对方道路，正常行驶

D. 示意对方停车让行

答案：B

题 171　行车中遇到对向来车占道行驶，应怎样做？

A. 逼对方靠右行驶

B. 用大灯警示对方

C. 主动给对方让行

D. 紧靠道路中心行驶

答案：C

题 172　遇到路口情况复杂时，应做到“宁停三分，不抢一秒”。

答案：√

题 173　行车中要文明驾驶，礼让行车，做到不开英雄车、冒险车、赌气车和带病车。

答案：√

题 174　行车中遇抢救伤员的救护车从本车道逆向驶来时，应怎样做？

A. 靠边减速或停车让行

B. 占用其他车道行驶

C. 加速变更车道避让

D. 在原车道内继续行驶

答案：A

题 175　行车中发现前方道路拥堵时，应怎样做？

A. 寻找机会超越前车

B. 从车辆空间穿插通过

C. 减速停车，依次排队等候

D. 鸣喇叭催促

答案：C

题 176　发现前方道路堵塞，正确的做法是什么？

A. 按顺序停车等候

B. 鸣喇叭示意前方车辆快速行驶

C. 选择空当逐车超越

D. 继续穿插绕行

答案：A

题 177　车辆在拥挤路段低速行驶时，遇其他车辆强行插队，应怎样做？

A. 鸣喇叭警告，不得进入

B. 加速行驶，紧跟前车，不让其进入

C. 挤靠“加塞”车辆，逼其离开

D. 主动礼让，确保行车安全

答案：D

题 178　行车中突遇对方车辆强行超车，占据自己车道，正确的做法是什么？

A. 挡住其去路

B. 保持原车速行驶

C. 尽可能减速避让直至停车

D. 加速行驶

答案：C

题 179　行车中突遇对向车辆强行超车，占据自己车道时，可不予避让，迫使对方让路。

答案：×

解析：题中做法很不安全，如对向车辆来不及让路，就将造成撞车事故。

2）遇行人的礼让

题 180　行人参与道路交通的主要特点是什么？

A. 喜欢聚集、围观

B. 稳定性差

C. 行走随意性大，方向多变

D. 行动迟缓

答案：C

题 181　行车中遇儿童时，应怎样做？

A. 减速慢行，必要时停车避让

B. 长鸣喇叭催促

C. 迅速从一侧通过

D. 加速绕行

答案：A

题 182　驾驶人行车中看到注意儿童标志的时候，应怎样做？

A. 加速行驶

B. 绕道行驶

C. 保持正常车速行驶

D. 谨慎选择行车速度

答案：D

题 183　行车中遇残疾人影响通行时，应主动减速礼让。

答案：√

题 184　行车中，发现行人突然横过道路时，应迅速减速避让。

答案：√

3）遇非机动车的礼让

题 185　行车中遇有非机动车准备绕过停放的车辆时，应怎样做？

A. 鸣喇叭示意其让道

B. 让其先行

C. 紧随其后鸣喇叭

D. 加速绕过

答案：B

题 186　行车中，遇非机动车抢行时，应怎样做？

A. 加速通过

B. 鸣喇叭警告

C. 减速让行

D. 临近时突然加速

答案：C

题 187　行车中超越同向行驶的自行车时，应怎样做？

A. 连续鸣喇叭提醒其让路

B. 持续鸣喇叭并加速超越

C. 让自行车先行

D. 注意观察动态，减速慢行，留有足够的安全距离

答案：D

题 188　夜间驾驶车辆遇自行车对向驶来时，应怎样做？

A. 连续变换远、近光灯

B. 不断鸣喇叭

C. 使用近光灯，减速或停车避让

D. 使用远光灯

答案：C

题 189　行车中前方遇自行车影响通行时，可鸣喇叭提示，加速绕行。

答案：×

解析：“加速绕行”容易导致交通事故。

（3）助人为乐

题 190　行车中遇有前方发生交通事故，需要帮助时，应怎样做？

A. 尽量绕道躲避

B. 立即报警，停车观望

C. 协助保护现场，并立即报警

D. 加速通过，不予理睬

答案：C

题 191　行车中遇交通事故受伤者需要抢救时，应怎样做？

A. 及时将伤者送医院抢救或拨打急救电话

B. 尽量避开，少惹麻烦

C. 绕过现场行驶

D. 借故避开现场

答案：A

四、机动车驾驶操作相关基础知识

（一）汽车仪表

【考点归纳】汽车上仪表主要有发动机转速表、车速里程表、燃油表、水温表、电流表和机油压力表等，一般轿车上只有发动机转速表、车速里程表、燃油表和水温表，各种仪表的作用与读表方法见表 2-4-1。

表 2-4-1　各种仪表的作用与读表方法

名　称	发动机转速表	车速里程表	水　温　表	燃　油　表
图形				
作用及读表方法	用以显示发动机转速，表上标有红色警戒区，发动机转速不得超过红色警戒区域	用以显示行驶速度和行驶里程。表中指针所指的圆圈刻数为行驶速度，方框中上端数字为累计行驶总里程，方框中下端数字为一天或某段区间的里程	用以显示发动机冷却液的温度。标有字母“H”、“C”的水温表，指针指向“H”区表示温度过热，指向“C区表示温度过低，指向两个字母之间位置表示温度正常	用以显示油箱内存油量。表上标有“0”、“1/2”、“1”三个读数，分别表示“空”、“一半”、“满”。进口汽车燃油表指针指向“F”表示满，指向“E”表示空

【相关试题】

题 1　这个仪表是何含义？

A. 发动机转速表

B. 行驶速度表

C. 区间里程表

D. 百公里油耗表

答案：A

题 2　这个仪表是何含义？

A. 速度和里程表

B. 发动机转速表

C. 最高时速值表

D. 百公里油耗表

答案：A

题 3　这个仪表是何含义？

A. 水温表
B. 燃油表
C. 电流表
D. 压力表

答案：A

题 4　这个仪表是何含义？

A. 压力表
B. 电流表
C. 水温表
D. 燃油表

答案：D

题 5　仪表显示当前车速是 20 公里 / 小时。

答案：×

解析：此图为发动机转速表，不可能显示当前车速。

题 6　仪表显示当前发动机转速是 6000 转 / 分钟。

答案：×

解析：此图为速度和里程表，不可能显示当前发动机转速。

题 7　仪表显示当前冷却液的温度是 90℃。

答案：√

题 8　仪表显示油箱内存油量已在警告线以内。

答案：√

（二）汽车指示灯

【考点归纳】常用汽车指示灯的含义如图 2-4-1 所示。

【相关试题】

题 9　机动车仪表板上（如图所示）亮表示什么？

A. 后雾灯打开
B. 前照灯近光打开
C. 前照灯远光打开
D. 前雾灯打开

答案：D

题 10　机动车仪表板上（如图所示）亮表示什么？

A. 后雾灯打开
B. 前照灯近光打开
C. 前照灯远光打开
D. 前雾灯打开

答案：A

题 11　机动车仪表板上（如图所示）亮表示什么？

A. 前后雾灯开启
B. 前后位置灯开启
C. 前照灯开启
D. 危险报警闪光灯开启

答案：B

左转向指示灯闪烁	右转向指示灯闪烁	前雾灯开启	后雾灯开启	已开启前照灯近光	已开启前照灯远光
前后位置灯开启	车灯总开关	危险报警闪光灯闪烁	制动系统出现异常	驻车制动器处于制动状态	防抱死制动系统故障
发动机机油压力过低	发动机温度过高	充电电路故障	油箱内燃油已到最低液面	冷冻液不足	没有系好安全带
安全气囊处于故障状态	发动机控制系统故障	两侧车门未关闭	左侧车门未关闭	右侧车门未关闭	车门锁住开锁
儿童安全锁	前风窗玻璃刮水器	前风窗玻璃刮水器及洗涤器	后风窗玻璃刮水器及洗涤器	空气内循环	空气外循环
发动机舱开启	行李舱开启	冷风暖气风扇	地板及迎面出风	迎面出风	启动地板及前风窗玻璃吹风

图 2-4-1　常用汽车指示灯的含义

题 12　打开前雾灯开关，（如图所示）亮起。

答案：×

解析：此图案是打开“后”雾灯开关时亮起。

题 13　打开后雾灯开关，（如图所示）亮起。

答案：×

解析：此图案是打开“前”雾灯开关时亮起。

题 14　打开位置灯开关，（如图所示）亮起。

答案：√

题 15　发动机起动后仪表板上（如图所示）亮表示什么？

A. 发动机主油道堵塞

B. 发动机机油压力过低

C. 发动机曲轴箱漏气

D. 发动机机油压力过高

答案：B

题 16　机动车仪表板上（如图所示）亮表示发动机可能机油量不足。

答案：√

题 17　机动车 仪表板上（如图所示）亮表示发动机可能机油压力过高。

答案：×

解析：仪表板上此图案亮，表示发动机机油压力过低，不是“过高”。

题 18　机动车仪表板上（如图所示）亮表示什么？

A. 驻车制动解除

B. 行车制动器失效

C. 制动系统出现异常

D. 制动踏板没回位

答案：C

题 19　机动车仪表板上（如图所示）亮表示什么？

A. 防抱死制动系统故障

B. 驻车制动器处于解除状态

C. 行车制动系统故障

D. 安全气囊处于故障状态

答案：A

题 20　机动车仪表板上（如图所示）亮表示什么？

A. 防抱死制动系统出现故障

B. 驻车制动器处于解除状态

C. 行车制动系统出现故障

D. 驻车制动器处于制动状态

答案：D

题 21　机动车仪表板上（如图所示）亮，表示驻车制动器操纵杆可能没松到底。

答案：×

解析：仪表板上此图案亮，表示行车制动系统可能出现故障，不是“驻车制动器操纵杆可能没松到底”。

题 22　机动车仪表板上（如图所示）亮，表示行车制动系统可能出现故障。

答案：√

题 23　机动车仪表板上（如图所示）亮时，不影响正常行驶。

答案：×

解析：仪表板上此图案亮，表示行车制动系统可能出现故障，不能继续行驶。

题 24　机动车仪表板上（如图所示）亮时，防抱死制动系统处于打开状态。

答案：×

解析：仪表板上此图案亮，表示防抱死制动系统出现故障，不是“处于打开状态”。

题 25　机动车仪表板上（如图所示）亮时，表示驻车制动器处于制动状态。

答案：√

题 26　发动机起动后仪表板上（如图所示）亮表示什么？

A. 燃油泵出现异常或者故障
B. 发动机点火系统出现故障
C. 发动机供油系统出现异常
D. 油箱内燃油已到最低液面

答案：D

题 27　机动车仪表板上（如图所示）亮时，提醒发动机需要补充机油。

答案：×

解析：仪表板上此图案亮，表示油箱内燃油已到最低液面，不是“提醒发动机需要补充机油”。

题 28　行车中仪表板上（如图所示）亮表示什么？

A. 发动机温度过高
B. 发动机冷却系故障
C. 发动机润滑系故障
D. 发动机温度过低

答案：A

题 29　机动车仪表板上（如图所示）亮时，提醒发动机冷却液可能不足。

答案：√

题 30　机动车仪表板上（如图所示）亮时提醒发动机需要加注机油。

答案：×

解析：仪表板上此图案亮，提醒发动机冷却液可能不足，不是“提醒发动机需要加注机油”。

题 31　机动车仪表板上（如图所示）亮时表示什么？

A. 已开启前雾灯
B. 已开启前照灯近光
C. 已开启前照灯远光
D. 已开启后雾灯

答案：C

题 32　机动车仪表板上（如图所示）亮时表示什么？

A. 已开启后雾灯
B. 已开启前照灯近光
C. 已开启前照灯远光
D. 已开启前雾灯

答案：B

题 33　开启前照灯远光时仪表板上（如图所示）亮起。

答案：×

解析：开启前照灯“近”光时，仪表板上此图案亮起。

题 34　开启前照灯近光时仪表板上（如图所示）亮起。

答案：×

解析：开启前照灯“远”光时，仪表板上此图案亮起。

题 35　机动车仪表板上（如图所示）亮表示什么？

A. 没有系好安全带
B. 安全带出现故障
C. 安全带系得过松
D. 已经系好安全带

答案：A

题 36　机动车仪表板上（如图所示）亮时，提醒驾驶人座椅没调整好。

答案：×

解析：仪表板上此图案亮，表示没有系好安全带，不是“提醒驾驶人座椅没调整好”。

题 37　机动车仪表板上（如图所示）亮时，提醒驾驶人安全带插头未插入锁扣。

答案：√

题 38　危险报警闪光灯可用于下列什么场合？

A. 遇到道路拥堵时
B. 在道路上跟车行驶时
C. 机动车发生故障停车时
D. 引领后车行驶时

答案：C

题 39　机动车仪表板上（如图所示）亮表示什么？

A. 危险报警闪光灯闪烁
B. 右转向指示灯闪烁
C. 左转向指示灯闪烁
D. 车前后位置灯闪烁

答案：A

题 40　机动车发生故障时，（如图所示）闪烁。

答案：×

解析：机动车发生故障时，此图案不会自动闪烁。

题 41　开启危险报警闪光灯时，（如图所示）闪烁。

答案：√

题 42　机动车仪表板上（如图所示）亮表示什么？



A. 车前后位置灯亮起
B. 车前后示宽灯亮起
C. 左转向指示灯闪烁
D. 右转向指示灯闪烁

答案：D

题 43　机动车仪表板上（如图所示）亮表示什么？

A. 左转向指示灯闪烁
B. 车前后示宽灯亮起
C. 车前后位置灯亮起
D. 右转向指示灯闪烁

答案：A

题 44　打开左转向灯开关，（如图所示）亮起。

答案：×

解析：打开“右”转向灯开关，此图案才会亮起。

题 45　打开右转向灯开关，（如图所示）亮起。

答案：×

解析：打开“左”转向灯开关，此图案才会亮起。

题 46　机动车仪表板上（如图所示）亮表示什么？

A. 充电电流过大

B. 蓄电池损坏

C. 电流表故障

D. 充电电路故障

答案：D

题 47　机动车仪表板上（如图所示）亮表示什么？

A. 发动机舱开启

B. 燃油箱盖开启

C. 两侧车门开启

D. 行李舱开启

答案：C

题 48　机动车仪表板上（如图所示）这个符号表示什么？

A. 行李舱开启

B. 一侧车门开启

C. 发动机舱开启

D. 燃油箱盖开启

答案：A

题 49　机动车仪表板上（如图所示）这个符号表示什么？

A. 行李舱开启

B. 发动机舱开启

C. 燃油箱盖开启

D. 一侧车门开启

答案：B

题 50　机动车仪表板上（如图所示）一直亮表示什么？

A. 安全气囊处于工作状态

B. 安全带没有系好

C. 防抱死制动系统故障

D. 安全气囊处于故障状态

答案：D

题 51　机动车仪表板上（如图所示）亮表示什么？

A. 洗涤液不足

B. 制动液不足

C. 冷却系故障

D. 冷却液不足

答案：D

题 52　机动车仪表板上（如图所示）亮，提示发电机向蓄电池充电。

答案：×

解析：仪表板上此图案亮，表示充电电路故障，不是“提示发电机向蓄电池充电”。

题 53　机动车仪表板上（如图所示）亮，提示两侧车门未关闭。

答案：√

题 54　机动车仪表板上（如图所示）亮，提示左侧车门未关闭。

答案：×

解析：仪表板上此图案亮，提示右侧车门未关闭，不是“左侧”。

题 55　机动车仪表板上（如图所示）亮，提示右侧车门未关闭。

答案：×

解析：仪表板上此图案亮，提示左侧车门未关闭，不是“右侧”。

题 56　机动车仪表板上（如图所示）亮，提示行李舱开启。

答案：×

解析：仪表板上此图案亮，提示发动机舱开启，不是“行李舱开启”。

题 57　机动车仪表板上（如图所示）亮，提示发动机舱开启。

答案：×

解析：仪表板上此图案亮，提示行李舱开启，不是“发动机舱开启”。

题 58　机动车仪表板上（如图所示）一直亮，表示安全气囊处于工作状态。

答案：×

解析：仪表板上此图案一直亮，表示安全气囊处于故障状态，不是“处于工作状态”。

题 59　机动车仪表板上（如图所示）亮表示启用地板及前风窗玻璃吹风。

答案：√

题 60　机动车仪表板上（如图所示）一直亮，表示发动机控制系统故障。

答案：√

题 61　机动车仪表板上（如图所示）这个符号表示什么？

A. 远光灯开关
B. 近光灯开关
C. 车灯总开关
D. 后雾灯开关

答案：C

题 62　机动车仪表板上（如图所示）亮表示什么？

A. 空气内循环
B. 空气外循环
C. 迎面吹风
D. 风窗玻璃除霜

答案：B

题 63　机动车仪表板上（如图所示）亮表示什么？

A. 迎面出风
B. 空气外循环
C. 风窗玻璃除霜
D. 空气内循环

答案：D

题 64　机动车仪表板上（如图所示）这个符号表示什么？

A. 雪地起步模式
B. 空气循环
C. 空调制冷
D. 冷风暖气风扇

答案：D

题 65　机动车仪表板上（如图所示）亮表示什么？

A. 地板及迎面出风
B. 空气内循环
C. 空气外循环
D. 侧面及地板出风

答案：A

题 66　机动车仪表板上（如图所示）亮表示什么？

A. 侧面出风
B. 空气外循环
C. 迎面出风
D. 空气内循环

答案：C

题 67　（如图所示）这个符号的开关控制什么装置？

A. 前风窗玻璃除霜
B. 后风窗玻璃刮水器
C. 后风窗玻璃除霜
D. 前风窗玻璃刮水器

答案：D

题 68　（如图所示）这个符号的开关控制什么装置？

A. 前风窗玻璃除霜或除雾
B. 后风窗玻璃刮水器及洗涤器
C. 前风窗玻璃刮水器及洗涤器
D. 后风窗玻璃除霜或除雾

答案：C

题 69　（如图所示）这个符号的开关控制什么装置？

A. 前风窗玻璃刮水器及洗涤器
B. 后风窗玻璃除霜或除雾
C. 后风窗玻璃刮水器及洗涤器
D. 前风窗玻璃除霜或除雾

答案：C

题 70　（如图所示）这个符号的开关控制什么装置？

A. 两侧车窗玻璃
B. 电动车门
C. 车门锁住开锁
D. 儿童安全锁

答案：C

题 71　（如图所示）这个符号的开关控制什么装置？

A. 儿童安全锁
B. 两侧车窗玻璃
C. 电动车门
D. 车门锁住开锁

答案：A

（三）汽车操纵件

【考点归纳】汽车驾驶操纵机件主要有转向盘、离合器踏板、制动踏板、加速踏板、变速器操纵杆、驻车制动器操纵杆等，如图 2-4-2 所示。

【相关试题】

题 72　这是什么踏板？

A. 离合器踏板　B. 制动踏板
C. 驻车制动器　D. 加速踏板

答案：A

题 73　这是什么踏板？

A. 离合器踏板　B. 加速踏板
C. 制动踏板　D. 驻车制动器

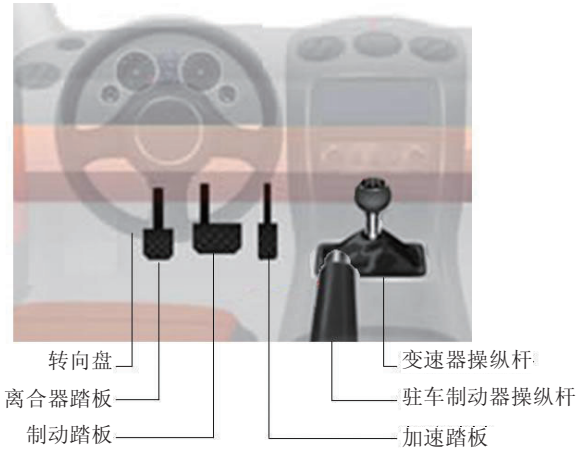

图 2-4-2　汽车操纵机件

答案：C

题 74　这是什么踏板？

A. 加速踏板　　B. 离合器踏板

C. 驻车制动器　　D. 制动踏板

答案：A

题 75　这是什么操纵装置？

A. 驻车制动器操纵杆

B. 节气门操纵杆

C. 变速器操纵杆

D. 离合器操纵杆

答案：C

题 76　这是什么操纵装置？

A. 节气门操纵杆

B. 变速器操纵杆

C. 离合器操纵杆

D. 驻车制动器操纵杆

答案：D

题 77　这种握转向盘的动作是正确的。

答案：×

解析：正确的握法是双手分别握在转向盘左右两侧的适当位置，题中握法是驾驶陋习。

（四）汽车开关

【考点归纳】汽车开关主要有点火开关和灯光、信号组合开关（含车灯总开关、变光开关、转向灯开关）、刮水器开关等。

1. 点火开关

点火开关用于接通或切断点火系统和部分电器设备，它还具有锁住转向器的功能。即将点火开关断开，拨出钥匙后可锁住转向器，使转向盘不能转动。轿车点火开关大多数安装在转向盘右下方，一般有四个档位，各档位的工作状态如图 2-4-3 所示。

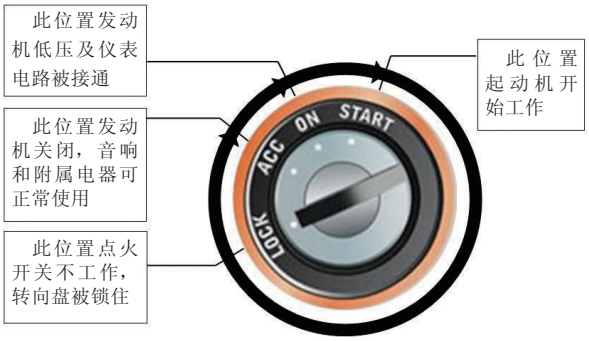

图 2-4-3　点火开关各档位的工作状态

2. 灯光、信号组合开关

灯光、信号组合开关包括车灯控制开关、防雾灯开关和转向信号灯开关，大多数安装在转向盘左下方转向柱上，用左手操作，各操作档位及工作状态如图 2-4-4 所示。

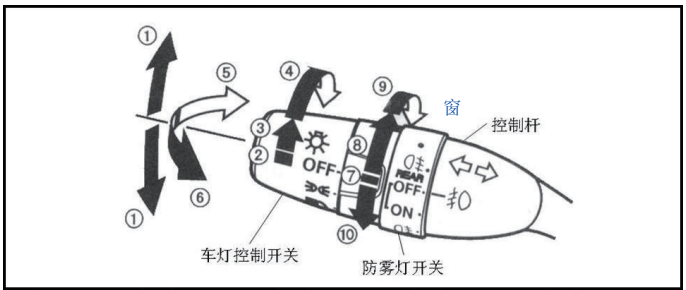

①	转向信号灯开	②	转向信号灯关	③	示宽灯及指示灯开	④	前照灯开	⑤	远光灯开
⑥	远光灯闪烁	⑦	雾灯关	⑧	前雾灯开	⑨	前、后雾灯开	⑩	后雾灯开

图 2-4-4　灯光、信号组合开关

3. 刮水器开关

刮水器开关是控制刮水器的操作装置，用来控制刮水器开启或停止。该开关安装在转向盘右下方转向柱上，用右手操作，如图 2-4-5 所示。

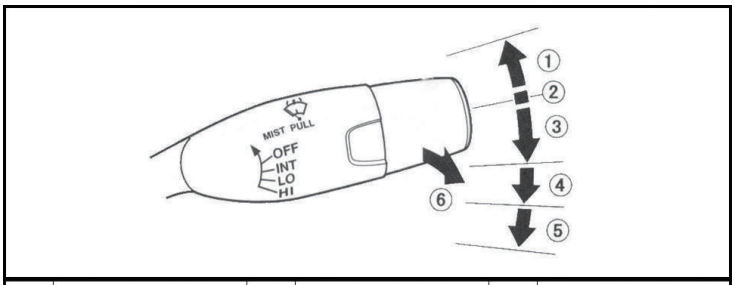

①	MIST（手动模式）	②	OFF（停）	③	INT（间歇刮水）
④	LO（低速刮水）	⑤	HI（高速刮水）	⑥	风 玻璃洗涤器打开

图 2-4-5　刮水器开关

4. 除雾器开关

除雾器是用于风窗玻璃除雾的装置。除雾器开关如图 2-4-6 所示。

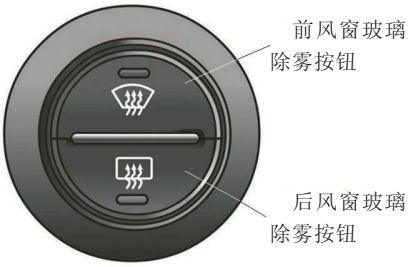

图 2-4-6　除雾器开关

【相关试题】

题 78　这是什么操纵装置？

A. 空调开关　　B. 点火开关

C. 刮水器开关　　D. 灯光开关

答案：B

题 79　将点火开关转到 ACC 位置发动机工作。

答案：×

解析：将点火开关转到 ACC 位置音响等电器可用，发动机不工作。

题 80　点火开关在 ON 位置，车用电器不能使用。

答案：×

解析：将点火开关在 ON 位置，车用电器可以使用。

题 81　点火开关在 LOCK 位置拔出钥匙转向盘会锁住。

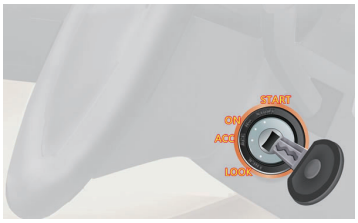

答案：√

题 82　点火开关在 START 位置起动机起动。

答案：√

题 83　这是什么操纵装置？

A. 倒车灯开关
B. 刮水器开关
C. 危险报警闪光灯开关
D. 灯光、信号组合开关

答案：D

题 84　提拉这个开关控制机动车哪个部位？

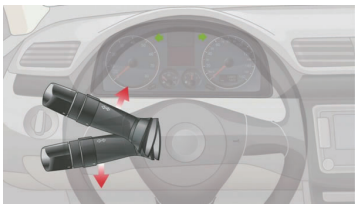

A. 左右转向灯　B. 倒车灯
C. 示廓灯　D. 报警闪光灯

答案：A

题 85　旋转开关这一档控制机动车哪个部位？

A. 近光灯　B. 前后雾灯
C. 远光灯　D. 左右转向灯

答案：B

题 86　将转向灯开关向上提，左转向灯亮。

答案：×

解析：将转向灯开关向上提，右转向灯亮。记住：转向灯开关操作是上右下左。

题 87　将转向灯开关向下拉，右转向灯亮。

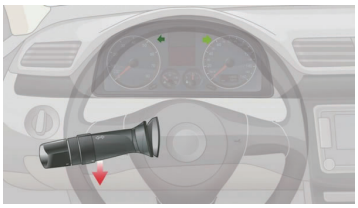

答案：×

解析：将转向灯开关向下拉，左转向灯亮。

题 88　灯光开关旋转到这个位置时，全车灯光点亮。

答案：×

解析：灯光开关旋转到图中位置时，前后位置灯、尾灯及仪表板照明灯点亮，前照灯不亮，所以不能说全车灯光点亮。

题 89　灯光开关在该位置时，前雾灯点亮。

答案：√

题 90　灯光开关在该位置时，后雾灯点亮。

答案：√

题 91　这是什么操纵装置？

A. 刮水器开关　B. 前照灯开关

C. 转向灯开关　D. 除雾器开关

答案：A

题 92　这个开关控制机动车哪个部位？

A. 风窗玻璃除雾器

B. 风窗玻璃刮水器

C. 危险报警闪光灯

D. 照明、信号装置

答案：B

题 93　上下搬动这个开关前风窗玻璃刮水器开始工作。

答案：√

题 94　这是什么操纵装置？

A. 转向灯开关　B. 前照灯开关
C. 刮水器开关　D. 除雾器开关

答案：D

题 95　按下这个开关，后风窗玻璃除霜器开始工作。

答案：×

解析：除雾器开关有两个按钮，上方的按钮是前风窗玻璃除雾开关，下方的按钮是后风窗玻璃除雾开关。图中按下的是前风窗玻璃除雾开关，应该是前风窗玻璃除霜器开始工作。

（五）汽车安全装置

【考点归纳】汽车安全装置包括安全头枕、安全带、安全气囊、防抱制动系统等，其功用见表 2-4-2。

表 2-4-2　汽车安全装置的种类与功用

序　号	种　类	功　用	图　示
1	安全头枕	汽车安全头枕在为驾乘人员提供舒适感觉的同时，在发生交通事故时可以更好地保护驾乘人员的颈部安全。譬如在发生汽车追尾等碰撞事故时，会产生巨大冲击力，使驾乘人员的头部剧烈后仰，这种情况下脆弱的颈部很容易受伤，甚至造成致命的伤害	
2	安全带	汽车安全带的主要功用是当机动车发生碰撞时减轻驾乘人员伤害。现代汽车的速度很快，一旦发生碰撞，车身停止运动，而乘客身体由于惯性会继续向前运动，在车内与车身撞击，严重时可能把风窗玻璃撞碎而向前飞出窗外。因此，为防止撞车时发生类似的伤害，客车驾驶员和前排的乘客必须系上安全带，以便发生交通事故时，安全带对人起到缓冲的作用，防止出现二次伤害	

（续）

序　号	种　类	功　用	图　示
3	安全气囊	安全气囊是一种保护驾乘人员安全的辅助装置。当汽车发生碰撞时，安全气囊可迅速弹出，在乘员和汽车之间形成一个充满气体的气袋，从而隔绝乘员和汽车发生直接接触。利用气囊达到缓和乘员所受冲击力并吸收碰撞时产生的能量的作用，避免强烈碰撞造成严重的伤害，减轻人员受到撞击伤害的程度和概率。机动车发生正面碰撞时，安全气囊加上安全带的双重保护才能充分发挥作用	
4	ABS 系统	汽车 ABS，即防抱制动系统，其主要功用是改善整车的制动性能，提高行车安全性，防止在制动过程中车轮抱死（即停止滚动），从而保证驾驶员在制动时还能控制方向，并防止后轴侧滑。ABS 系统在紧急制动时可以最大限度发挥制动器效能，并在提供最大制动力的同时能使车前轮保持转向能力	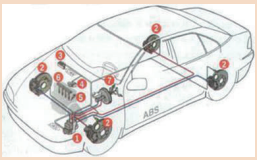

【相关试题】

题 96　安全头枕在发生追尾事故时，能有效保护驾驶人的什么部位？

A. 腰部　　B. 胸部

C. 头部　　D. 颈部

答案：D

题 97　安全头枕用于在发生追事故时保护驾驶人的头部不受伤害。

答案：×

解析：安全头枕保护驾驶人的颈部不受伤害，不是“头部”。

题 98　机动车发生碰撞时，座椅安全带的主要作用是什么？

A. 保护驾乘人员颈部

B. 保护驾乘人员胸部

C. 减轻驾乘人员伤害

D. 保护驾乘人员腰部

答案：C

题 99　设有安全带装置的车辆，应要求车内乘员系安全带。

答案：√

题 100　机动车发生正面碰撞时，安全气囊加上安全带的双重保护才能充分发挥作用。

答案：√

题 101　机动车在发生碰撞时，安全带可以减轻驾乘人员伤害。

答案：√

题 102　机动车在紧急制动时 ABS 系统会起到什么作用？

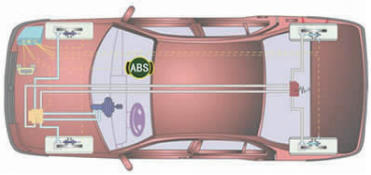

A. 切断动力输出 B. 自动控制方向

C. 减轻制动惯性 D. 防止车轮抱死

答案：D

题 103　防抱死制动系统（ABS）在什么情况下可以最大限度发挥制动

器效能？

A. 间歇制动　　B. 持续制动

C. 紧急制动　　D. 缓踏制动踏板

答案：C

题 104　机动车紧急制动时，ABS 系统在提供最大制动力的同时能使车前轮保持转向能力。

答案：√

题 105　装有 ABS 系统的机动车在冰雪路面上会最大限度缩短制动距离。

答案：×

解析： ABS 系统的主要作用是防止车轮抱死后出现侧滑，不具有缩短制动距离的功能。

题 106　驾驶有 ABS 系统的机动车在紧急制动的同时转向可能会发生侧滑。

答案：√

题 107　安装防抱死制动装置（ABS）的机动车紧急制动时，可用力踏制动踏板。

答案：√

题 108　安装防抱死制动装置（ABS）的机动车制动时，制动距离会大大缩短，因此不必保持安全车距。

答案：×

解析： 安装 ABS 系统的车辆，没有缩短制动距离的功能。

题 109　安全气囊是一种什么装置？

A. 防抱死制动系统

B. 电子制动力分配系统

C. 辅助驾乘人员保护系统

D. 驾驶人头颈保护系统

答案：C

题 110　正面安全气囊与什么配合才能充分发挥保护作用？

A. 防抱死制动系统

B. 座椅安全带

C. 座椅安全头枕

D. 安全玻璃

答案：B

附录

2015 年科目一考试有什么变化

一、考试规则变化

2015 年机动车驾驶人科目一考试规则与 2014 年一样，仍按照《公安部 123 号令》执行。目前执行的考试规则如下：考试时从题库中按比例随机抽取 100 题进行考试，每题 1 分，限时 45 分钟，成绩 90 分以及 90 分以上为合格。

二、考试题库变化

2015 年机动车驾驶人科目一考试小车题库 973 题，货车题库 1041 题，客车题库 1030 题。

三、考试题型变化

2015 年科目一试题题型为单选题、判断题，没有多选题、动画题。

四、补考变化

考试不合格可当场再考 1 次，不收补考费用；如再不合格，则由驾校预约下次补考时间，需要缴纳补考费用，一共有 5 次考试机会（即 10 场考试机会）。

读者信息反馈表

感谢您购买《新驾考通关宝典：轻松拿下科目一》一书。为了更好地为您服务，有针对性地为您提供图书信息，方便您选购合适图书，我们希望了解您的需求和对我们图书的意见和建议，愿这小小的表格为我们架起一座沟通的桥梁。

姓　　名		所在单位名称			
性　　别		所从事工作（或专业）			
通信地址			邮　　编		
办公电话		移动电话			
E-mail					

1．您选择图书时主要考虑的因素：（在相应项前面画√）

（　）出版社　（　）内容　（　）价格　（　）封面设计　（　）其他

2．您选择我们图书的途径（在相应项前面画√）

（　）书目　（　）书店　（　）网站　（　）朋友推介　（　）其他

希望我们与您经常保持联系的方式：

☐电子邮件信息　☐定期邮寄书目

☐通过编辑联络　☐定期电话咨询

您关注（或需要）哪些类图书和教材：

您对我社图书出版有哪些意见和建议（可从内容、质量、设计、需求等方面谈）：

您今后是否准备出版相应的教材、图书或专著（请写出出版的专业方向、准备出版的时间、出版社的选择等）：

非常感谢您能抽出宝贵的时间完成这张调查表的填写并回寄给我们，我们愿以真诚的服务回报您对机械工业出版社技能教育分社的关心和支持。

请联系我们——

地　　址　北京市西城区百万庄大街22号　机械工业出版社技能教育分社

邮　　编　100037

社长电话　（010）88379080　88379083　68329397（带传真）

E-mail　jnfs@cmpbook.com





地址：北京市百万庄大街22号
邮政编码：100037
电话服务
服务咨询热线：010-88361066
读者购书热线：010-68326294
010-88379203
网络服务
机工官网：www.cmpbook.com
机工官博：weibo.com/cmp1952
金书网：www.golden-book.com
教育服务网：www.cmpedu.com
封面无防伪标均为盗版

机械工业出版社微信服务号

上架指导 工业技术／交通运输／汽车驾驶
ISBN 978-7-111-49388-4
策划编辑◎陈玉芝／封面设计◎张静

ISBN 978-7-111-49388-4
9 787111 493884 >
定价：39.80元